دولـة الإمارات العربيـة المتحدة
مدرسة رأس الخيمة الحديثة الخاصة

الصف الثالث الابتدائي | إختبار موهوبين | المعلمة : ايناس فؤاد

# الأسئلة التجريبية

١ علاقة الجزء بالكل : جفن : عين

أ ظفر: أصبع.
ب يد: رأس.
جـ رجل: صدر.
د أنف: فم.

٢ علاقة فئات خاصة سيارة: .. ؟ ..

أ طائرة
ب قطار
جـ زورق
د غواصة

٣ ما الشكل الذي يملأ الفراغ ليعطي علاقة مشابهة :

؟

أ
ب
جـ
د

LIVEWORKSHEETS

دولـة الإمارات العربيـة المتحدة
مدرسة رأس الخيمة الحديثة الخاصة

٤- أي الخيارات يعطي نفس العلاقة بين النقاط السوداء والمضلع في رأس السؤال :

أ 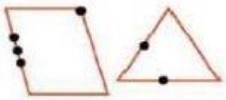

ب 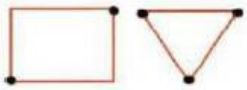

جـ 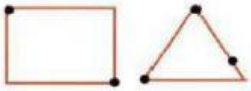

د 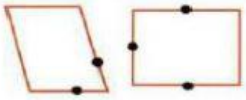

٥- أكمل فراغ السلسلة بما يناسب الاختيارات

| | | | |
|---|---|---|---|
| ؟ | شهر | 12 | ١ |

أ يوم  ب أسبوع  جـ سنة  د عقد

٦- ما الكلمة التي تملأ الفراغ لتعطي علاقة مشابهة لما في داخل الصندوق اليمن

| | | | |
|---|---|---|---|
| ؟ | بيت | إطار | صورة |

أ جدار.  ب سور.

جـ باب.  د سقف.

٧-

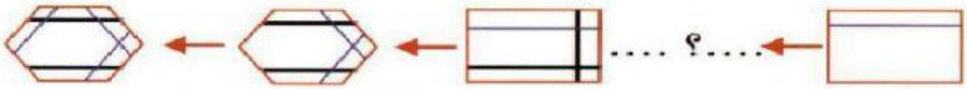


أ

ب 

جـ 

د 

LIVEWORKSHEETS

٨ - ذهبت إلى المزرعة فرأيت مجموعة من الخرفان يمتلكون سوياً 28 رجلاً و 14 عيناً ، فما عدد الخرفان التي رأيتها؟

أ 7
ب 14
جـ 21
د 42

٩ - ما الكلمة التي تملأ الفراغ لتعطي علاقة مشابهة لما في تحت الخط

| | | | | | |
|---|---|---|---|---|---|
| وردة | عطش | ؟ | إنسان | تنفس | حياة |

أ قطف
ب لون
جـ اقتلاع
د ذبول

١٠ - اختر الإجابة التي تتناسب مع محتوى السؤال.

يذهب ياسر مشيًا على الأقدام عصر كل يوم خميس إلى السوبر ماركت القريب من منزله، حيث يشتري الفاكهة الطازجة، ثم يتوجه إلى النادي الرياضي ليسبح مدة ساعة واحدة.

أ يستغرق وقت التسوق مدة ساعة كل يوم خميس
ب سوف ينضم ياسر إلى فريق المدرسة في السباحة.
جـ يشتري ياسر الفاكهة عصر كل يوم خميس.
د يذهب ياسر إلى النادي الرياضي كل يوم.

١١ - ما الكلمة التي تملأ الفراغ لتعطي علاقة مشتركة مع ما بداخل الصندوق الأيمن

| | |
|---|---|
| نمر | ؟ |

أ غزال
ب فأر
جـ فهد
د أرنب

LIVEWORKSHEETS

١٢ - اختر الإجابة التي تتناسب مع محتوى مقدمة السؤال :

عبدالله أطول من محمد الذي هو أقصر من خالد، وأطول من محمود، فأي الأربعة أقصر؟

أ عبدالله ب محمد جـ خالد د محمود

١٣ - حدد المقصود مما تحته خط وفقاً لمحتوى العبارة ؟

زرع مصطفى بعض الأعشاب الضرورية للطهي، مثل: النعناع والريحان والسنّوت؛ وعليه فإن مصطفى استخدم السنّوت:

أ لإعداد طعامه. ب لتعليف غنمه.

جـ لتزيين بيته. د لغسل ثيابه.

١٥ - إذا كان عند محمد 21 حمامة و 7 دجاجات، فما عدد الطيور التي عنده؟

أ 26 ب 28 جـ 30 د 32

١٦ - ما النقطة التي تمثل محور الارتكاز؟

أ ١ ب ٢

جـ ٣ د ٤

LIVEWORKSHEETS

١٧ - أكمل الشكل الناقص لسلسلة الأشكال الآتية :

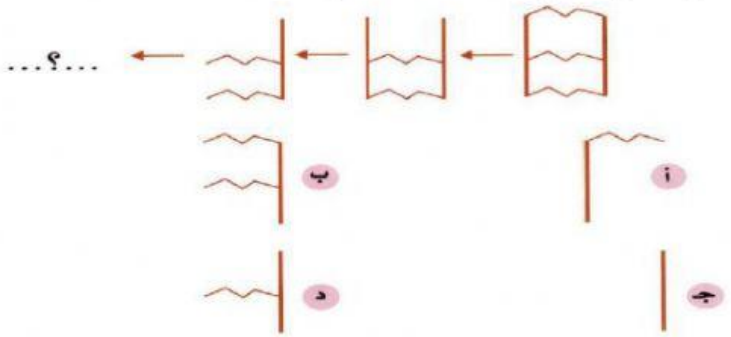


١٨ - أي المواد الآتية يسمح للكهرباء بالمرور بين البطارية والمصباح؟

أ السلك النحاسي.
ب القضيب الخشبي.
جـ الخيط القطني.
د أنبوب المطاط.

LIVEWORKSHEETS