الهدف	ما خواص أشباه الفلزات وما استخداماتها؟	
اسم الطالبة - الصف		السابع /

1 **أين توجد أشباه الفلزات في الجدول الدوري؟**

A. في الصف السفلي

B. بين الفلزات واللافلزات

C. على الجانب الأيمن

D. على الجانب الأيسر وفي الوسط

2 **عناصر تجمع بين الخواص الكيميائية والفيزيائية لكل من الفلزات واللافلزات؟**

A. الفلزات.

B. أشباه الفلزات.

C. اللافلزات.

3 **عنصر يكون موصلاً جيداً للكهرباء في بعض الأحيان، و في أحيان أخرى يكون عازلاً جيداً ؟**

A. الفلز

B. لا فلز

C. شبه الفلز

4 **أكثر أشباه الفلزات توافراً في الكون، هو:**

A. الهيدروجين

B. السيليكون

C. الأكسجين

D. الألمنيوم

5 **خاصية تتميز بها أشباه الفلزات:**

A. تلمع.

B. باهتة.

C. شبه موصلات.

D. هشة.

almhiri

LIVEWORKSHEETS

6 العنصر الذي يتفاعل مع الفلزات لتكوين الملح هو:

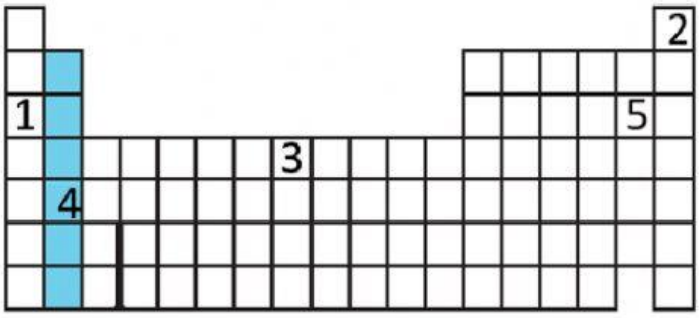

A. العنصر رقم 1.
B. العنصر رقم 2.
C. العنصر رقم 3.
D. العنصر رقم 4.
E. العنصر رقم 5.

7 العنصر الذي لا يتفاعل بسهولة مع العناصر الأخرى هو:

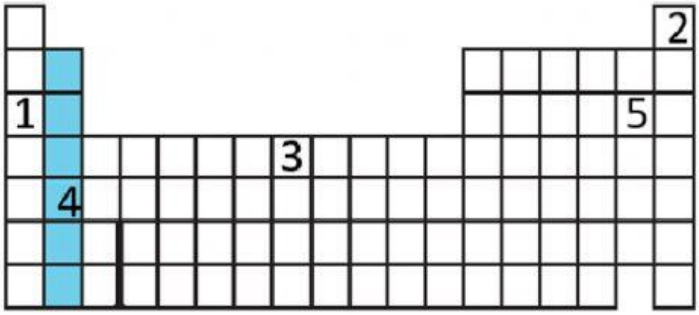

A. العنصر رقم 1.
B. العنصر رقم 2.
C. العنصر رقم 3.
D. العنصر رقم 4.
E. العنصر رقم 5.

8 العنصر الذي يتفاعل بشدة مع الأكسجين والماء هو:

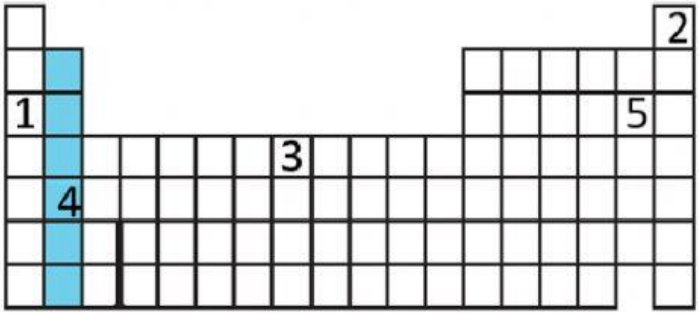

A. العنصر رقم 1.
B. العنصر رقم 2.
C. العنصر رقم 3.
D. العنصر رقم 4.
E. العنصر رقم 5.

9 عنصر يتميز بالقوة والصلابة ومقاوم للتآكل ويستخدم للبناء هو:

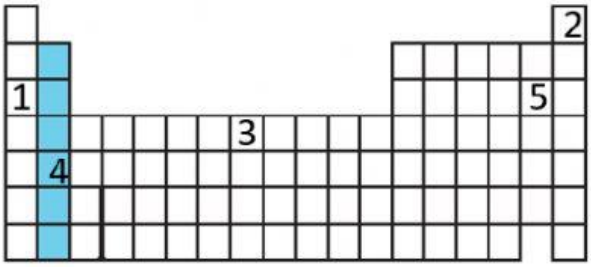

A. العنصر رقم 1.
B. العنصر رقم 2.
C. العنصر رقم 3.
D. العنصر رقم 4.

LIVEWORKSHEETS

10 عنصر ينتمي إلى مجموعة **الفلزات القوية الأرضية هو:**

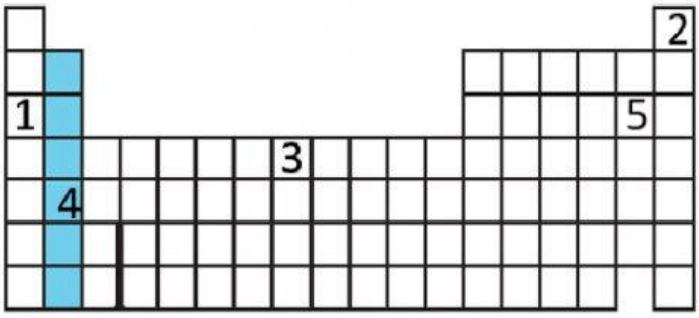

A. العنصر رقم 1.

B. العنصر رقم 2.

C. العنصر رقم 3.

D. العنصر رقم 4.

E. العنصر رقم 5.

11 **لماذا لا يُستخدم أحد عناصر اللافلزات للبناء؟**

A. لأنها تتميز بأنها موصلة للكهرباء.

B. لأنها تتميز بأنها باهتة.

C. لأنها تتميز بالهشاشة.

D. لأنها تتميز بالصلابة.

12 **أي مما يلي لديه القدرة على العمل كشبه موصل؟**

A. النحاس.

B. السيليكون.

C. الكربون.

D. الفضة.

13 **أي مما يلي يُستفاد منه في الأجهزة الإلكترونية كالكومبيوتر والتلفاز و الخلايا الشمسية؟**

A. النحاس.

B. السيليكون.

C. الكربون.

D. الفضة.

14 **أي مما يلي يستخدم في إزالة عسر الماء و مساحيق الغسيل ويلمع باللون الأخضر المتوهج في الألعاب النارية؟**

A. النحاس.

B. السيليكون.

C. الكربون.

D. البورون.

LIVEWORKSHEETS