Họ và tên học sinh: .....

KIỂM TRA ĐÁNH GIÁ

BÀI: HÌNH CÓ TRỤC ĐỐI XỨNG

Câu 1: ***Em hãy chọn những hình có trục đối xứng trong các hình sau:***



LIVEWORKSHEETS

Câu 2: ***Quan sát cẩn thận các hình. Em hãy nhấp chọn vào hình vẽ ở cột B để hoàn thành với một nửa ở cột A.***

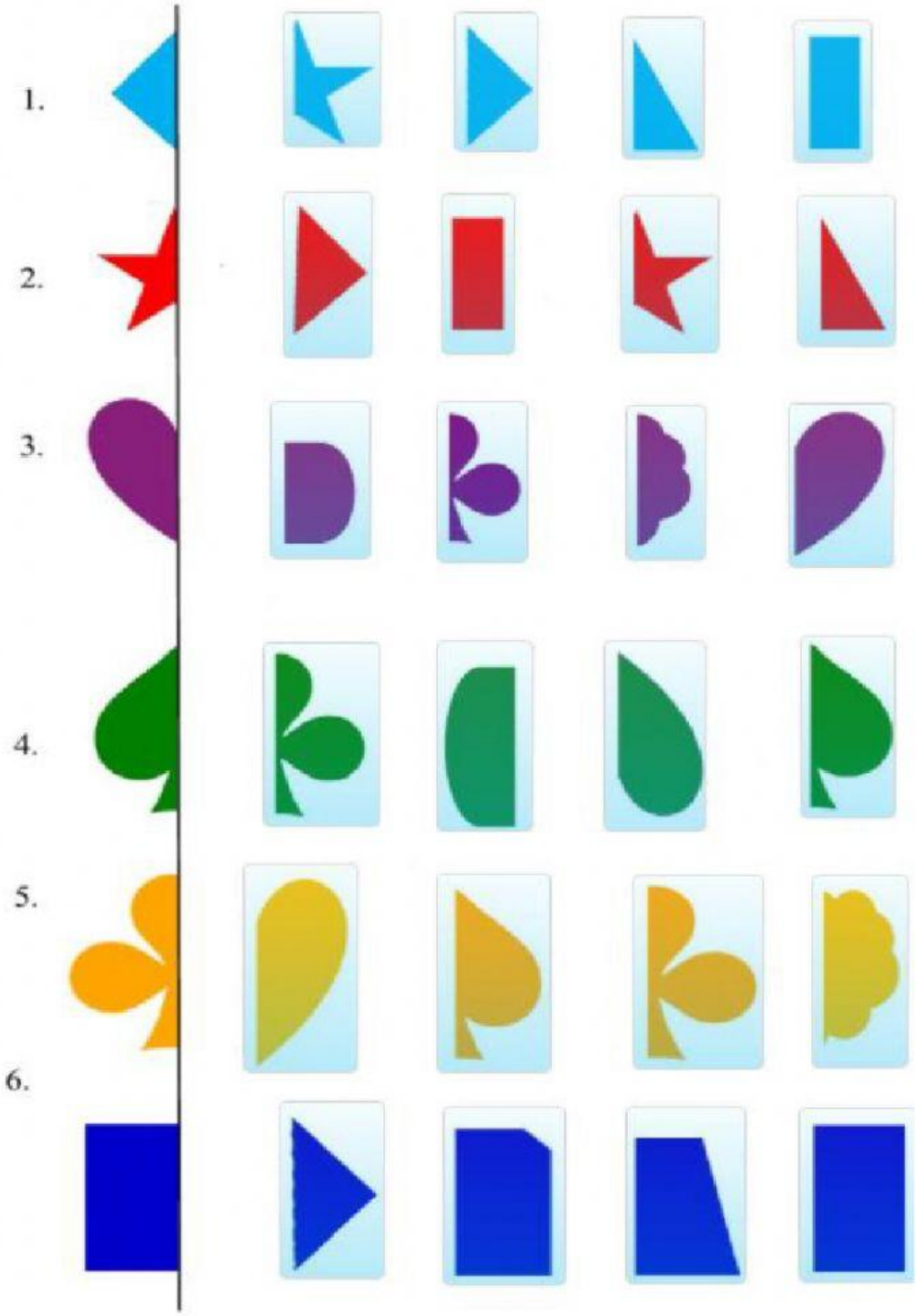

LIVEWORKSHEETS

Câu 3: ***Em hãy vẽ trục đối xứng của các hình dưới đây và cho biết hình đó có bao nhiêu trục đối xứng vào chỗ trống?***

(Em hãy rê chuột vào hình để xuất hiện bút vẽ và nhấp chuột vào ô trống để điền đáp án)

A.

B.

C.

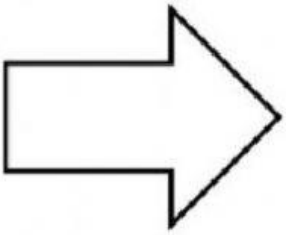

D.

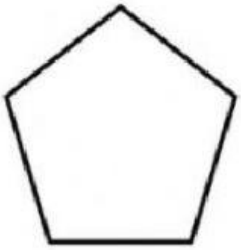

E.

F.



G.

H.

I.



LIVEWORKSHEETS

Câu 4: ***Em hãy tick chọn những hình có trục đối xứng trong các hình sau:***

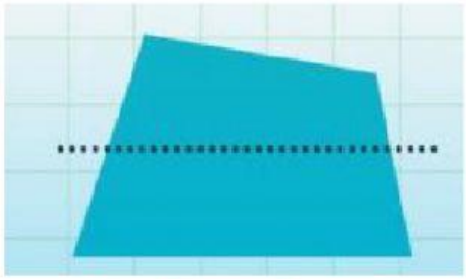

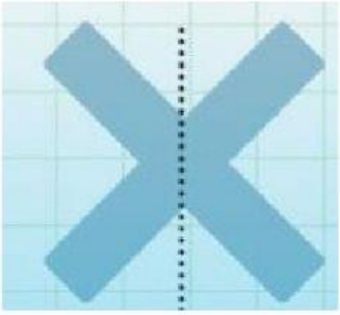

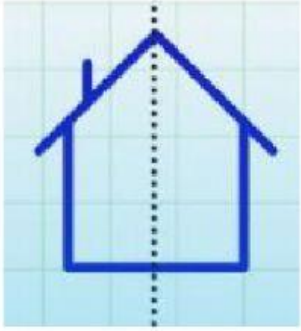

Câu 5: ***Hình nào dưới đây chỉ có 1 trục đối xứng?***

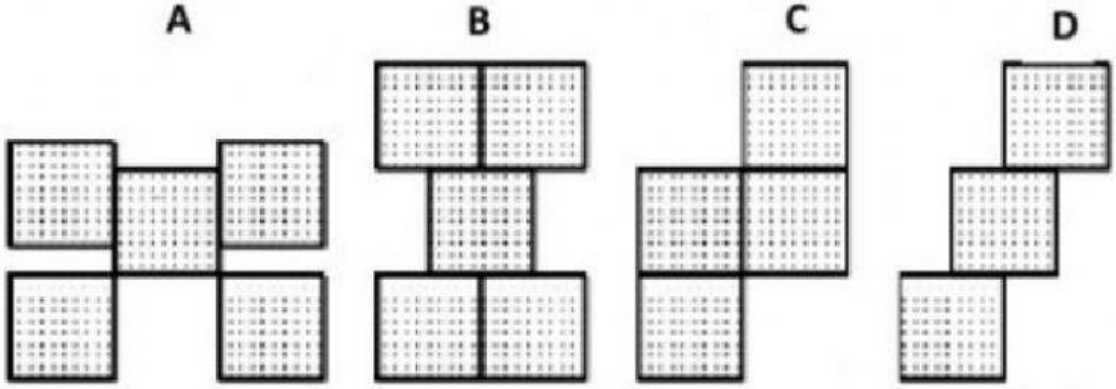

LIVEWORKSHEETS

Câu 6: ***Em hãy hoàn thành hình sau bằng cách ghép các ô vuông màu xanh vào bức hình cho phù hợp.***



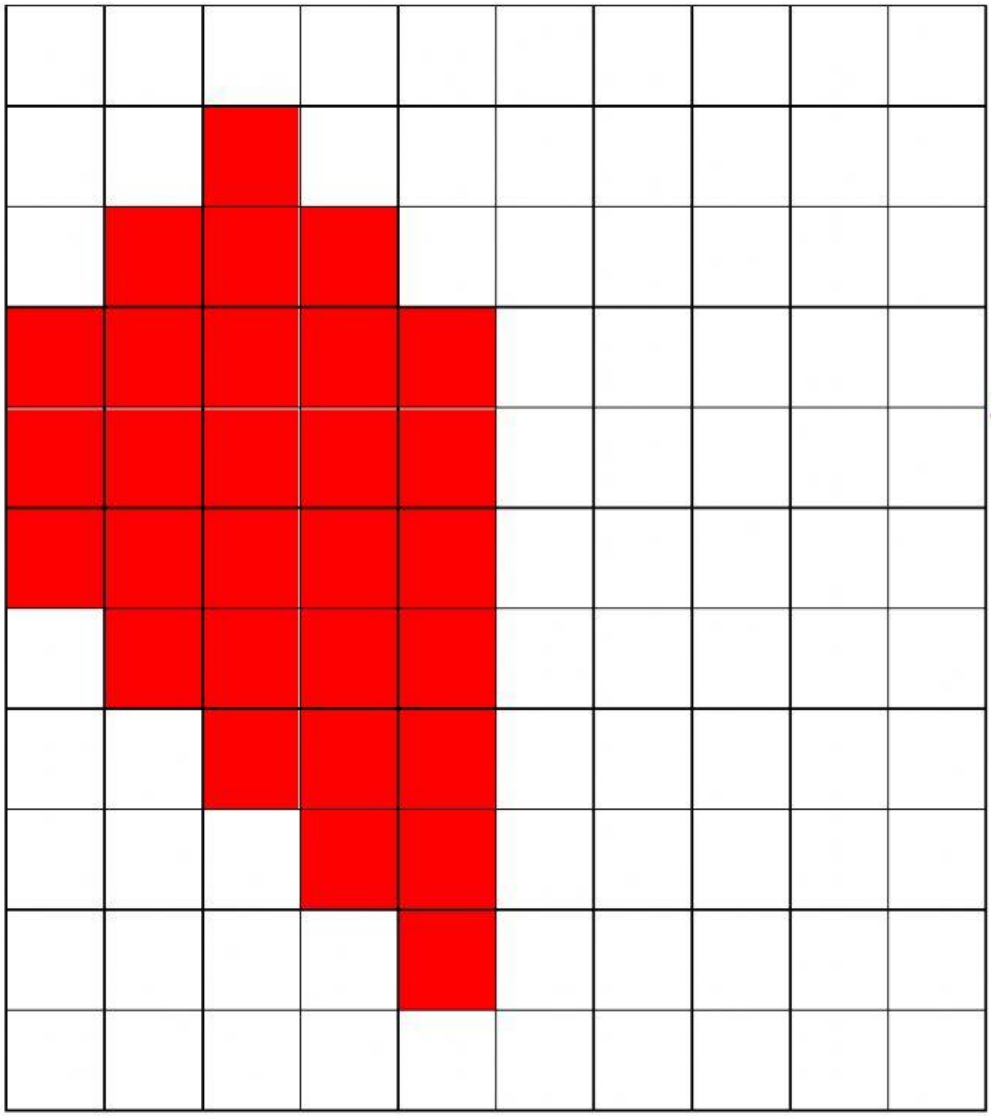

LIVEWORKSHEETS

Câu 7: ***Em hãy kéo thả các hình sau vào cột thích hợp:***

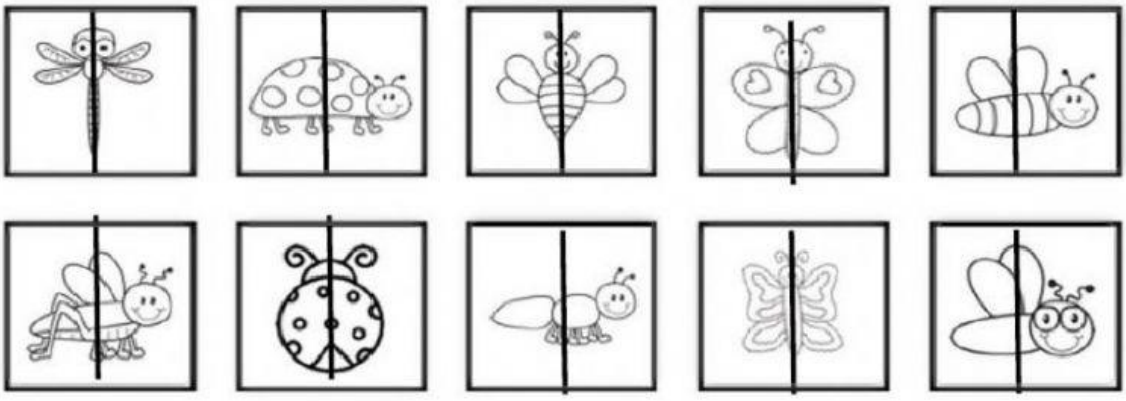

HÌNH CÓ TRUC ĐỐI XỨNG	HÌNH KHÔNG CÓ TRỤC ĐỐI XỨNG

LIVEWORKSHEETS

Câu 8: ***Em hãy chọn những hình thích hợp dưới đây để ghép vào các hình đã cho.***



LIVEWORKSHEETS