SOAL LATIHAN AKM NUMERASI 2

1. Perhatikan bacaan berikut

Pak Bani mempunyai usaha membuat satai telur puyuh. Selain disetorkan ke warung-warung, Pak Bano juga menerima pesanan. Hari ini, Pak Bani mendapat pesanan 2 jenis satai telur puyuh seperti gambar berikut

Satai A

Satai B

Jika pak Bani mempunyai stok telur puyuh sebanyak 120 butir, berapa tusuk satai uang dapat dibuat oleh pak Bani?

Tentukan benar atau salah pernyataan di bawah ini! Pilihan jawaban lebih dari satu.

Pernyataan	Benar/Salah
Satai A sebanyak 15 tusuk dan satai B sebanyak 20 tusuk	
Satai A sebanyak 20 tusuk dan satai B sebanyak 15 tusuk	
Satai A sebanyak 18 tusuk dan satai B sebanyak 15 tusuk	
Satai A sebanyak 18 tusuk dan satai B sebanyak 16 tusuk	

LIVEWORKSHEETS

2. Perhatikan data populasi ayam kampung di empat kabupaten di Jawa Tengah pada tahun 2020 berikut!

Kabupaten	Jumlah Ayam Kampung (Ekor)
Purworejo	625.000
Wonosobo	965.000
Magelang	985.000
Boyolali	780.000

Bagian diagram gambar manakah yang sesuai dengan data di atas?

Tentukan benar atau salah pernyataan di bawah ini! Pilihan jawaban lebih dari satu.

Kabupaten	Gambar	Benar/Salah
Purworejo	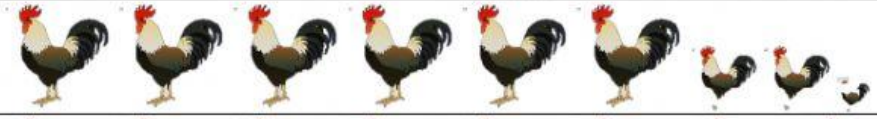	
Wonosobo		
Magelang		
Boyolali		

Keterangan:

Mewakili 100 ribu ekor

Mewakili 10 ribu ekor

Mewakili 5 ribu ekor

LIVEWORKSHEETS