PRIMARNE DJELATNOSTI NIZINSE HRVATSKE

-nastavni list za vježbu i formativno vrednovanje-

Fotografije prikazuju oblike poljoprivredne djelatnosti u nizinskoj Hrvatskoj. Označi one fotografije koje prikazuju intenzivnu poljoprivrednu proizvodnju.

Geografska karta prikazuje poljoprivredne regije Hrvatske.

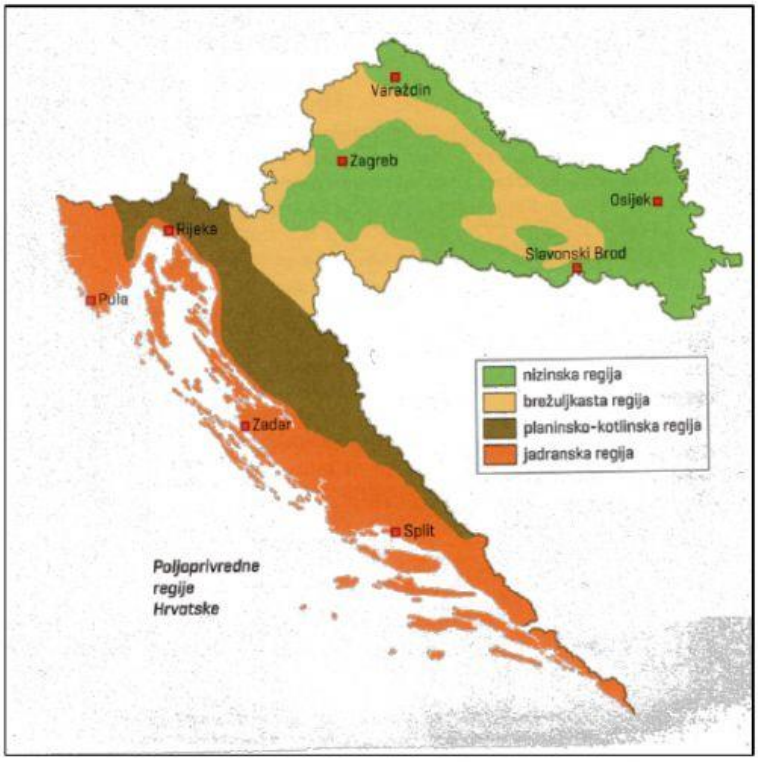

Koristeći geografski atlas napiši kojoj poljoprivrednoj regiji pripadaju navedena hrvatska područja.

Baranja	.....	regija
Gorski Kotar	.....	regija
Hr. Zagorje	.....	regija
Istra	.....	regija
Kordun	.....	regija
otok Pag	.....	regija
Podravina	.....	regija
Posavina	.....	regija
Slavonsko gorje	.....	regija

LIVEWORKSHEETS

Fotografije prikazuju neke značajne poljoprivredne kulture nizinske Hrvatske. U kućice ispod fotografije upiši ime poljoprivredne kulture.

Poljoprivredne kulture iz prethodnog zadaka razvrstaj po područjima njihova uzgoja, tako da u prazne kućice pored imena područja upišeš ime poljoprivredne kulture koja se tamo najviše uzgaja.

Hrvatsko Zagorje .....

Istočnohrvatska ravnica .....

Međimurje .....

okolica Bjelovara .....

okolica Županje .....

Požeška kotlina i Podravina .....

Karta prikazuje značajnija vinogradarska područja nizinske Hrvatske. U prazne kućice upiši njihova imena.

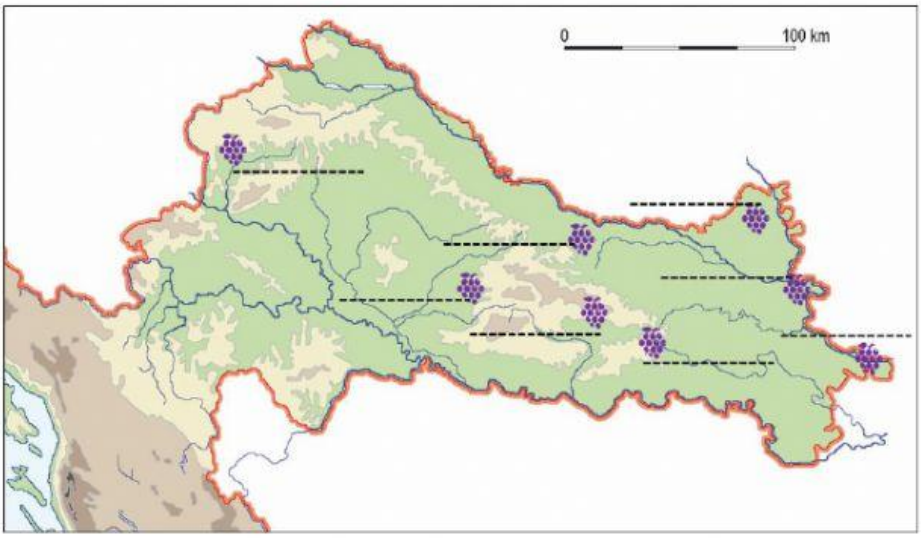

LIVEWORKSHEETS

Karta prikazuje značajnija ribnjačarstva nizinske Hrvatske. U prazne kućice upiši njihova imena.

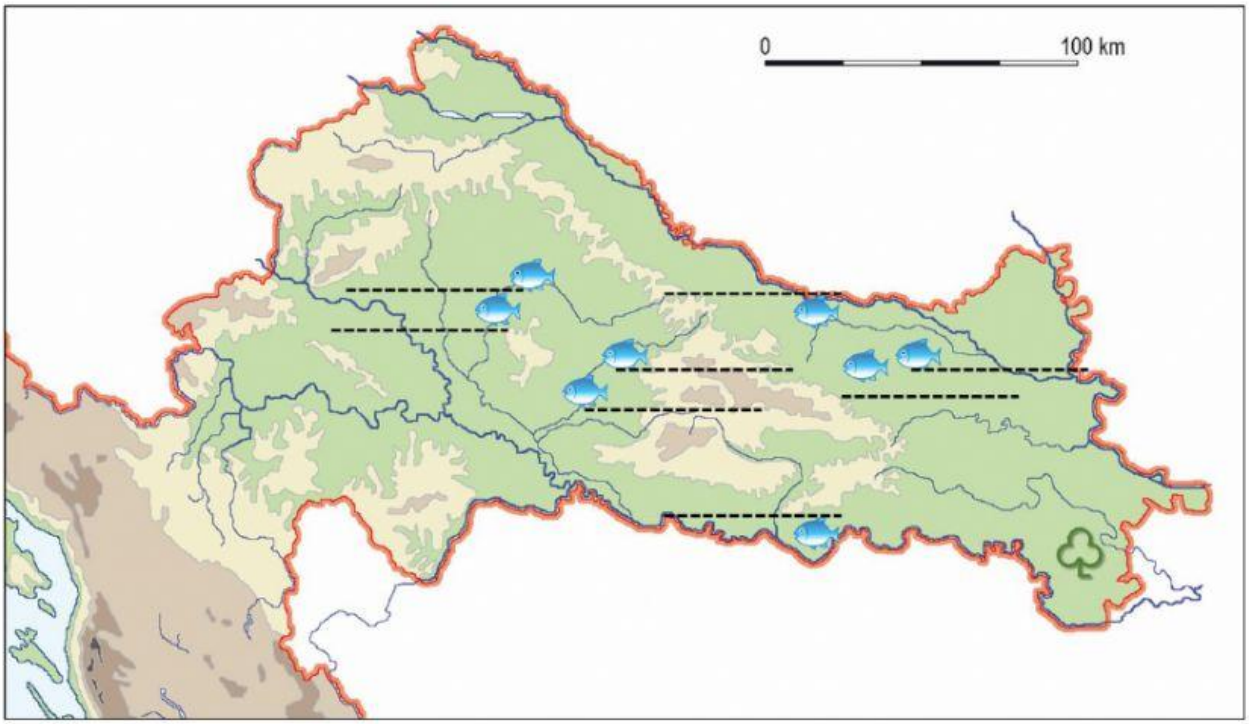

Na karti je znakom (♣) označena najpoznatija šuma hrasta lužnjaka u Hrvatskoj. Napiši kako se ta šuma naziva.

Ta šuma naziva se .....

LIVEWORKSHEETS