

பெயர் :

வகுப்பு :மூன்றாம் வகுப்பு

பாடம் : கணக்கு

வினாடி வினா- 7

அடுத்த வடிவம் எது?

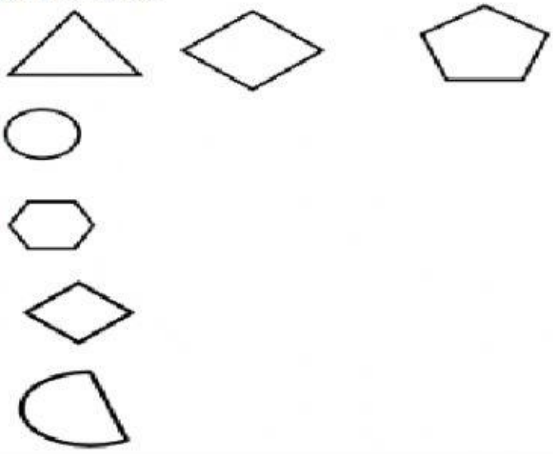

அ)

ஆ)

இ)

ஈ)

அடுத்து வரும் வடிவத்தைக் கண்டுபிடி:

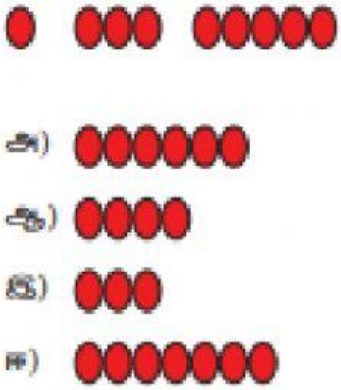

அ)

ஆ)

இ)

ஈ)

அமைப்பில் அடுத்து வரும் எண்ணைக் கண்டுபிடி:

1 . 13 . 135 . 1357 . _____

அ) 1356

ஆ) 13578

இ) 13567

ஈ) 13579

கீழே கொடுக்கப்பட்ட எந்த வடிவம் கிடைமட்ட சமச்சீர் தன்மையைக்கொண்டுள்ளது?

அ)

ஆ)

இ)

ஈ)

கீழே கொடுக்கப்பட்ட படங்களில் எது வளரும் அமைப்பைக் குறிக்கும்?

அ)

ஆ)

இ)

ஈ)

LIVEWORKSHEETS