PRAKTIS

2.1 Pernafasan Manusia

A Kenal pasti dan tuliskan bahagian badan yang terlibat dengan pernafasan manusia. (TP1) 6

1.

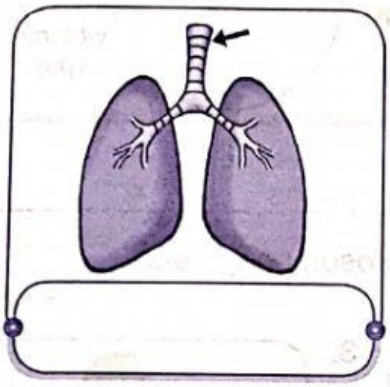

2.

3.

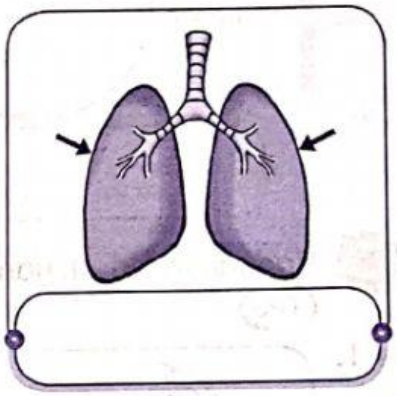

B Lengkapkan tempat kosong dengan laluan udara yang betul. (TP2) 12

1. Menarik nafas → ____ → ____ → ____

2. Menghembus nafas → ____ → ____ → ____

C Berdasarkan proses pernafasan berikut, gariskan jawapan yang betul bagi pernyataan yang diberikan. (TP3) 12

1.

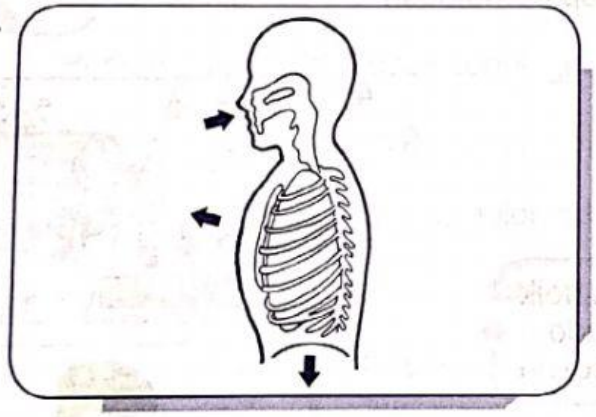

Semasa (menarik ✤ menghembus) nafas, dada akan bergerak naik dan (mengecut ✤ mengembang). Peparu juga akan (mengembang ✤ mengecut) dan udara akan masuk ke dalam peparu.

2.

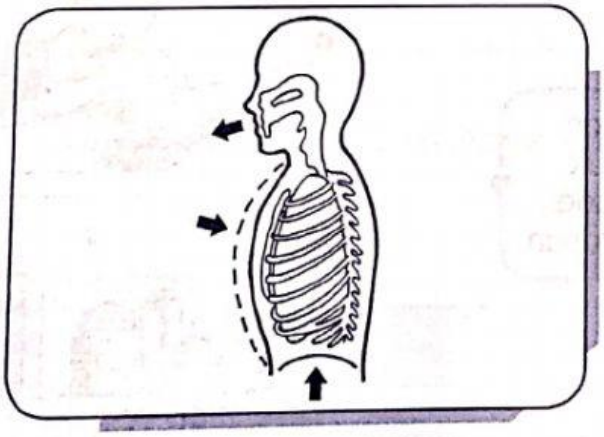

Semasa (menarik ✤ menghembus) nafas, dada akan bergerak (naik ✤ turun) dan mengecut. Peparu juga akan (mengembang ✤ mengecut) dan udara akan keluar dari peparu.

Scanned with CamScanner
LIVEWORKSHEETS

D Tuliskan "Udara hembusan" atau "Udara sedutan" berdasarkan maklumat di bawah. (TP4) 4

1.

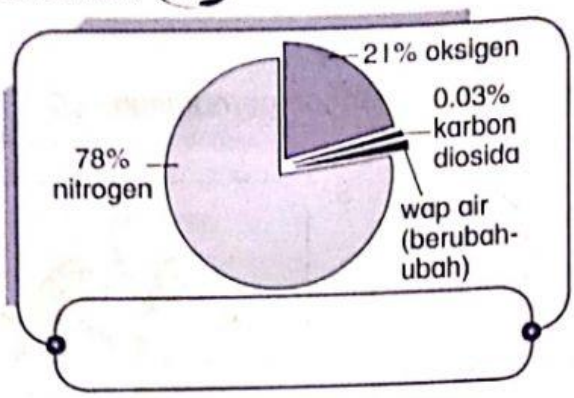

2.

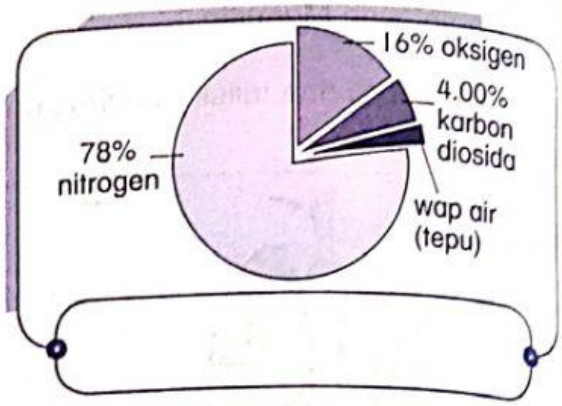

E Padankan aktiviti yang ditunjukkan dengan kadar pernafasan yang betul. (TP5) 6

1.

2.

3.

Kadar pernafasan rendah

Kadar pernafasan sederhana

Kadar pernafasan tinggi

F Padankan situasi dengan kesannya terhadap pernafasan. (TP6) 12

1.

2.

3.

Kesan baik kepada pernafasan

Kesan buruk kepada pernafasan

4.

5.

6.

Scanned with CamScanner
LIVEWORKSHEETS