Quizizz

Pembulatan Hasil Pengukuran Panjang dan Berat (Kelas 4)

25 Questions

NAME : _____

CLASS : _____

DATE : _____

1.
Berat badan Kevin 34,6 kg. Berat badan Kevin jika dibulatkan ke satuan terdekat adalah ... .

a) 36 kg
b) 34 kg
c) 35 kg
d) 30 kg

2. Berat sekantong telur ayam adalah 4,875 kg dan berat sekantong telur bebek adalah 4,231 kg. Selisih berat kedua telur tersebut setelah dibulatkan ke satuan terdekat adalah ... .

a) 1 kg
b) 2 kg
c) 3 kg
d) 4 kg

3.

Fungsi dari timbangan pada gambar adalah...

a) menimbang buah
b) menimbang berat badan
c) menimbang sayur
d) menimbang perhiasan

LIVEWORKSHEETS

4. 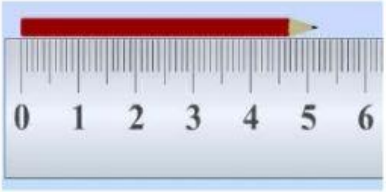

Panjang pensil di atas kira-kira ... .

a) 5cm
b) 4cm
c) 6cm
d) 1cm

5. Panjang buku gambar 19,7cm. Panjang buku gambar jika dibulatkan ke satuan terdekat adalah ... cm

a) 19
b) 20
c) 29
d) 30

6.

Fungsi dari timbangan pada gambar adalah...

a) menimbang berat badan
b) menimbang buah
c) menimbang sayur
d) menimbang perhiasan

7. Bu Titin mempunyai pita merah sepanjang 75 cm lebih 8 mm dan pita biru sepanjang 24 cm lebih 2 mm. Berapa cm kira-kira panjang seluruh pita Bu Titin setelah dibulatkan ke cm terdekat?

a) 99 cm
b) 100 cm
c) 10 cm
d) 90 cm

LIVEWORKSHEETS

8. Pak Anis memiliki tongkat pramuka berwarna hijau dan biru. Panjang tongkat hijau 1 meter lebih 42cm dan panjang tongkat biru 1 meter lebih 65cm. Berapa meter selisih panjang tongkat pak Anis setelah dibulatkan ke satuan terdekat?

a) 1 meter

b) 3 meter

c) 2 meter

d) 4 meter

LIVEWORKSHEETS

9. Perhatikan gambar berikut!Alat pengukuran panjang tersebut biasanya digunakan untuk mengukur ... .

a)

b)

c)

d)

LIVEWORKSHEETS

10.

Nama alat ukur panjang pada gambar tersebut adalah ... .

a) mistar

b) timbangan

c) meteran pita

d) jam

11. Apakah satuan baku yang biasanya digunakan dalam satuan penggaris?

a) km

b) hm

c) m

d) cm

LIVEWORKSHEETS

12. Manakah alat yang tepat digunakan untuk mengukur panjang ruang kelas?

a)

b)

c)

d)

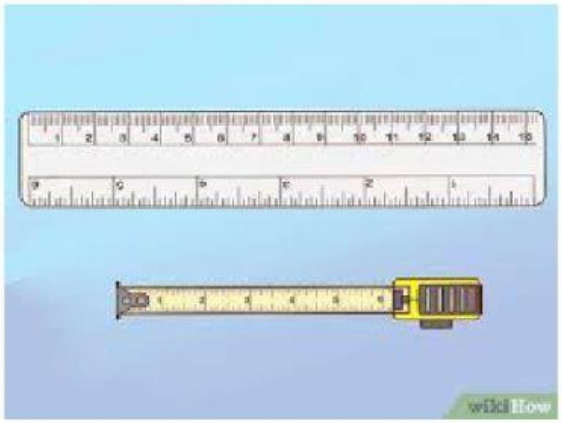

13. Berat mangga yang di beli Vela adalah 12 kg 200 graam, dibulatkan ke kilogram terdekat menjadi ....kg

a) 10

b) 11

c) 12

d) 13

LIVEWORKSHEETS

14.

Jika berat badan pada gambar dibulatkan terbaik ke puluhan terdekat adalah ... kg.

a) 40

b) 42

c) 45

d) 50

LIVEWORKSHEETS

15. Alat ukur berat yang biasa digunakan di supermarket untuk menimbang buah-buahan adalah ... .

a)

b)

c)

d)

16.

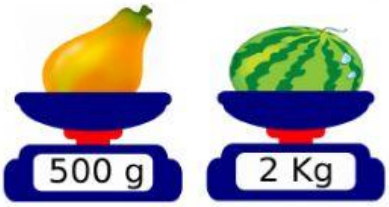

Total berat kedua buah tersebut jika dibulatkan ke satuan terdekat adalah ... .

a) 2 kg

b) 2,5 kg

c) 3 kg

d) 0,5 kg

LIVEWORKSHEETS

17.

Berat sekantong buah naga saat ditimbang adalah 2,345 kg. Berat buah naga jika dibulatkan ke satuan terdekat adalah ... .

a) 3 kg
b) 2 kg
c) 1 kg
d) 5 kg

18.

Timbangan tersebut biasanya digunakan untuk ... .

a) menimbang berat badan
b) menimbang berat telur
c) menimbang berat perhiasan
d) menimbang berat gula

LIVEWORKSHEETS