Họ và tên: .....Lớp 4…….. .....

TRUNG BÌNH CỘNG

Câu 1:

Con hãy chọn đáp án đúng nhất



Trung bình cộng của các số 25; 47; 84 là:

A. 48

B. 52

C. 68

D. 156

Câu 2:

Bốn bao gạo có số cân nặng lần lượt là $38kg$, $44kg$, $48kg$, $54kg$. Vậy trung bình mỗi bao gạo cân nặng

[ ] kg.

Câu 3:

Điền số thích hợp vào ô trống: Trung bình cộng của các số 17; 55 là: [ ]	

LIVEWORKSHEETS

Câu 4:

Một đội công nhân tham gia trồng cây gồm 3 tổ. Tổ một có 8 người, mỗi người trồng được 12 cây. Tổ hai trồng được 80 cây, tổ ba trồng được nhiều hơn tổ hai 14 cây. Hỏi trung bình mỗi tổ trồng được bao nhiêu cây?

A. 90 cây

B. 93 cây

C. 96 cây

D. 102 cây

Câu 5:

Điền số thích hợp vào ô trống:

Số trung bình cộng của dãy số 10 ; 12 ; 14 ; 16 ; 18 ; 20 ; 22 ; 24 ; 26 là

Câu 6:

Con hãy chọn đáp án đúng nhất



Trung bình cộng của 2 số bằng 49, biết một trong hai số bằng 33 . Vậy số còn lại là:

LIVEWORKSHEETS

Câu 7:



Điền số thích hợp vào ô trống:

Trung bình cộng của 5 số lẻ liên tiếp là 45. Vậy 5 số viết theo thứ tự từ bé đến lớn lần lượt là:

☐ ; ☐ ; ☐ ; ☐ ; ☐

Câu 8:

Muốn tìm trung bình cộng của các số ta lấy:

A. Tổng của các số đó cộng với số các số hạng.

B. Tổng của các số đó trừ đi số các số hạng.

C. Tổng của các số đó nhân với số các số hạng.

D. Tổng của các số đó chia cho số các số hạng.

LIVEWORKSHEETS