DISCIPLINA : Matemática **TURMA:** 6º Ano

TEMA : Classificação dos quadriláteros

A. Quais formas a seguir são quadriláteros?

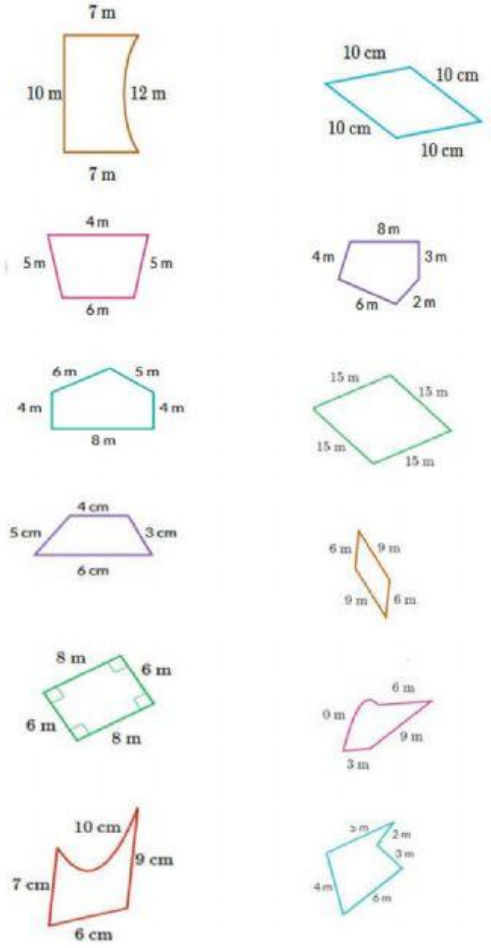

B. Quais formas a seguir são losangos?

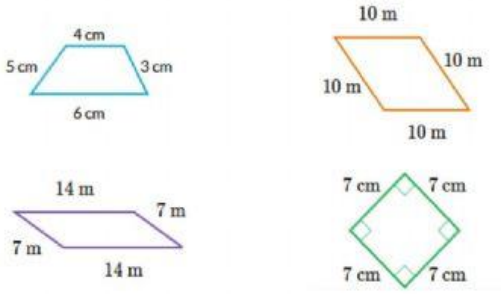

C. Quais formas a seguir são quadrados?

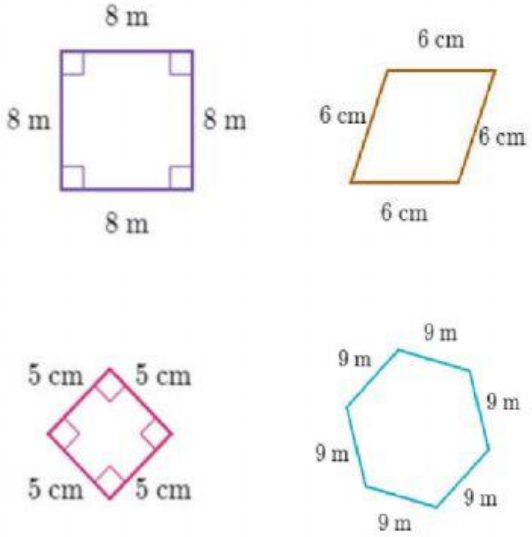

D. Analise as figuras abaixo e responda:

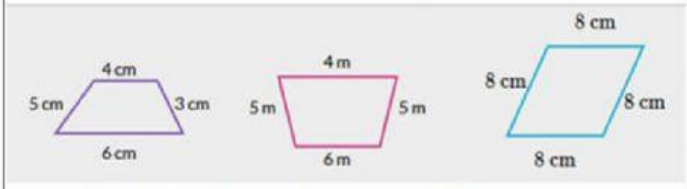

O que essas formas têm em comum?

Escolha todas as respostas aplicáveis:

- Elas são todas quadriláteros.
- Elas são todas losangos.
- Elas são todas retângulos.
- Nenhuma das anteriores

OBS:
Exercícios retirados do site da KhanAcademy sobre quadriláteros BNCC EF06MA20:
https://pt.khanacademy.org/math/6-ano-matematica/geometria/quadrilateros/e/categorize-quadrilaterals

LIVEWORKSHEETS