1. 1000 m uzunluğundaki yolun her 100 m'sinde bir dinlenme halkası vardır. Bu halkaların içine başlangıç çizgisine olan uzaklıkları yazılmıştır.

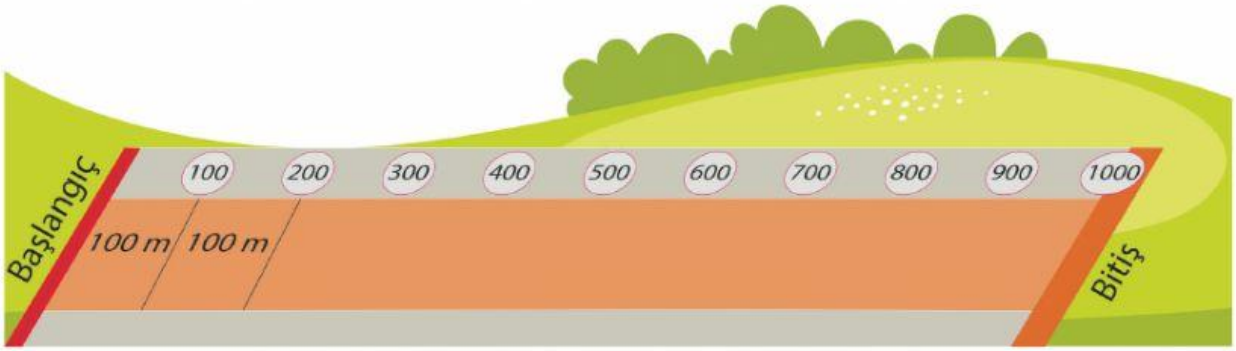

Öğrencileriyle bu yolda yürüyüş yapan Kerim Öğretmen bir oyun tasarlamıştır. Bu oyuna göre öğretmen, zili çaldığında her öğrenci bulunduğu noktaya en yakın dinlenme halkasına oturacaktır.
Tabloda, öğrencilerin zil çaldığı andaki başlangıç çizgisine olan uzaklıkları verilmiştir.

Mert	Deniz	Sevgi	Doğa
685 m	324 m	503 m	851 m

Buna göre öğrencilerin oturduğu dinlenme halkalarının başlangıç çizgisine olan uzaklıklarının toplamı aşağıdakilerden hangisidir?

A) 2100 B) 2200 C) 2300 D) 2400

2. Ayşe ile Ahmet'in kartlarındaki karşılıklı rakamların toplamı 8'dir.

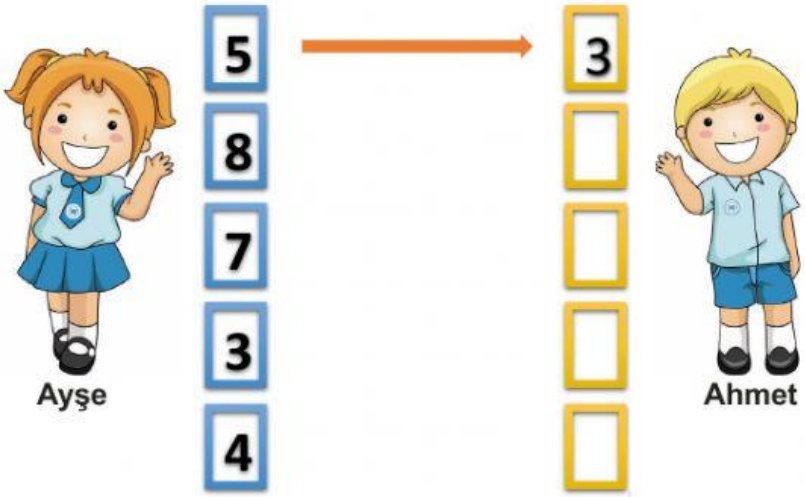

Buna göre Ahmet'in kartlarındaki rakamlar birer kez kullanılarak elde edilebilecek 5 basamaklı en büyük doğal sayı aşağıdakilerden hangisidir?

A) 30 154 B) 54 310 C) 65 340 D) 87 543

LIVEWORKSHEETS

3.



Bulutların üzerinde verilen sayıların toplamı 9900 olduğuna göre sarı renkli bulutun üzerine aşağıdakilerden hangisi getirilmelidir?

A) 1068 B) 1089 C) 1122 D) 1130

4. 657 839 altı basamaklı doğal sayısının birler ve binler bölüğü yer değiştiriyor. Daha sonra her bölükteki rakamlar kendi arasında küçükten büyüğe doğru sıralanıyor.

Buna göre elde edilen doğal sayının binler basamağındaki rakamın basamak değeri aşağıdakilerden hangisidir?

A) 500 B) 3000 C) 9000 D) 80 000

5. Aşağıdaki tabloda bazı illerin 2019 yılındaki nüfusları verilmiştir.

İL	NÜFUS
Erzurum	762 062
Sivas	638 956
Malatya	800 165
Çanakkale	542 157
Bingöl	297 812

Bu illerin nüfuslarına göre büyükten küçüğe doğru sıralanışı aşağıdakilerden hangisidir?

A) Malatya > Erzurum > Bingöl > Sivas > Çanakkale
B) Bingöl > Çanakkale > Sivas > Erzurum > Malatya
C) Erzurum > Sivas > Çanakkale > Malatya > Bingöl
D) Malatya > Erzurum > Sivas > Çanakkale > Bingöl

LIVEWORKSHEETS

6. Aşağıdaki kutucuklarda verilen ifadelerden doğru olanlar için üzerinde "D" , yanlış olanlar için üzerinde "Y" yazan okları takip eden bir öğrenci, kaçıncı çıkışa ulaşır?

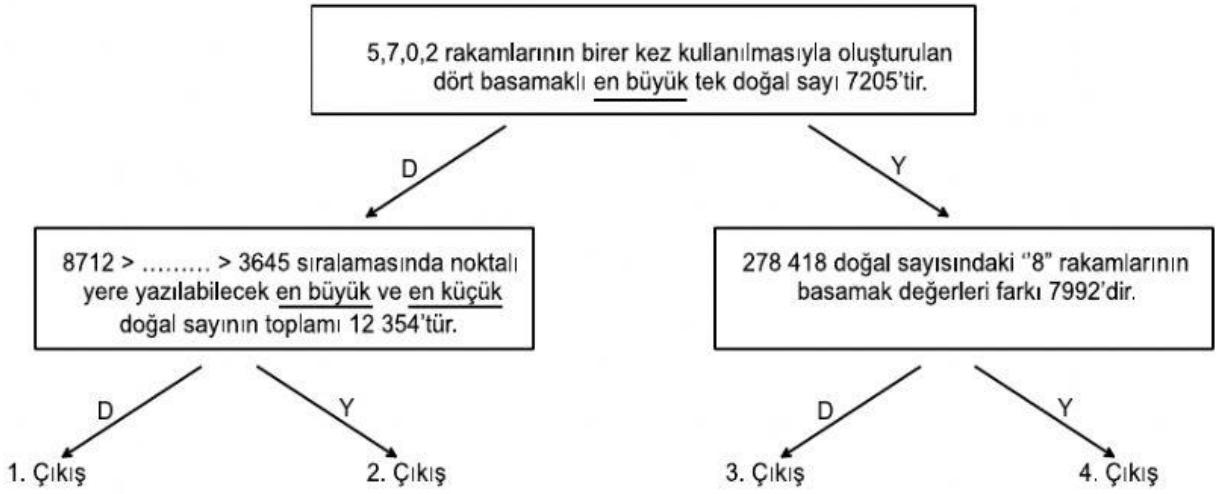

A) 1.
B) 2.
C) 3.
D) 4.

7. Ahmet ve Zeynep kendilerine ait çarkları çevirerek okun gösterdiği rakamı yazıp bu rakamlardan sayılar oluşturuyorlar.

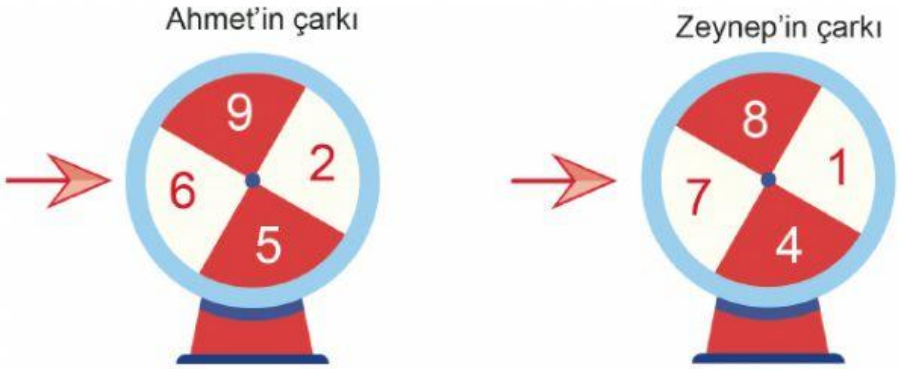

Buna göre Ahmet'in yazabileceği rakamları birbirinden farklı dört basamaklı en büyük doğal sayı ile Zeynep'in yazabileceği rakamları birbirinden farklı dört basamaklı en küçük doğal sayının farkı kaçtır?

A) 7213
B) 7521
C) 8174
D) 8217

LIVEWORKSHEETS

8. Aşağıda bazı doğal sayıların okunuşları verilmiştir:

- Kırk yedi bin elli dokuz
- Beş yüz seksen altı bin iki yüz on
- Sekiz bin sekiz
- Altmış bin üç yüz iki

Buna göre hangi doğal sayının okunuşu verilmemiştir?

A) 47 059 B) 60 302 C) 80 008 D) 586 210

9. Aşağıda farklı renklerdeki arabaların fiyatları ve kaç km yol gittikleri verilmiştir.

Araba	Fiyatı	Gittiği Yol
	57 580 TL	8650 km
	51 000 TL	8884 km
	52 400 TL	8400 km
	55 460 TL	8532 km

Eda, bu arabalardan en ucuz olanını; Alper ise en az yol gidenini alıyor.

Buna göre Eda ve Alper'in aldıkları arabaların renkleri aşağıdakilerin hangisinde doğru verilmiştir?

	Eda	Alper
A)	Siyah	Kırmızı
B)	Sarı	Siyah
C)	Mavi	Sarı
D)	Kırmızı	Mavi

LIVEWORKSHEETS

10. Aslı Öğretmen, öğrencilerine üzerinde bir doğal sayının ve bu doğal sayı ile ilgili soruların yazılı olduğu bir kart vermiştir.

7395

1. En yakın onluğa yuvarlayarak yazınız.

Cevap: .....

2. En yakın yüzlüğe yuvarlayarak yazınız.

Cevap: .....

Buna göre öğrencilerin verdiği aşağıdaki cevaplardan hangisi doğrudur?

	1.	2.
A)	7390	7400
B)	7390	7300
C)	7400	7300
D)	7400	7400

11. Aşağıdaki altı basamaklı doğal sayının bazı rakamları silinmiştir.

3 _ 4 _ _ 7

Bu doğal sayıyı bulmak için şu ipuçları verilmiştir:

- Yüzler basamağındaki rakamın basamak değeri 100'dür.
- Binler bölüğündeki rakamların sayı değerlerinin toplamı 13'tür.
- Doğal sayıyı oluşturan rakamların sayı değerlerinin toplamı 29'dur.

Buna göre bu doğal sayı aşağıdakilerden hangisidir?

A) 314 687 B) 364 117 C) 364 187 D) 394 157

LIVEWORKSHEETS

12. Üzerinde rakamların yazılı olduğu balonlar veriliyor.

Rakamlarının toplamı 5 olan balon çiftleri patlatılıyor. Daha sonra geriye kalan rakamlarla dört basamaklı en büyük doğal sayı oluşturuluyor.

Buna göre bu sayının yüzler basamağının basamak değeri aşağıdakilerden hangisidir?

A) 600 B) 700 C) 800 D) 900

13. A ve B doğal sayılarının abaküs ile gösterimleri aşağıda verilmiştir.

Buna göre A ve B doğal sayıları arasındaki fark aşağıdakilerden hangisidir?

A) 609 B) 631 C) 701 D) 719

LIVEWORKSHEETS

14. Aşağıdaki abaküste altı basamaklı bir doğal sayı oluşturulmuştur.

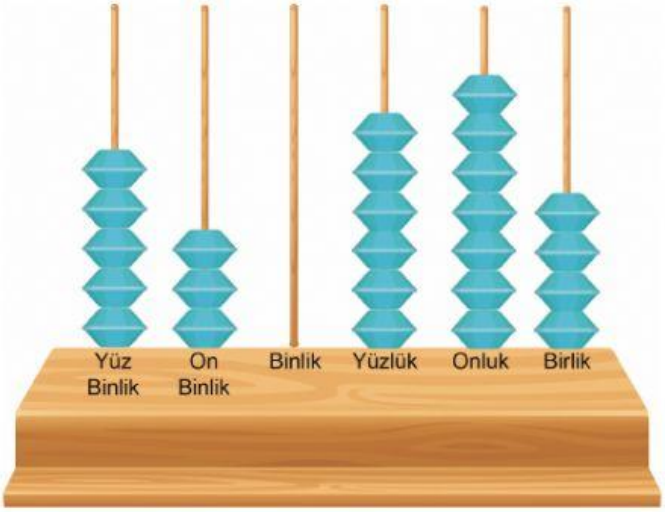

Buna göre bu doğal sayının okunuşu aşağıdakilerden hangisidir?

A) Dört yüz otuz bin üç yüz elli beş
B) Dört yüz otuz bin altı yüz yetmiş dört
C) Beş yüz otuz bin üç yüz elli beş
D) Beş yüz otuz bin altı yüz yetmiş dört

15. Aşağıda 0, 2 ve 5 rakamlarını temsil eden semboller verilmiştir.

● = 2 ▲ = 5 ■ = 0

Bu sembollerle oluşturulan altı basamaklı ▲ 7 ● ■ 1 8 doğal sayısının okunuşu aşağıdakilerden hangisidir?

A) Beş yüz yetmiş iki bin on sekiz
B) İki yüz yetmiş beş bin on sekiz
C) Beş yüz yetmiş bin iki yüz sekiz
D) İki yüz yetmiş bin beş yüz sekiz

LIVEWORKSHEETS

16. Aşağıdaki görselde 1'den 4'e kadar numaralandırılmış vagonlarda üç basamaklı doğal sayılar veriliyor. Bunlardan iki tanesi seçilerek altı basamaklı bir doğal sayı yazılıyor.

Seçilen vagonlarda yazan sayılardan biri altı basamaklı yeni sayının birler bölüğünü, diğeri binler bölüğünü oluşturuyor. Yazılan bu doğal sayının bölüklerindeki rakamların sayı değerlerinin toplamının birbirine eşit olduğu biliniyor.

Buna göre seçilen iki vagon aşağıdakilerden hangisidir?

A) 1 - 2
B) 2 - 4
C) 1 - 3
D) 3 - 4

17. Akıllı tahta ekranında birbirine eş 100 küçük kareye ayrılmış bir şekil verilmektedir. Bu karelerden dört tanesi mavi, geri kalanı ise kırmızı renklidir.



Ekrana bir kez dokunulduğunda eş küçük kırmızı karelerden üç tanesinin rengi maviye dönüşmektedir.

Buna göre ekrana yedi kez dokunulduktan sonra ekranda kaç tane kırmızı kare kalır?

A) 69
B) 72
C) 75
D) 79

LIVEWORKSHEETS

18. Aşağıda altı basamaklı bir doğal sayı ile ilgili bilgiler verilmiştir:

- Birler bölüğü, rakamları farklı üç basamaklı en büyük tek doğal sayıdır.
- On binler basamağındaki rakamın basamak değeri 20 000'dir.
- Binler basamağındaki rakamın sayı değeri, on binler basamağındaki rakamın sayı değerinden 2 fazladır.
- Binler bölüğündeki sayının rakamlarının sayı değerleri toplamı 9'dur.

Buna göre bu doğal sayı aşağıdakilerden hangisidir?

A) 324 987 B) 324 997 C) 342 987 D) 432 989

19.

Buna göre A ile gösterilen rakam aşağıdakilerden hangisi olabilir?

A) 2 B) 3 C) 4 D) 5

20. Aşağıda dört basamaklı üç doğal sayı ile ilgili bazı bilgiler verilmiştir.

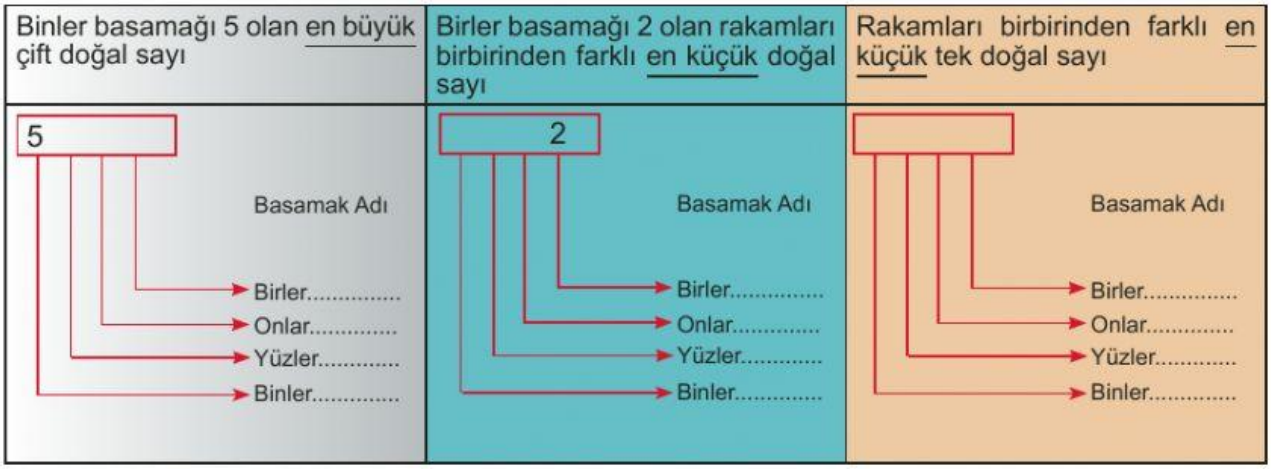

Buna göre bu doğal sayıların toplamı aşağıdakilerden hangisidir?

A) 8027 B) 8033 C) 8045 D) 8053

LIVEWORKSHEETS