丙）比较估计与实际长度。看图填一填，然后选出正确的答案。

1

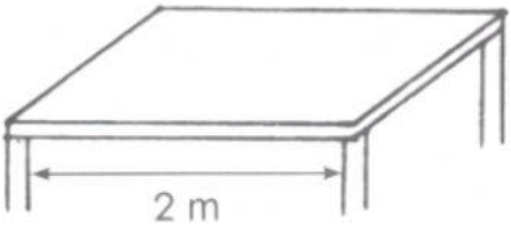

实际长度：

估计长度比实际长度

长 短

了 m。

2



实际长度：

估计长度比实际长度

长 短

了 cm。

3

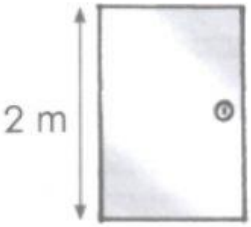

实际长度：

估计长度比实际长度

长 短

了 m。

4



实际长度：

估计长度比实际长度

长 短

了 cm。

LIVEWORKSHEETS