B 根据下图，回答问题。

7.2.1 TP2 ~ 3 课本第 223 ~ 225 页



1. 木瓜的数量与橙子的数量的比 = _____

2. 山竹的数量与红毛丹的数量的比 = _____

3. 苹果的数量与梨子的数量的比是 1 : 2。计算梨子的数量。

KBAT

C 完成以下各题。

7.3.1 TP1 ~ 3 课本第 226 ~ 228 页

1.

橙汁	可倒
2 升	8 杯
3 升	

2.

蛋糕	共有
5 盒	25 个
3 盒	

3. KBAT

鱼丸	价格
3 串	RM3.60
	RM8.40

© Penerbitan Bangi Sdn. Bhd.

Scanned with CamSca
LIVEWORKSHEETS

D 解决问题。 7.4.1 TP4 ~ 6 课本第 231 ~ 234 页

1.

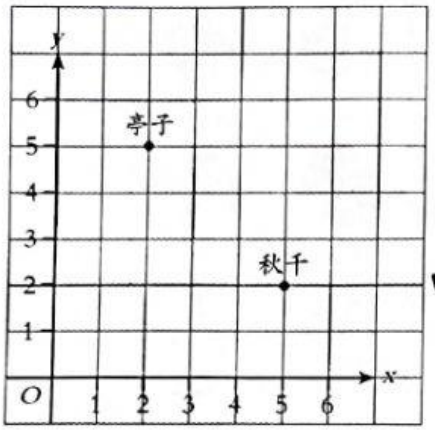

笛卡尔平面显示两个设施的位置。

(a) 写出亭子的坐标。

.....

(b) 滑梯与秋千和亭子形成了一个等腰三角形。写出滑梯的坐标。

.....

2. 图 1 显示四个盒子里的纸巾的总数量。

共 600 张

图 1

(a) 计算 3 个盒子里的纸巾的总数量。

(b) 天成在四月份里用了一盒纸巾，他平均每 10 天用了多少张纸巾？

© Penerbitan Bangi Sdn. Bhd.

Scanned with CamSca
LIVEWORKSHEETS

E . 圈出正确的答案。

1. 笛卡尔平面显示四个点的位置。

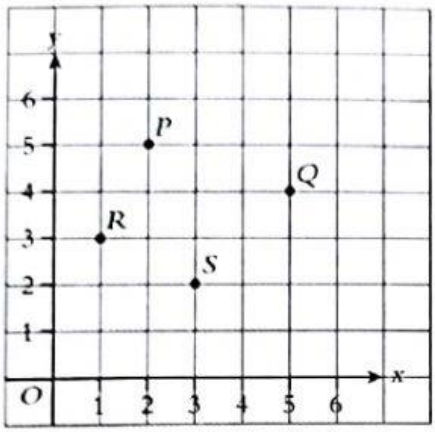

哪个点的坐标是（3，2）？

A P
B Q
C R
D S

2. 笛卡尔平面显示长方形的三个顶点的位置。

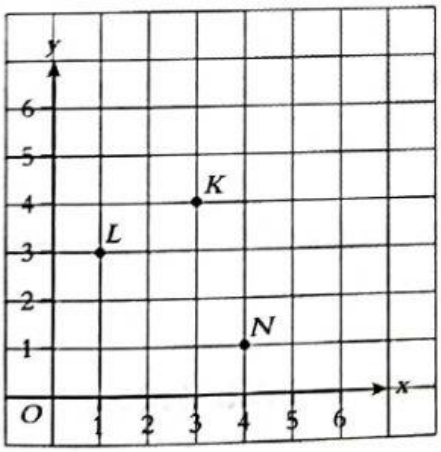

M是该长方形的另一个顶点，M的坐标是什么？

A （0，2）
B （2，0）
C （2，1）
D （6，2）

3. 下面显示一项资料。

KBAT

丽娜有 1 块蛋糕。 康宇有 3 块蛋糕。

写出丽娜与康宇的蛋糕的数量的比。

A 3 : 1　　**B** 2 : 1
C 1 : 3　　**D** 1 : 2

4. 下面的平面图上的距离与实际距离的比是 1 : 1 000。

KBAT

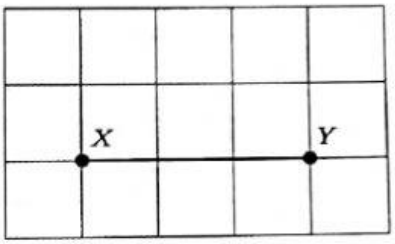

量一量并计算 X 与 Y 的距离。

A 3 000 cm　　**B** 5 000 cm
C 6 000 cm　　**D** 8 000 cm

5. 图 1 显示一项资料。

KBAT

年终大促销 5 本小说只售 RM25

图 1

美云有 RM103。她最多能买到多少本小说？

A 20　　**B** 21
C 22　　**D** 23

6. 正宇有 245 枚邮票。外国邮票的数量与本地邮票的数量的比是 1 : 4。他有多少枚本地邮票？

KBAT

A 49　　**B** 98
C 147　　**D** 196

© Penerbitan Bangi Sdn. Bhd.

Scanned with CamSca
LIVEWORKSHEETS