11 图 9 显示一块长方形的瓷砖。

图 9

拉希先生要用上面的瓷砖来铺厨房地面。他应该怎么做才能知道必须购买多少块瓷砖？

A 计算瓷砖的面积
B 计算厨房地面的面积
C 计算瓷砖和厨房地面的体积
D 计算瓷砖和厨房地面的面积

12 图 10 显示一棵树的圆周。



图 10

米卡尔想要测量树的圆周，但是他没有皮尺。
哪项最合适用来解决这个问题？

A 彩带　　**B** 绳子和尺
C 橡皮筋和尺　　**D** 沙爹支和尺

13 图 11 显示沙莫安装的一个电路图。

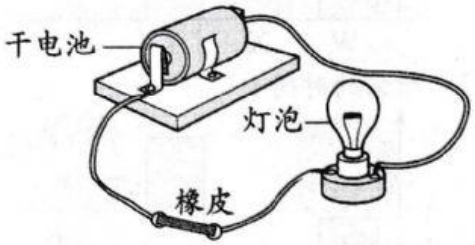

图 11

沙莫发现实验所使用的灯泡不会发亮。他须要怎么做才能使灯泡发亮？

A 更换新的灯泡
B 用铁钉代替橡皮
C 安装一个开关
D 增加一个干电池

14 哪项显示光的折射原理？

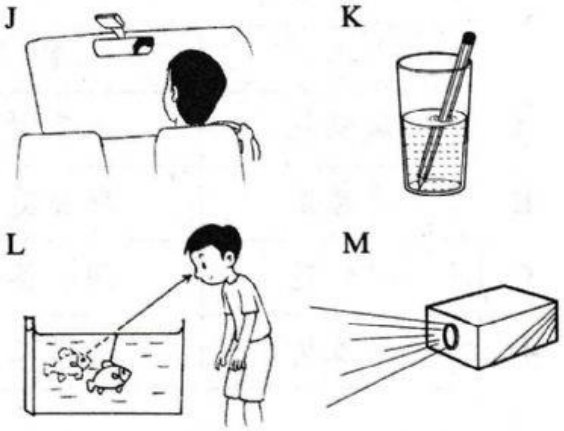

A J 和 K　　**B** J 和 M
C K 和 L　　**D** L 和 M

15 图 12 显示扔铅球比赛的成绩。

图 12

从选手所施的推力最大到选手所施的推力最小，选出正确的排列。

A 约翰 → 亚当 → 仲尼
B 仲尼 → 约翰 → 亚当
C 亚当 → 仲尼 → 约翰
D 仲尼 → 亚当 → 约翰

16 图 13 显示三个盛有水的烧杯，X、Y 和 Z。

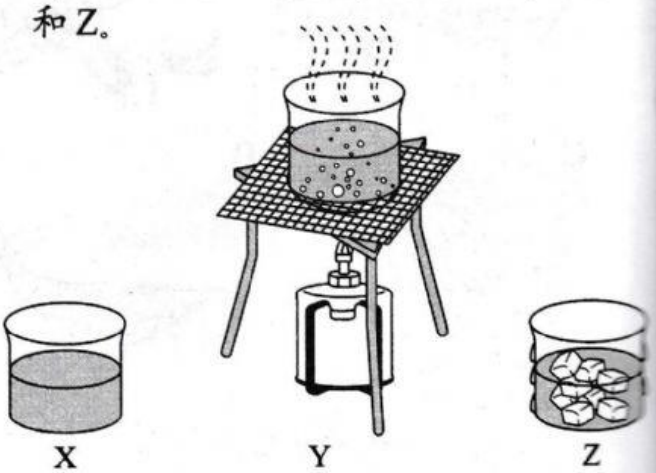

图 13

LIVEWORKSHEETS