Latihan Matematik:- 2.1.1 menanda nilai pada kedua-dua paksi

HARI:- _____ TARIKH: _____

NAMA: _____

1 Nyatakan skala yang digunakan pada paksi mengufuk dan paksi mencancang dalam setiap satah yang berikut.

(a)

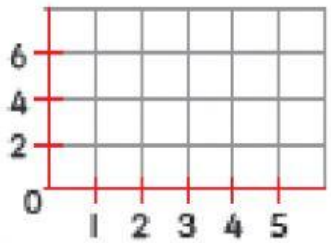

Paksi mengufuk

Paksi mencancang

(b)

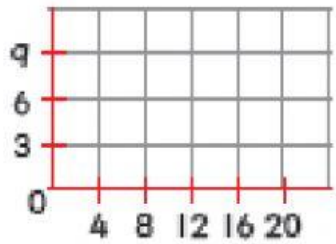

Paksi mengufuk

Paksi mencancang

2 Tandakan nilai pada kedua-dua paksi.

(a)

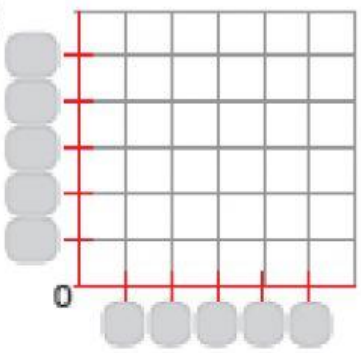

Skala paksi mengufuk 1 : 1.
Skala paksi mencancang 1 : 3.

(b)

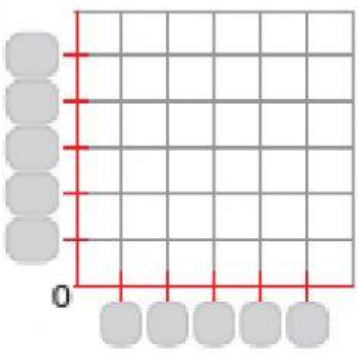

Skala paksi mengufuk 1 : 2.
Skala paksi mencancang 1 : 4.

Disediakan oleh: Wan Rosmalina Spadu

LIVEWORKSHEETS

Latihan Matematik:- 2.1.1 menanda nilai pada kedua-dua paksi



Rajah 1

Rajah 1 menunjukkan kedudukan bintang pada sebuah satah.

Lengkapkan jadual dibawah dengan menyatakan koordinat setiap warna bintang berpandukan skala yang diberikan.

Paksi mengufuk	Paksi mencancang	Koordinat	Warna bintang
1:1	1:1	(6 , 4)	
1:2	1:2	(2 , 4)	
1:3	1:3	(12 , 9)	
1:4	1:4	(20 , 20)	
1:5	1:5	(10 , 15)	
1:1	1:2	(4 , 12)	
1:2	1:4	(6 , 16)	
1:3	1:1	(6 , 6)	

Disediakan oleh: Wan Rosmalina Spadu

LIVEWORKSHEETS