ชื่อ-สกุล: _____ ชั้น: _____ เลขที่: _____

การสืบพันธุ์ของมนุษย์

ให้นักเรียนนำอวัยวะในระบบสืบพันธุ์ของมนุษย์ไปเติมในช่องว่างให้ถูกต้อง

ต่อมสร้างน้ำเลี้ยงอสุจิ	ไส้ตรง	องคชาต	หลอดสร้างอสุจิ	ท่อปัสสาวะ
หลอดเก็บอสุจิ	ทวารหนัก	ต่อมคาวเปอร์	ถุงอัณฑะ	หลอดนำอสุจิ

ระบบสืบพันธุ์เพศชาย

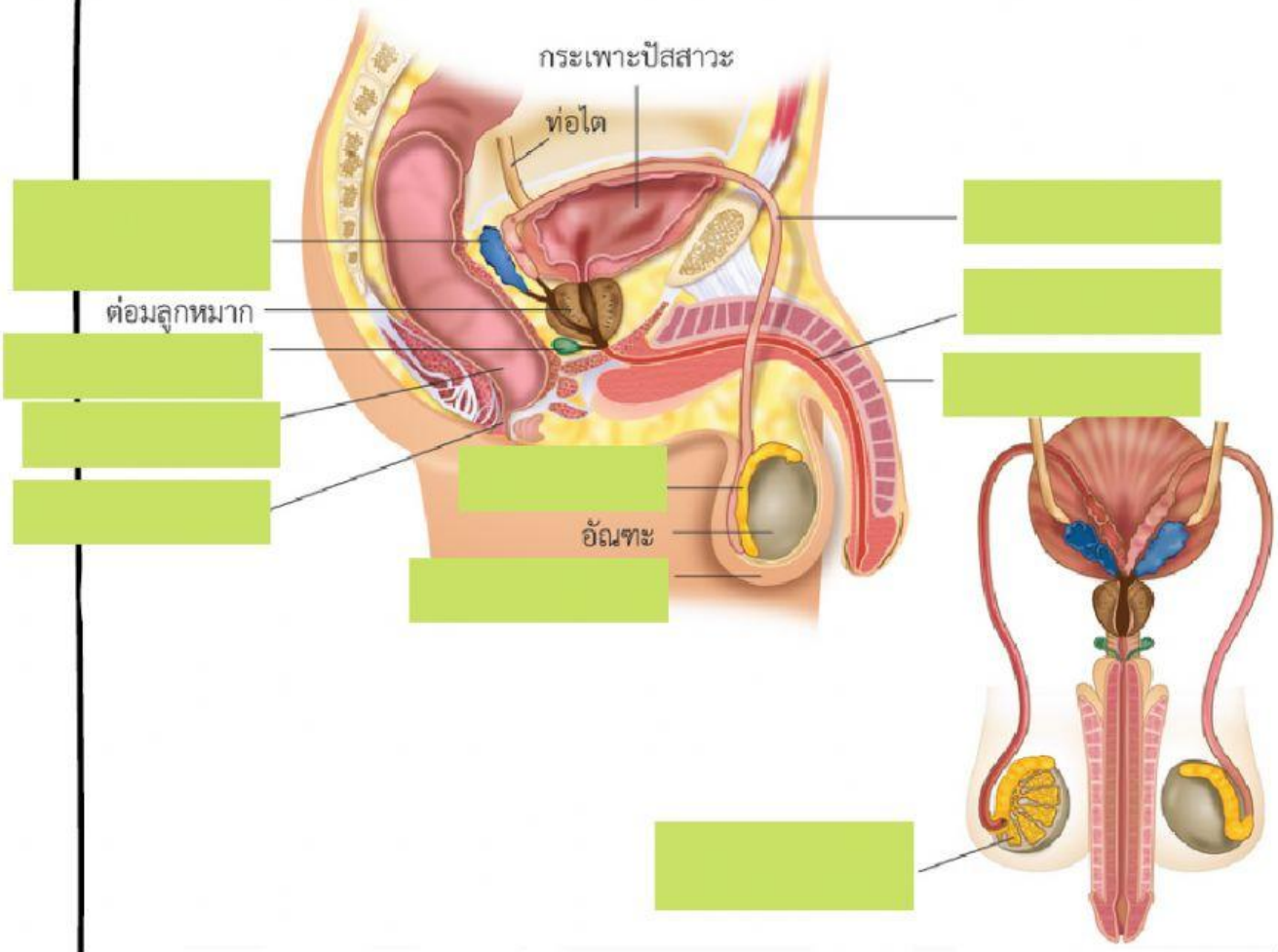

LIVEWORKSHEETS

ช่องคลอด	รังไข่	ท่อนำไข่	ปากมดลูก	เอนโดมีเทรียม
ปากมดลูก	มดลูก	ผนังมดลูก	ช่องคลอด	มดลูก

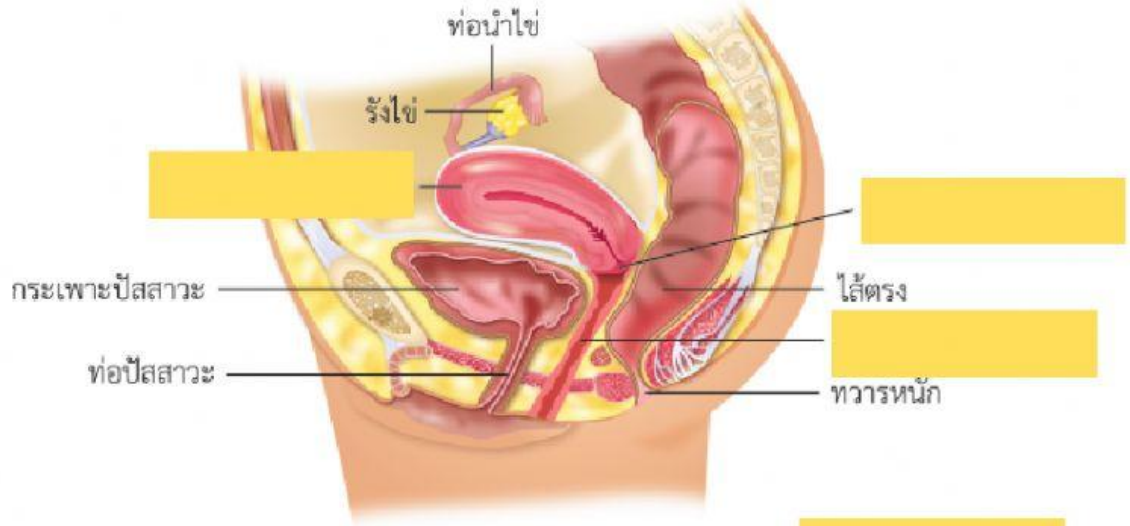

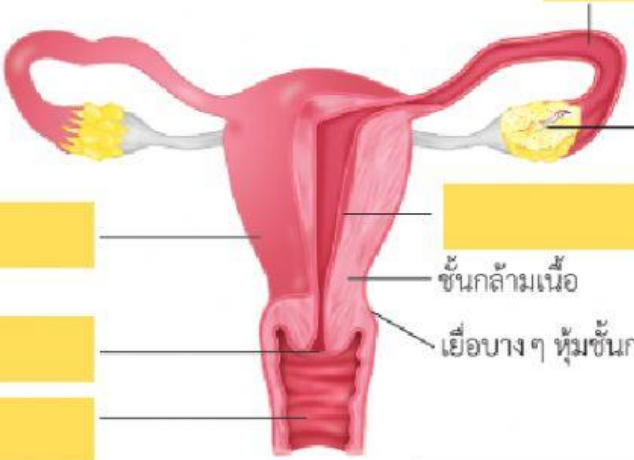

ระบบสืบพันธุ์เพศหญิง

LIVEWORKSHEETS