UNIT 12

Mesin

GERAK KERJA 72 Tarikh: _____ Masa: _____

Mesin Ringkas

A. Lengkapkan silang kata di bawah. (SP12.1.2)

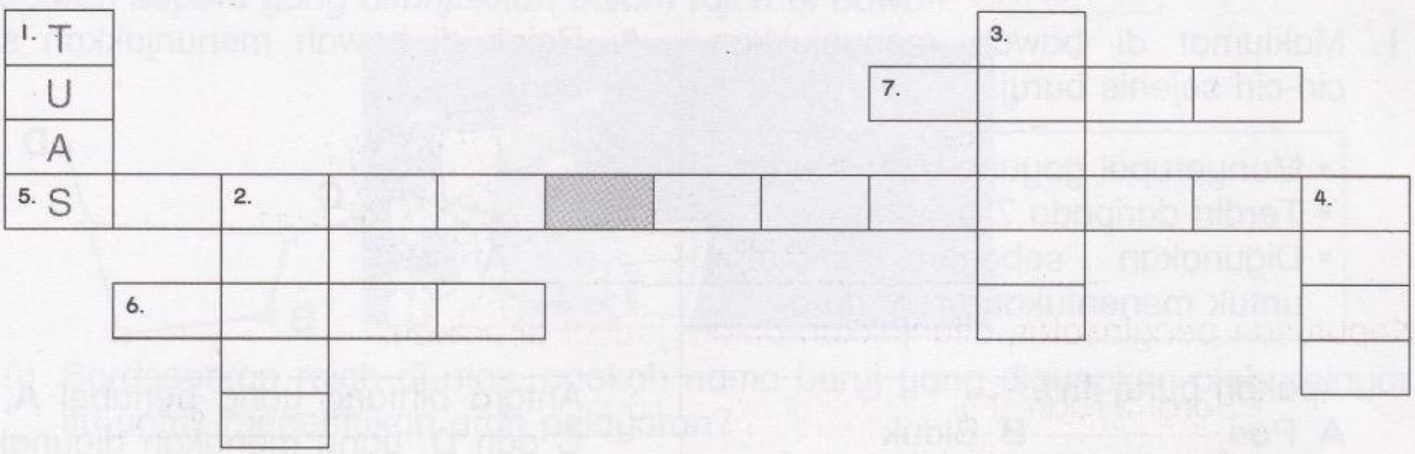

Menegak

1. Terdiri daripada sebatang rod yang bergerak pada satu titik tetap yang dikenal sebagai fulkrum.
2. _____ terdiri daripada sebuah roda beralur yang boleh bergerak bebas.
3. Mesin ringkas ini terdiri daripada roda yang dipasang pada sebatang rod yang dinamakan _____.
4. Sejenis mesin ringkas yang terdiri daripada roda dan silinder bergigi.

Melintang

5. _____ ialah satu permukaan yang disendengkan dan memudahkan beban digerakkan ke aras yang lebih tinggi.
6. Mesin ringkas ini digunakan untuk mengetatkan dua kepingan objek yang bercantum.
7. Mesin ringkas ini digunakan untuk memisahkan, memotong atau menggerakkan satu objek.

B. Tandakan (✓) pada peralatan yang menggunakan mesin ringkas, roda dan gandar. (SP12.1.1)

1. 

2. 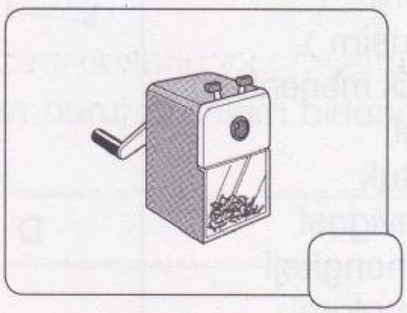

3. 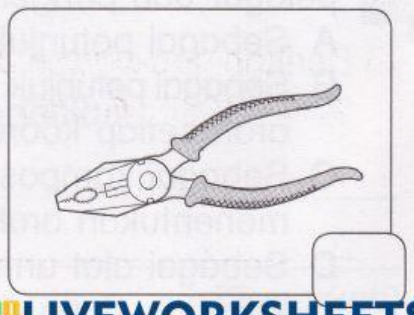

LIVEWORKSHEETS