圈出正确的答案。

月相

1. 以下哪项有关月球的说明是正确的？
   A 月球会自己发光
   B 月球是星星之一
   C 月球不会自己发光
   D 月球是距离太阳最近的天体

2. 以下哪项正确地显示月球绕着地球自转与公转的方向？

A

B

C

D

3. 以下哪项是导致月相变化的原因？
   A 地球不断自转
   B 地球和月球不断自转
   C 月球在公转时，位置不断改变
   D 月球公转时，有时无法反射阳光

4. 以下资料与月球有关。

只有大约百分之三照射在月球表面的阳光会被反射。

如果月球能反射更多的阳光，会怎么样？
   A 月球的体积会变大
   B 月球会显得更明亮
   C 月球就会开始自己发光
   D 我们每一天都会看到满月

5. 以下哪个条形统计图正确地显示从农历初一至初七，我们所能看见的月球面积？

A

B

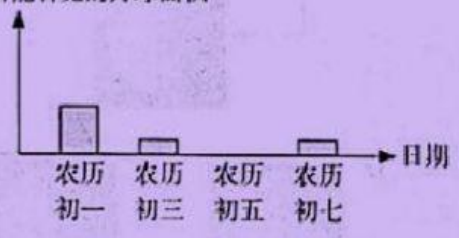

C

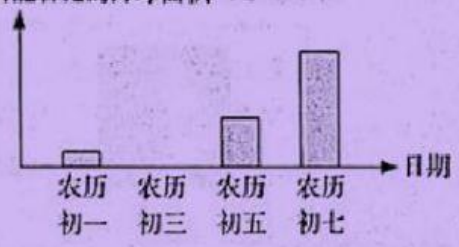

D



LIVEWORKSHEETS

6. 以下哪项正确地显示从农历八月十五开始，一个星期内的月相变化？

A


B


C
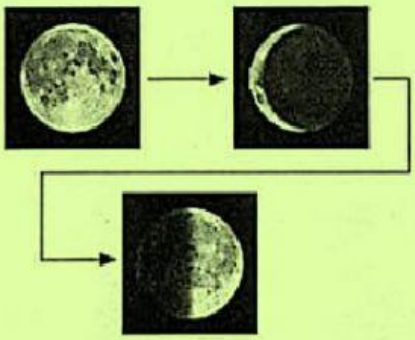

D
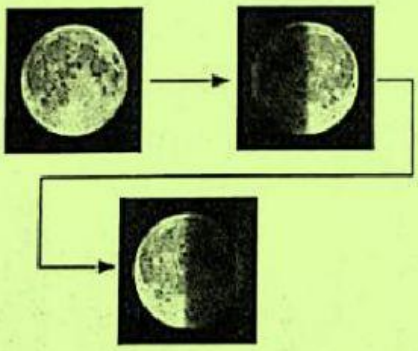

7. 农历新年和开斋节前一日的晚上，会出现什么月相？

A 满月
B 新月
C 上弦月
D 下弦月

8. 以下哪两个节日当天会出现满月？

P – 中秋节
Q – 端午节
R – 元宵节
S – 重阳节

A P和Q
B P和R
C Q和S
D R和S

9. 下图显示月球绕着地球公转时的位置变化。

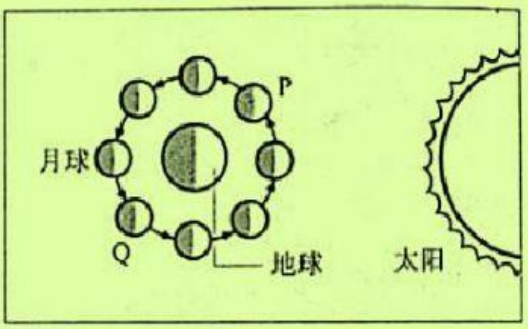

根据上图，月球在 P 位置和 Q 位置时的月相是怎样的？

	P	Q
A		
B		
C		
D		

LIVEWORKSHEETS