BÀI TẬP TOÁN TƯ DUY TUẦN 4 – LỚP 2S

Câu 1: Nối 2 cặp hình giống hệt nhau ở 2 hàng.

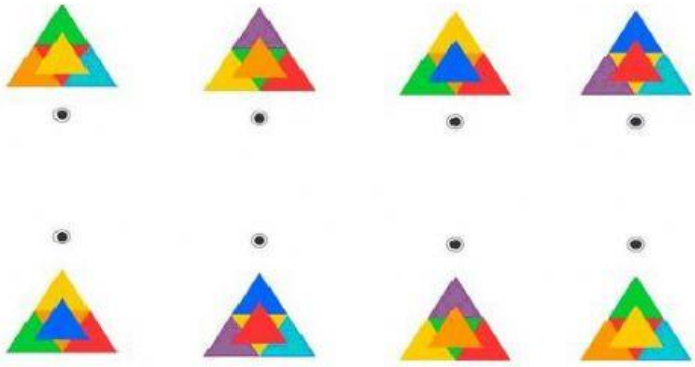

Câu 2: Tìm ra quy luật và chọn hình đúng phía dưới để điền vào ô còn lại.



Câu 3: Nối hình ở hàng trên với hình phù hợp ở hàng dưới khi nhìn từ trên xuống.



LIVEWORKSHEETS

Câu 4: Tìm ra quy luật và chọn hình đúng phía dưới để điền vào ô còn lại.

TRẮC NGHIỆM

Câu 5: Trong các số từ 7 đến 23, hỏi có bao nhiêu số có hai chữ số?

A. 13 B. 14 C. 15 D. 16

Câu 6: Minh có 60 cái kẹo và Nam có 20 cái kẹo. Hỏi Minh phải cho Nam bao nhiêu cái kẹo để hai bạn có số kẹo bằng nhau?

A. 15 B. 20 C. 25 D. 30

Câu 7: Quan sát dãy số dưới đây và điền vào chỗ chấm.

50 , 49 , 47 , 44 , 40 , ...

A. 35 B. 39 C. 30 D. 36

Câu 8: Hỏi cần thay thế bông hoa dưới đây bởi số nào để được phép tính đúng?

🌸 + 🌸 - 22 = 🌸 + 24

A. 40 B. 23 C. 2 D. 46

HẾT

LIVEWORKSHEETS