KOORDINAT

Soalan Subjektif

Arahan: *Jawab semua soalan. Tunjukkan jalan kerja dan tulis jawapan dalam ruangan yang disediakan.*

Soalan 1 – 4 berdasarkan rajah di bawah.

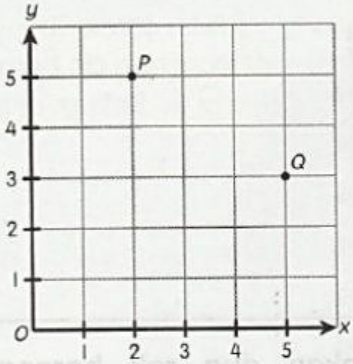

1. Nyatakan koordinat bagi titik *Q*.

2. Berapakah jarak mengufuk dan jarak mencancang titik *Q* dari asalan? TP 2

unit mengufuk

unit mencancang

3. Berapakah jarak mengufuk dan jarak mencancang titik *Q* dari titik *P*? TP 3

unit mengufuk

unit mencancang

4. Apakah koordinat yang terletak pada 2 unit mengufuk dan 3 unit mencancang dari titik *P*? TP 3

dan

Soalan 5 – 8 berdasarkan rajah di bawah.

Rajah di bawah menunjukkan kedudukan bagi lima titik pada suatu satah Cartes.

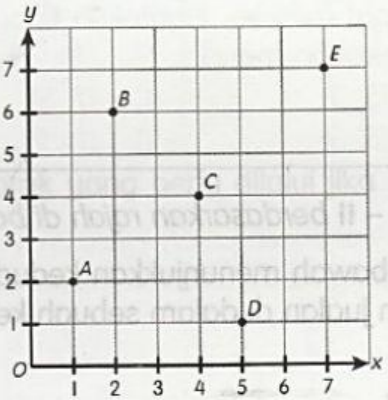

5. Apakah jarak mengufuk dan jarak mencancang titik *B* dari asalan? TP 3

unit mengufuk

unit mencancang

LIVEWORKSHEETS

KOORDINAT

6. Berapakah jarak mengufuk dan jarak mencancang dari titik *D* ke titik *E*? TP 3

unit mengufuk

unit mencancang

7. Nyatakan dua titik yang mempunyai jarak 3 unit mengufuk dan 3 unit mencancang. TP 3

Dari titik ☐ ke titik ☐

8. Apakah dua titik yang mempunyai jarak paling jauh? Nyatakan jarak di antara dua titik itu. KBAT Menilai TP 3

Dari titik ☐ ke titik ☐

unit mengufuk

unit mencancang

Soalan 9 – 11 berdasarkan rajah di bawah.

Rajah di bawah menunjukkan kedudukan rak barangan jualan di dalam sebuah kedai.

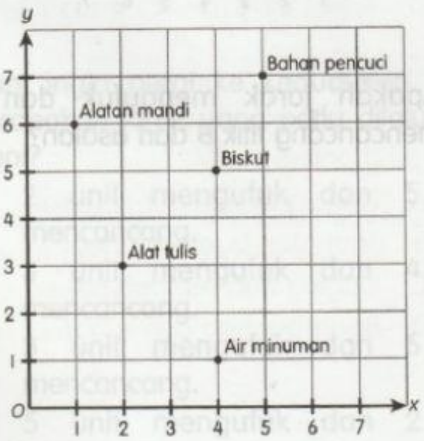

9. Alia berada di rak barangan bahan pencuci. Berapakah jarak di antara Alia dengan kaunter bayaran jika kaunter bayaran terletak di asalan? TP 4

unit mengufuk

unit mencancang

10. Nyatakan dua rak barangan yang mempunyai jarak yang sama dari rak barangan alat tulis. KBAT Menilai TP 5

Rak ☐

dan

Rak ☐

Mencapai kejayaan itu tidak mudah tapi bukan mustahil bagi manusia yang berusaha tanpa mengenal erti putus asa...

LIVEWORKSHEETS