โรงเรียนอนุบาลนครราชสีมา

แบบทดสอบวัดผลปลายภาคเรียนที่ 1 ปีการศึกษา 2564

กลุ่มสาระการเรียนรู้คณิตศาสตร์ วิชาคณิตศาสตร์ (พื้นฐาน) รหัส ค 11101

ชั้นประถมศึกษาปีที่ 1 จำนวน 15 ข้อ คะแนนเต็ม 15 คะแนน เวลา 1 ชั่วโมง

ทดสอบระหว่างวันที่ 27 กันยายน 2564 – 1 ตุลาคม 2564

ชื่อ.....ชั้น ป.1/7 (SG) เลขที่.....

<u>คำสั่ง</u> ให้นักเรียนเลือกคำตอบที่ถูกต้อง

1. ข้อใดเขียนแสดงจำนวนใบไม้ได้ถูกต้อง



ก. 6

ข. 8

ค. 9

2. ข้อใดเขียนตัวเลขฮินดูอารบิก ตัวเลขไทย และตัวหนังสือแสดงจำนวนต่อไปนี้ได้ถูกต้อง

ก. ตัวเลขฮินดูอารบิก 8 ตัวเลขไทย ๖ ตัวหนังสือ แปด

ข. ตัวเลขฮินดูอารบิก 8 ตัวเลขไทย ๘ ตัวหนังสือ แปด

ค. ตัวเลขฮินดูอารบิก 9 ตัวเลขไทย ๘ ตัวหนังสือ แปด

LIVEWORKSHEETS

3. เติมตัวเลขแสดงจำนวนที่หายไป

5 + ☐ = 4 + 5 = 9

ก. 4

ข. 5

ค. 6

4. ข้อใดเรียงจำนวนต่อไปนี้จาก**มากไปน้อย**ได้ถูกต้อง

12 17 10 15 13

ก. 10 12 13 15 17

ข. 17 15 12 13 10

ค. 17 15 13 12 10

5. ข้อใดเติมเครื่องหมายได้ถูกต้อง

ก. 10 < 12

ข. 13 > 15

ค. 16 < 14

6. ลูกอมรสนม 4 เม็ด มีลูกอมรสส้ม 6 เม็ด มีลูกอมทั้งหมดกี่เม็ด

ก. 10 เม็ด

ข. 9 เม็ด

ค. 8 เม็ด

LIVEWORKSHEETS

7. ตัวเลขแสดงความสัมพันธ์ของจำนวนแบบส่วนย่อย - ส่วนรวม ข้อใด **<u>ไม่</u>** ถูกต้อง

ก. 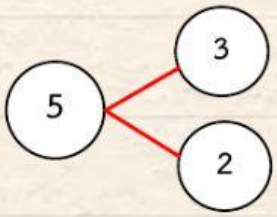

ข. 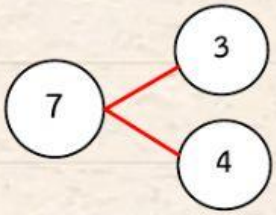

ค. 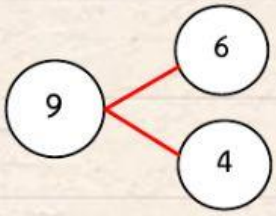

8. การหาผลลบโดยใช้เส้นจำนวน

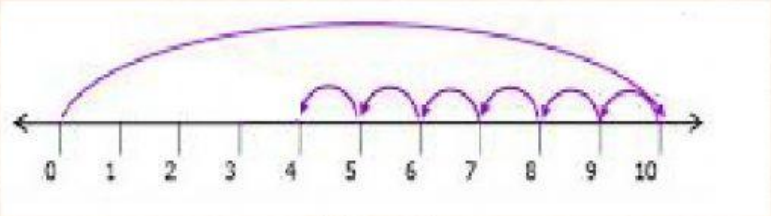

จากรูปแทนการหาผลลบได้ในข้อใด

ก. 10 – 4

ข. 10 – 6

ค. 10 – 10

9. พ่อเลี้ยงไก่ 18 ตัว และเลี้ยงเป็ด 14 ตัว ข้อใดเปรียบเทียบการเลี้ยงเป็ดกับไก่ได้ถูกต้อง

ก. พ่อเลี้ยงเป็ดน้อยกว่าไก่

ข. พ่อเลี้ยงเป็ดมากกว่าไก่

ค. พ่อเลี้ยงไก่น้อยกว่าเป็ด

LIVEWORKSHEETS

10.

ประโยคสัญลักษณ์ **4 + 3 = ☐**

มีดินสอ 4 แท่ง ครูให้อีก 3 แท่ง

ข้อใดเป็นข้อความที่หายไปเพื่อสร้างโจทย์ปัญหาการบวก

ก. เหลือดินสอทั้งหมดกี่แท่ง

ข. ได้ดินสอเพิ่มอีกกี่แท่ง

ค. มีดินสอทั้งหมดกี่แท่ง

11. จงหาผลบวกของ **6 + 5 + 7 = ☐**

ก. 17

ข. 18

ค. 19

12. จงหาผลลบของ **19 – 7 – 3 = ☐**

ก. 9

ข. 10

ค. 11

13. ตามีมะม่วงดิบ 13 ผล มีมะม่วงสุกมากกว่ามะม่วงดิบ 5 ผล ตามีมะม่วงสุกทั้งหมดกี่ผล

ก. 8 ผล

ข. 15 ผล

ค. 18 ผล

LIVEWORKSHEETS

14. นิดมีสมุด 12 เล่ม เพื่อนให้มาอีก 7 เล่ม นิดมีสมุดทั้งหมดกี่เล่ม

ก. 19 เล่ม

ข. 18 เล่ม

ค. 5 เล่ม

15. ข้อใดเป็นการสร้างโจทย์ปัญหาการลบจากประโยคสัญลักษณ์ **16 – 9 = ☐**

ก. ต้นกล้ามีดินสอ 16 เล่ม ซื้อมาเพิ่มอีก 9 เล่ม รวมต้นกล้ามีดินสอกี่เล่ม

ข. ต้นกล้ามีดินสอ 16 เล่ม มีปากกา 9 แท่ง ต้นกล้ามีดินสอมากกว่าปากกากี่เล่ม

ค. เดิมต้นกล้ามีดินสอทั้งหมดกี่เล่ม ถ้าให้เพื่อน 16 เล่ม แล้วยังเหลืออีก 9 เล่ม

LIVEWORKSHEETS