Tên của em là: ..... Lớp: ……..

<u>Bài 1</u>: Viết phân số biểu thị cho số phần được tô màu trong các hình dưới đây.





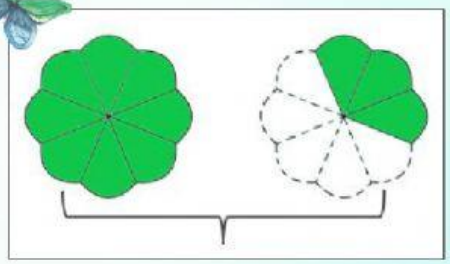

_____ _____ _____

LIVEWORKSHEETS

Bài 2: Tính

$\frac{5}{7} + \frac{4}{9} = \frac{\quad}{\quad} + \frac{\quad}{\quad} = \frac{\quad}{\quad}$

$\frac{4}{5} - \frac{2}{3} = \frac{\quad}{\quad} - \frac{\quad}{\quad} = \frac{\quad}{\quad}$

$\frac{6}{5} \times \frac{7}{8} = \frac{\quad}{\quad} = \frac{\quad}{\quad}$

$\frac{6}{5} : \frac{8}{3} = \frac{\quad}{\quad} \quad \frac{\quad}{\quad} = \frac{\quad}{\quad}$

LIVEWORKSHEETS

Bài 3: Nối phân số với phân số thập phân tương ứng.

$\frac{12}{5}$	$\frac{11}{100}$
$\frac{3}{25}$	$\frac{12}{100}$
$\frac{99}{100}$	$\frac{24}{10}$

LIVEWORKSHEETS