TIA SỐ. SỐ LIỀN TRƯỚC – SỐ LIỀN SAU

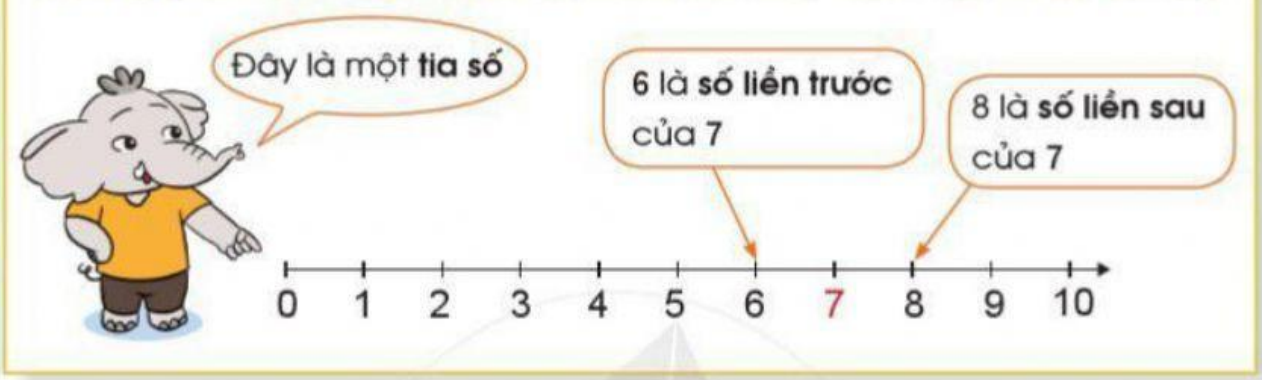

1 a) Xếp các thẻ số vào vị trí thích hợp dưới mỗi vạch của tia số:

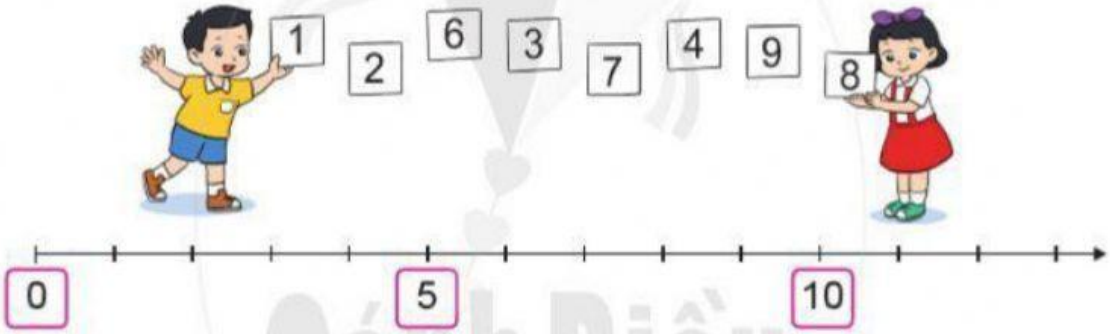

b) Trả lời các câu hỏi:

– Số liền trước của số 5 là số nào?

– Số liền sau của số 9 là số nào?

2 a) Số ?

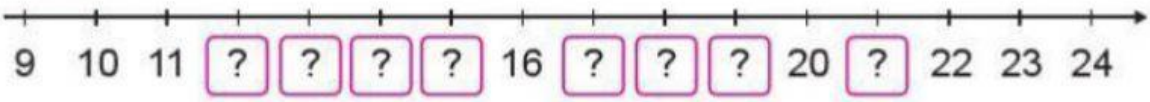

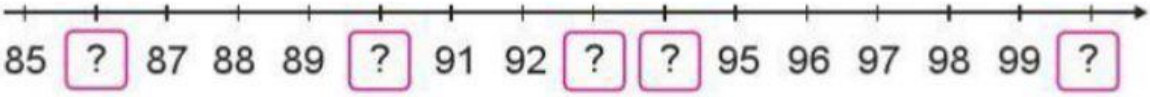

b) Trả lời các câu hỏi:

– Số liền trước của số 16 là số nào?

– Số liền sau của số 85 là số nào?

LIVEWORKSHEETS