SOAL PENILAIAN TENGAH SEMESTER (PTS) 1

Tanda Tangan	Tema	: 1 (Hidup Rukun)	Paraf
Wali Murid	Kelas	: II (dua)	Guru
	Hari/Tanggal	:	
	Waktu	: 90 menit	
.....	Nama	:	

Nilai

PPKn	B. Indo	Matematika			PJOK	SBdP			
KD. 3.1	KD. 3.1	KD. 3.1	KD. 3.2	KD. 3.3	KD. 3.1	KD. 3.1	KD. 3.2	KD. 3.3	KD. 3.4

PPKn KD 3.1

1. Lambang negara Indonesia adalah....
   A. Indonesia Raya
   B. Garuda pancasila
   C. Bhineka Tunggal Ika

2. Simbol sila ***"Persatuan Indonesia"*** adalah....

A	B	C

Sumber soal: koleksisoalsd.blogspot.com

3. Yang wajib menjaga kebersihan rumah adalah....
   A. tetangga sekitar
   B. pemerintahan desa
   C. semua anggota keluarga

4. Kegiatan yang sesuai dengan sila ke-3 adalah....
   A. upacara bendera
   B. beribadah sesuai keyakinan
   C. membantu korban bencana alam

5. Musyawarah menentukan lagu untuk pentas seni adalah sikap yang sesuai dengan sila ke-....
   A. 3
   B. 4
   C. 5

6. Dasar negara kita adalah....

7. Perhatikan gambar di bawah ini!

   Kalimat sila yang sesuai dengan lambang di atas adalah....

8. Tuliskan contoh sikap yang sesuai dengan sila ketiga ketika bermain!

   _____

   _____

   _____

LIVEWORKSHEETS

B. Indonesia KD 3.1

9. Perhatikan gambar di bawah ini!

Sumber soal: koleksisoalsd.blogspot.com

Yang diucapkan oleh guru olahraga di atas adalah kalimat....

A. ajakan
B. perintah
C. penolakan

10. Contoh kalimat penolakan yang baik adalah....

A. Tidak mau, ah. Saya malas mengerjakan piket.
B. Maaf, saya tidak bisa ikut bermain.
C. Jangan kau ganggu dia.

11. Di bawah ini yang termasuk kalimat ajakan adalah....

A. Ayo, kita ke rumah Ali.
B. Tidak, saya sibuk hari ini.
C. Berbarislah sebelum masuk kelas!

12. Perhatikan gambar di bawah ini!

Sumber soal: koleksisoalsd.blogspot.com

Kalimat penolakan ditunjukkan oleh nomor....

A. 1
B. 2
C. 3

13. Kalimat penolakan biasanya ditandai dengan kata....

A. maaf
B. siap
C. oke

14. Perhatikan lagu di bawah ini!

Ciptaan Pak Kasur

Sebelum kita makan dik
Cuci tanganmu dulu
Menjaga kebersihan dik
Untuk kesehatanmu
Banyak banyak makan
Jangan ada sisa
Makan jangan bersuara
Banyak banyak makan
Jangan ada sisa
Ayo makan bersama

Kalimat perintah yang terdapat pada lirik lagu di atas adalah....

LIVEWORKSHEETS

15. Perhatikan gambar di bawah ini!

Kalimat ajakan yang tepat untuk melengkapi percakapan di atas adalah....

16. Perhatikan gambar di bawah ini!

Buatlah 1 kalimat perintah yang sesuai dengan gambar di atas!

_____

_____

_____

Matematika KD 3.1

17. Perhatikan gambar di bawah ini!

Banyaknya buku pada gambar di atas adalah....

A. 57
B. 50
C. 7

18. Perhatikan gambar di bawah ini!

Kubus di atas menggambar kan bilangan....

A. 445
B. 454
C. 544

LIVEWORKSHEETS

Matematika KD 3.2

19. Bandingkan kubus Udin dan kubus Edo di bawah ini!

Pernyataan yang benar adalah....

A. Kubus Udin lebih banyak dari pada kubus Edo
B. Kubus Edo lebih banyak dari pada kubus Udin
C. Kubus Udin sama dengan kubus Edo

20. **225** ... **252**

Tanda yang tepat untuk mengisi titik-titik di atas adalah....

A. >
B. <
C. =

21. Perhatikan gambar di bawah ini!

Gambar 1 Gambar 2 Gambar 3

Gambar di atas yang menunjukkan angka yang paling banyak adalah....

A. Gambar 1
B. Gambar 2
C. Gambar 3

Matematika KD 3.3

22. Perhatikan gambar di bawah ini!

Jumlah seluruh siswa adalah....

23. Hasil dari **515** + **349** adalah ....

24. Bu Guru memiliki 275 lembar kerta. Kertas itu dibagikan kepada 39 siswa. Bila masing-masing siswa menerima 1 lembar kertas, berapa sisa kertas Bu Guru?

_____

_____

_____

LIVEWORKSHEETS

PJOK KD 3.1

25. Gambar anak berjalan ke samping adalah....

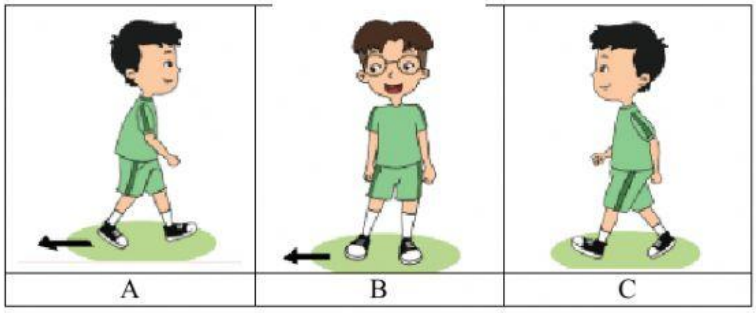

26. Perhatikan gambar di bawah ini!

Mereka sedang menirukan cara berjalan....

A. bebek
B. kucing
C. kelinci

27. Hewan di bawah ini yang berjalan dengan cara merayap adalah....

A. ayam
B. katak
C. ular

28. Sikap berjalan yang benar adalah....

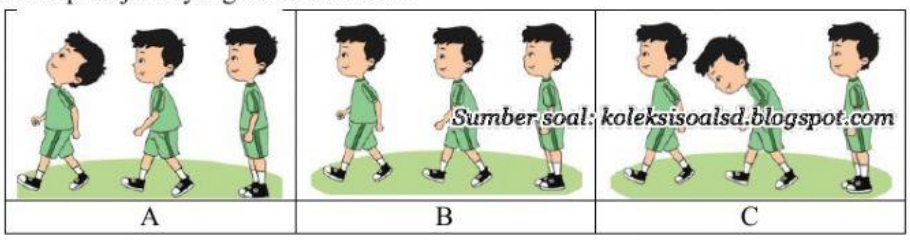

29. Gambar di bawah ini yang mempraktikkan lari panjang adalah....

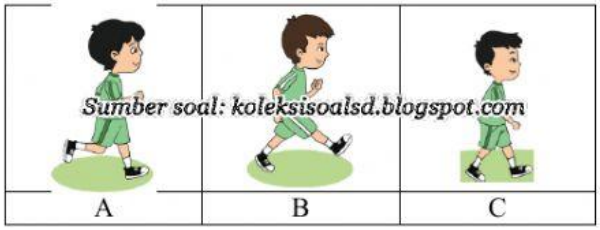

LIVEWORKSHEETS

30. Perhatikan gambar di bawah ini!

Mereka sedang memainkan permainan....

31. Cara berjalan yang benar, bila kaki kanan melangkah ke depan, yang melambai ke depan adalah tangan....

32. Jelaskan cara lari berpasangan!

_____

_____

_____

SBdP KD 3.1

33. Perhatikan gambar di bawah ini!

Alat yang digunakan untuk menggabar di atas adalah....

A. pensil
B. krayon
C. cat minyak

34. Perhatikan gambar di bawah ini!



Di atas adalah sketsa gambar....

A. burung
B. ayam
C. bebek

SBdP KD 3.2

35. Pada sebuah lagu yang dinyanyikan, bunyi panjang terdengar lebih....

A. lama
B. pelan
C. pendek

LIVEWORKSHEETS

36. Perhatikan penggalan lagu "***Peramah dan Sopan***" di bawah ini!

Bu-kan-nya cong-kak
1 2
… … … … …
Bu-kan-nya som-bong
… … … … …3

Suku kata yang mendapat tekanan kuat adalah suku kata bernomor....

A. 1
B. 2
C. 3

SBdP KD 3.3

37. Contoh gerakan tangan adalah....

A. menggeleng
B. melambai
C. jinjit

38. Perhatikan gambar di bawah ini!

Gambar di atas merupakan contoh gerakan....

SBdP KD 3.4

39. Perhatikan gambar di bawah ini!

Bahan yang digunakan untuk membuat karya di atas adalah....

40. Jelaskan cara membuat karya kolase dari biji-bijian!

_____
_____
_____

LIVEWORKSHEETS