EVALUACIÓN DE GEOMETRIA GRADO TERCERO

Nombre: _____

1. **Une con una línea según corresponda.**

Equilátero	Dos lados iguales
Acutángulo	Tres lados desiguales
Escaleno	Tres ángulos agudos
Rectángulo	Tres lados iguales
Isósceles	Un ángulo obtuso
Obtusángulo	Un ángulo recto

2. **Selecciona o encierra los triángulos rectángulos.**

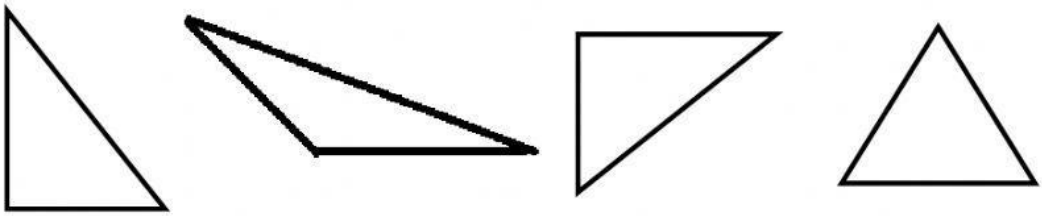

3. **Elije o escribe el nombre de cada triángulo según la medida del ángulo.**

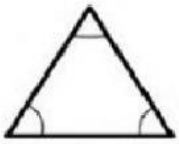	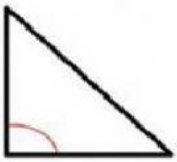	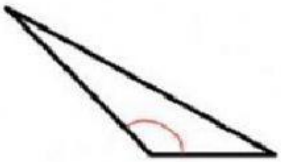
Triángulo _____ 3 ángulos agudos.	Triángulo _____ 1 ángulo recto.	Triángulo _____ 1 ángulo obtuso.

4. **Marca las afirmaciones correctas.**

a) Un triángulo puede ser isósceles y también obtusángulo.
b) Un triángulo puede ser escaleno y también acutángulo.
c) Un triángulo puede ser rectángulo y también equilátero.
d) Un triángulo puede ser equilátero y también obtusángulo.

5. **Elije o escribe el nombre de cada triángulo según la medida de los lados.**

	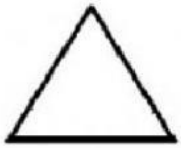	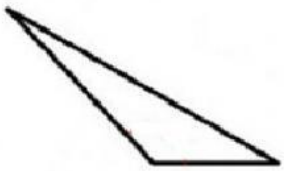
Triángulo _____tiene 2 lados iguales y uno diferente.	Triángulo _____ tiene todos sus lados iguales.	Triángulo _____ tiene todos sus lados diferentes

LIVEWORKSHEETS