ชื่อ _____ เลขที่ _____

พิจารณาการนำเสนอข้อมูลต่อไปนี้แล้วตอบคำถาม

1 **มูลค่าการส่งออกสินค้า 5 อันดับของประเทศไทย พ.ศ. 2559**

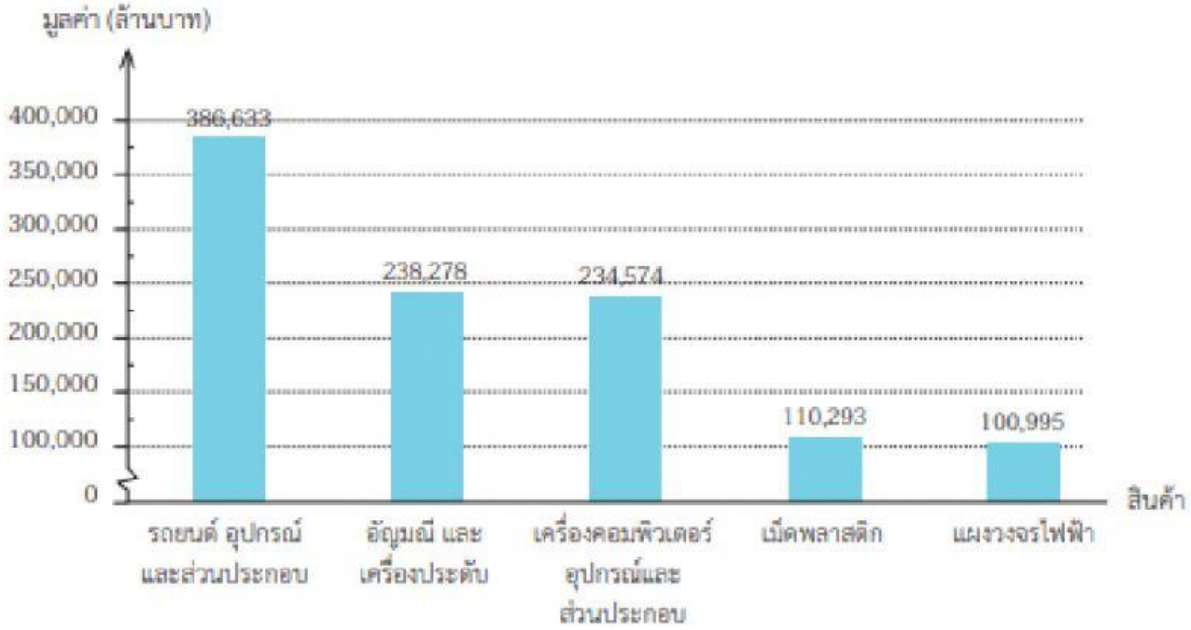

ที่มา : ธนาคารไทยพาณิชย์

1) การส่งออกอัญมณีและเครื่องประดับมีมูลค่ามากกว่าการส่งออกเม็ดพลาสติกเท่าใด

ตอบ _____

2) การส่งออกสินค้าอันดับที่ 1 กับอันดับที่ 5 มีมูลค่าต่างกันเท่าใด

ตอบ _____

LIVEWORKSHEETS

2 มูลค่าการส่งออกข้าวหอมมะลิของประเทศไทย พ.ศ. 2559–พ.ศ. 2560 ไปยัง 4 ประเทศ

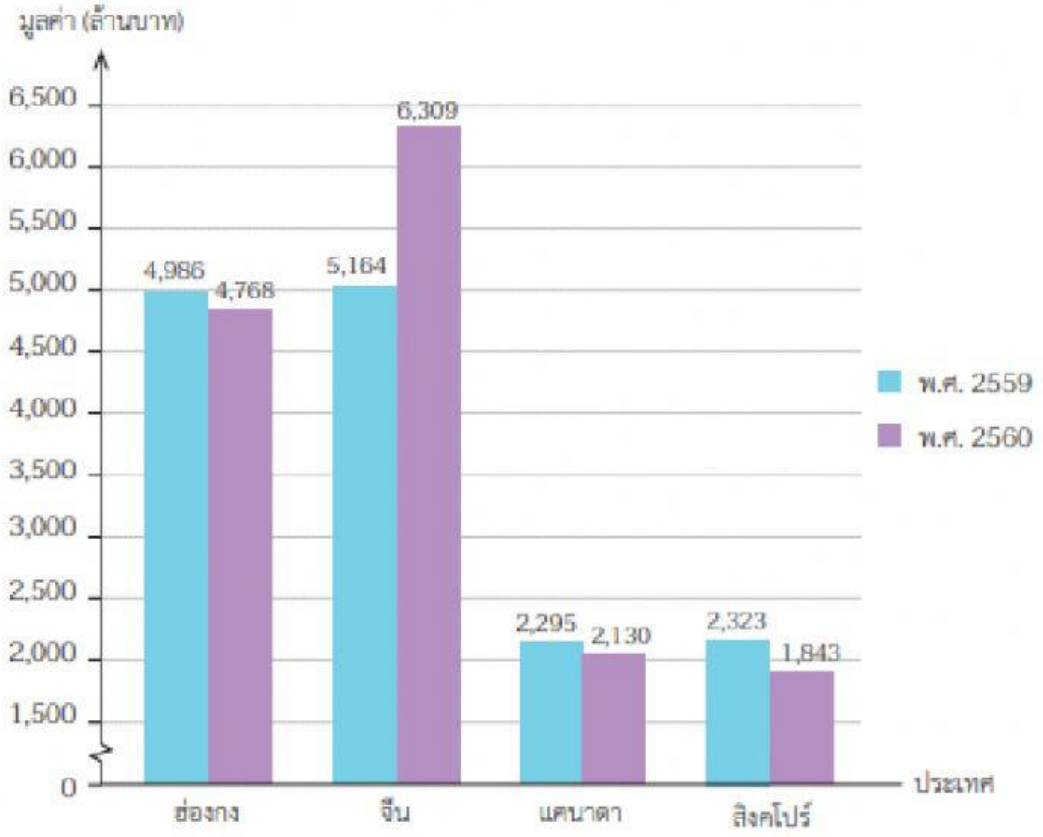

ที่มา : กรมการค้า กระทรวงพาณิชย์

1) ประเทศไทยส่งออกข้าวหอมมะลิไปยังประเทศใดมากที่สุด และมีมูลค่าเท่าใด

ตอบ .....

2) พ.ศ. 2560 การส่งออกข้าวหอมมะลิไปยังประเทศใดมีมูลค่าลดลง

ตอบ .....

LIVEWORKSHEETS

อุณหภูมิเขตปทุมวันของวันที่ 7 มีนาคม พ.ศ. 2562 เวลา 06.00 - 18.00 น.

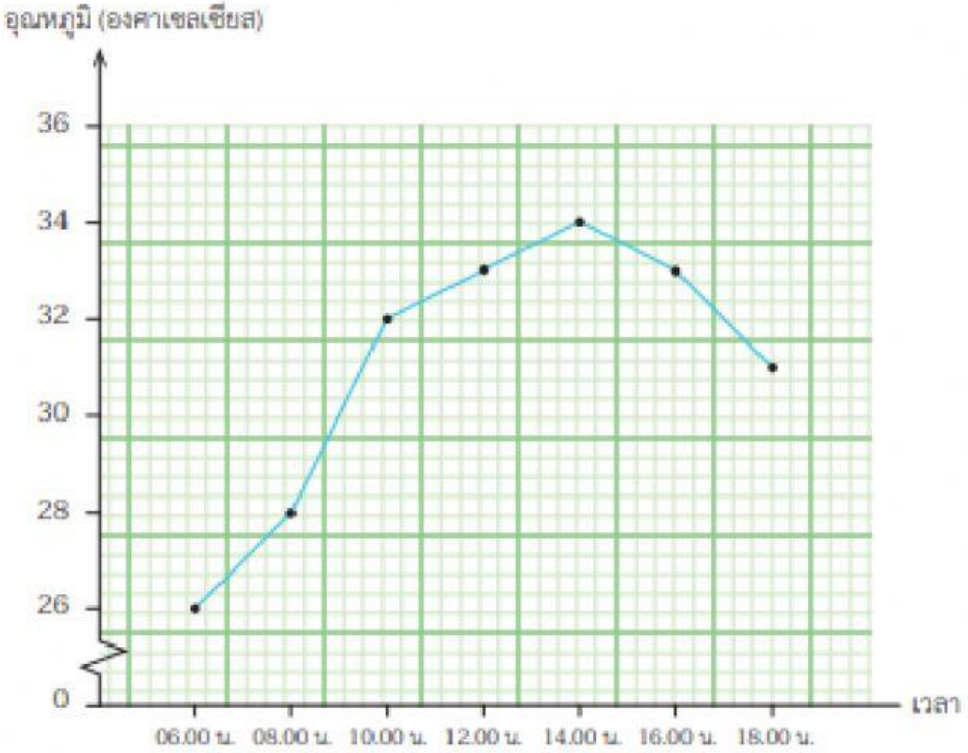

ที่มา : www.weather.com

1. อุณหภูมิสูงสุดเวลาใด และอุณหภูมิเป็นเท่าใด

ตอบ .....

2. อุณหภูมิสูงสุดกับอุณหภูมิต่ำสุดต่างกันเท่าใด

ตอบ .....

3. เวลา 9 นาฬิกา วัดอุณหภูมิได้เท่าใด

ตอบ .....

LIVEWORKSHEETS

ตอบคำถามโดยใช้ข้อมูลต่อไปนี้

1 ปริมาณการจำหน่ายน้ำมันดีเซลเฉลี่ยต่อวัน ในช่วง 6 เดือนหลังของ พ.ศ. 2558 - พ.ศ. 2559

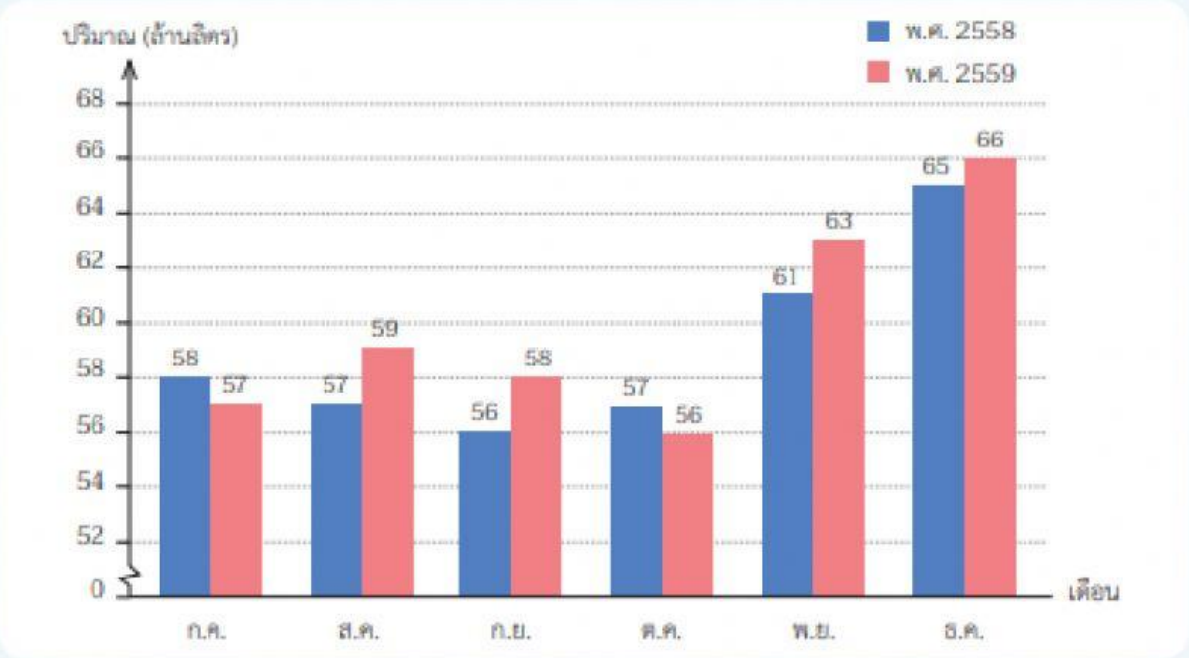

ที่มา : กระทรวงพลังงาน

1) เดือนกรกฎาคม พ.ศ. 2558 กับเดือนกรกฎาคม พ.ศ. 2559 ปริมาณการจำหน่ายน้ำมันดีเซลต่างกันเท่าใด

ตอบ .....

2) ถ้าน้ำมันดีเซลราคาลิตรละ 27.25 บาท เดือนธันวาคม พ.ศ. 2559 จะมีรายได้จากการจำหน่ายน้ำมันดีเซลเท่าใด

ตอบ .....

LIVEWORKSHEETS

2 **ปริมาณการส่งออกยางพาราของประเทศไทย พ.ศ. 2552-พ.ศ. 2560 (หน่วยเป็นล้านตัน)**

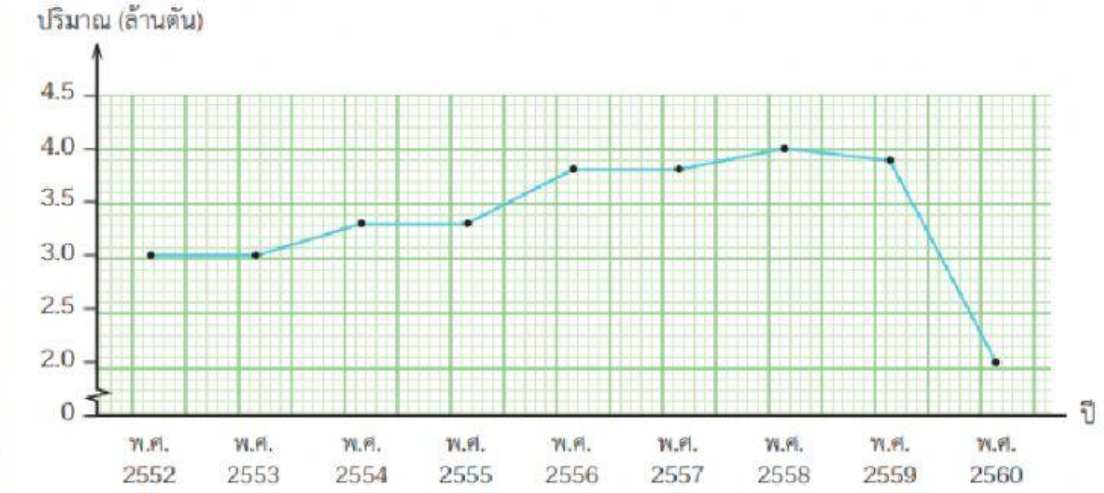

ที่มา : ศูนย์บริการข้อมูลสารสนเทศ กระทรวงพาณิชย์

ถ้า พ.ศ. 2560 ยางพาราราคากิโลกรัมละ 53 บาท ประเทศไทยได้รับเงินจากการส่งออกยางพาราเท่าใด

LIVEWORKSHEETS