Nama Siswa:

Kerjakanlah Soal Berikut!

Lani belajar menghitung benda-benda. Berapakah jumlah benda yang dihitung Lani?



....



....



....



....

Sekarang lengkapilah urutan bilangan 11 sampai 20 dari yang terkecil.

11 .... 13 .... 15 .... 17 .... 19 ....

Sekarang lengkapilah urutan bilangan berikut dari yang terbesar!

20 19 ... 17 ... ... 14 11

LIVEWORKSHEETS

Tentukan bilangan yang tepat pada kumpulan benda di bawah ini!

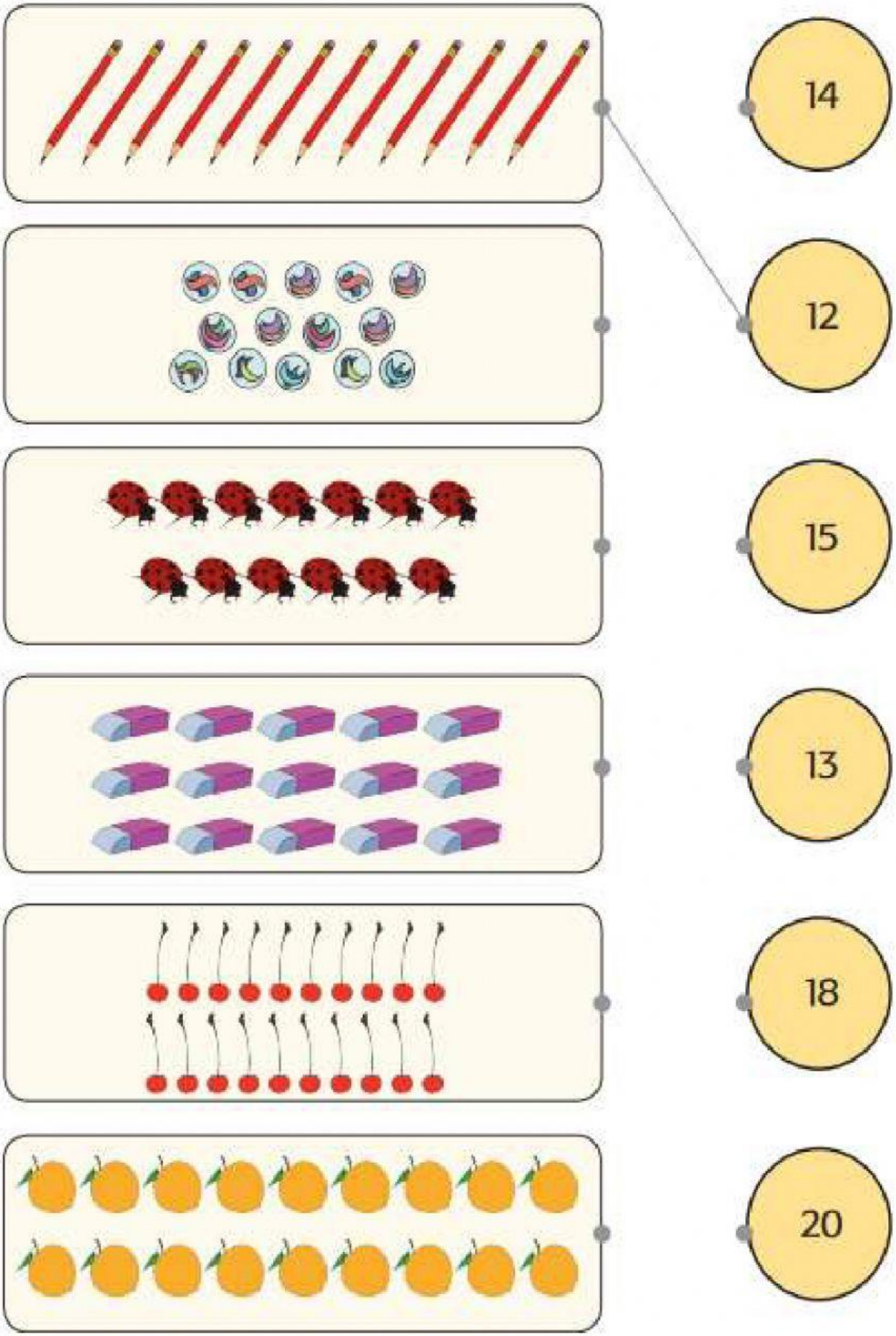

LIVEWORKSHEETS

Ayo Mengamati

Sila-sila Pancasila memiliki simbol. Berikut ini adalah simbol sila-sila Pancasila.

1. Ketuhanan Yang Maha Esa
2. Kemanusiaan yang adil dan beradab
3. Persatuan Indonesia
4. Kerakyatan yang dipimpin oleh hikmat kebijaksanaan dalam permusyawaratan/perwakilan
5. 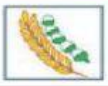 Keadilan sosial bagi seluruh rakyat Indonesia

Nah, coba kamu pasangkan bunyi teks Pancasila berikut ini dengan simbolnya. Buatlah garis untuk mencocokkannya.

Kemanusiaan yang adil dan beradab	
Ketuhanan Yang Maha Esa	
Persatuan Indonesia	
Keadilan sosial bagi seluruh rakyat Indonesia	
Kerakyatan yang dipimpin oleh hikmat kebijaksanaan dalam permusyawaratan/perwakilan	

LIVEWORKSHEETS