Elev: _____ Data: _____

Evaluare sumativă

Medii de viață. Înmulțirea și împărțirea numerelor naturale (0-100)

1. Veverița Vivi caută alune în copacii din pădure. Ajut-o să găsească alune, încercuind varianta corectă.

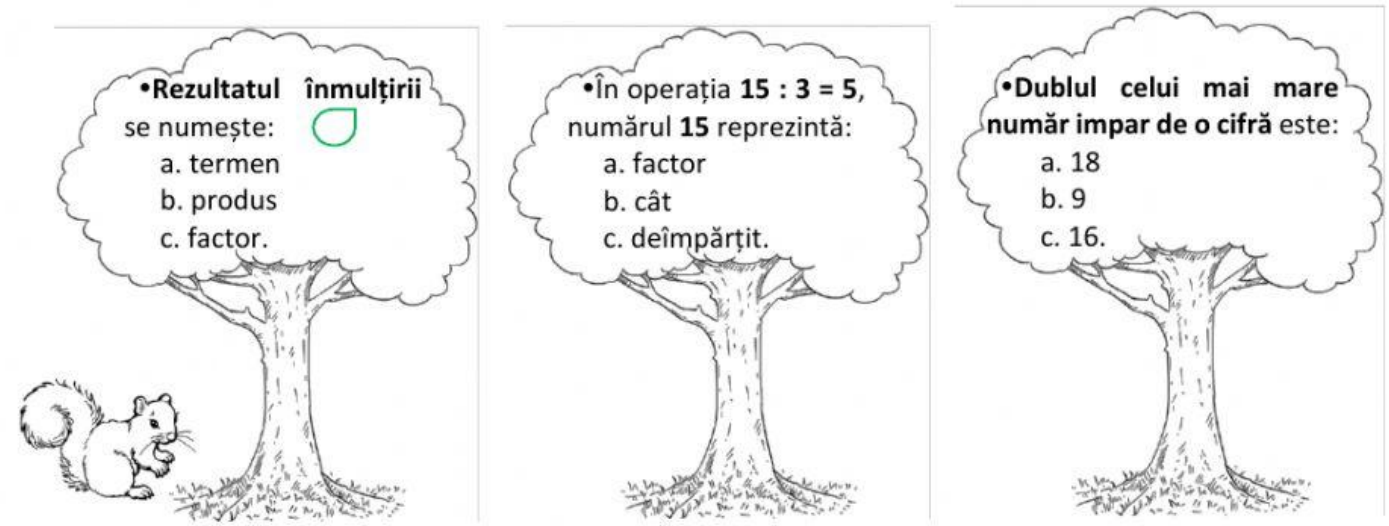

2.a).Calculează:

4 x 7 = ____ D

72 : 8 = ____ R

20 : 2 = ____ U

6 x 8 = ____ A

50 : 10= ____ E

8 x 7 = ____ P

b). Scrie rezultatele în ordine descrescătoare. Sub fiecare număr scrie litera corespunzătoare.

*Vei afla cum se numește mediul natural de viață în care cresc arbori, arbuști, ierburi necultivate de oameni.

Rezultatele în ordine descrescătoare						
Cuvântul descoperit						

3.Trasează săgeți între fiecare operație de împărțire scrisă pe pinguin și peștișorul potrivit, știind că pe peștișor este scrisă proba împărțirii de pe pinguin.



4.Pe fiecare nufăr, completează numărul care lipsește.



LIVEWORKSHEETS

5. Rezolvând corect exercițiile de mai jos, vei ajuta ursul polar să ajungă la puiul său.



Câtul numerelor 36 și 9 este ...

Numărul de 7 ori mai mic decât 21 este ...

Produsul numerelor 6 și 9 este ...

Jumătatea numărului 16 este ...

Numărul de 4 ori mai mare decât 8 este ...

Triplul numărului 5 este ...

6. Rezolvă problema folosind planul de rezolvare.

Din lacul de la marginea localității, Matei a pescuit într-o zi 18 știuci, iar a doua zi de 2 ori mai puțini carași. Câți pești a prins Matei în cele două zile, în total?

7. Într-o imagine cu animale care trăiesc în deșert, Ioana a văzut 5 cămile și 4 struți.

Câte picioare au toate aceste animale la un loc?

Scrie rezolvarea sub forma unui exercițiu.



8. *Adevărat sau fals?* Citește enunțurile de mai jos. Colorează numele animalului care are dreptate.

Ursul polar	În apa bălților trăiesc pinguini, foci și balene.
Foca	În Delta Dunării trăiesc păsări ocrotite de om, precum lebăda și pelicanul.
Morsa	Cămila poate rezista perioade lungi de timp fără să bea apă.
Vulpea polară	Ursul polar se hrănește cu foci.
Bufnița polară	În pădurile din zona de munte se întâlnesc: brazi, nuferi, pini, stejari, trestie.
Renul	Marea Neagră este o apă stătătoare, puțin adâncă, provenită din ploi sau topirea zăpezilor.

LIVEWORKSHEETS