CLC SABAH TEA-TKB PERMATA LOHAN
PENILAIAN TENGAH SEMESTER TAHUN PELAJARAN 2021/2022
PTS KELAS 2 TEMA 1 SESI 2

Nama : **Hari, Tanggal :**
Kelas : **Waktu : 90 Menit**

A. **Soal Pilihan Ganda**
Pilihlah salah satu jawaban yang paling tepat!

1. 300 + 70 + 7 merupakan bentuk panjang dari bilangan ….
   a. 307
   b. 773
   c. 377

2. 467 dibaca ….
   a. empat ratus tujuh puluh enam
   b. tujuh ratus enam puluh empat
   c. empat ratus enam puluh tujuh

3. Tiga ratus lima puluh dua ditulis ….
   a. 352
   b. 532
   c. 253

4. Dondo memiliki 3 mainan robot yang bertuliskan nomor seri.
   Nomor seri keempat robot tersebut antara lain 345, 137, dan 403.
   Nilai tempat angka 3 yang paling kecil adalah ….
   a. 345
   b. 137
   c. 403

5. Perhatikan gambar berikut!

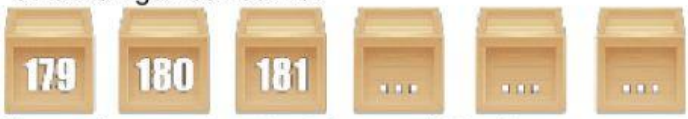

   Tiga angka yang tepat untuk mengisi bagian rumpang pada gambar tersebut adalah…
   a. 182, 183, 184
   b. 183, 185, 188
   c. 180, 179, 178

6. Di taman bermain sangat penuh dengan pengunjung.
   Para pengunjung dapat digolongkan orang tua, remaja, dan anak-anak.
   Pengunjung dengan golongan orang tua berjumlah 125 orang.
   Untuk remaja berjumlah 117 orang.
   Sedangkan untuk anak-anak berjumlah 173 orang.
   Golongan yang paling banyak memenuhi taman bermain adalah ….
   a. orang tua
   b. anak-anak
   c. remaja

LIVEWORKSHEETS

7. Cici sedang membeli berbagai macam permen di warung.
   Dia membeli 120 permen coklat, 205 permen kacang, dan 107 permen vanilla.
   Jenis permen yang paling sedikit dibeli oleh cici adalah ….
   a. permen coklat
   b. permen vanilla
   c. permen kacang

8. 384 - 189 = ...
   a. 205
   b. 195
   c. 75

9. 524 - 472 = ….
   a. 97
   b. 72
   c. 52

10.

   a. 257
   b. 475
   c. 327

11. Ale berjalan ke samping kanan.
   Gerakan kaki yang dilakukan Ale adalah ....
   a. kaki kanan melangkah ke kanan
   b. kaki kiri dilangkahkan ke kanan
   c. kaki kanan dilangkahkan ke depan

12. Perhatikan gambar berikut!
   
   Latihan pada gambar tersebut dilakukan dengan gerak dasar ....
   a. berjingkat
   b. memantul
   c. meloncat

LIVEWORKSHEETS

13. Perhatikan gambar berikut!

Eko berlari berpasangan dengan Ale seperti pada gambar tersebut.
Tangan kanan Eko diayun ke depan, maka tangan kiri Eko ....

a. diayun ke belakang
b. diayun ke depan
c. saling berpegangan tangan

14. Perhatikan gambar berikut!

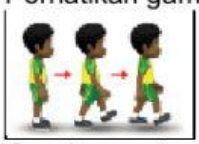

Gerakan pada gambar tersebut adalah latihan ....

a. berjalan ke depan
b. berlari ke depan
c. berjingkat ke depan

15. Ale lari berpasangan sambil bergandengan tangan dengan Eko.
Gerakan lari berpasangan dilakukan dengan melangkah secara ....

a. sendiri-sendiri
b. bersamaan
c. berjingkat

16. Perhatikan gambar berikut!

Anggota tubuh yang digerakkan oleh Made pada gambar tersebut adalah ....

a. kepala
b. tangan
c. kaki

17. Ale melihat penari berjalan jinjit.
Penari tersebut melakukan gerak dasar ....

a. tangan
b. kaki
c. kepala

LIVEWORKSHEETS

18. Bahan alam berikut bisa digunakan untuk membuat hiasan bingkai foto, *kecuali* ....
    a. pasir
    b. biji-bijian
    c. manik-manik

19. Bahan alam berikut ini berasal dari pohon, *kecuali* ....
    a. biji-bijian
    b. bunga kering
    c. bulu ayam

20. Gambar berikut yang digunakan untuk memotong bahan adalah ....
    a.

    b.

    c.

Soal Isian

1. 6 ratusan + 5 puluhan + 7 satuan = ...

2. Suatu bilangan dengan nilai ratusannya 8, serta nilai puluhan dan satuannya 7 adalah ....

3. Ibu Cici membeli 478 buah sawo dan 512 buah manggis.
   Buah yang paling banyak ibu beli adalah ....

4. Hasil dari 398 - 289 + 102 = ...

5. Perhatikan gambar berikut!
   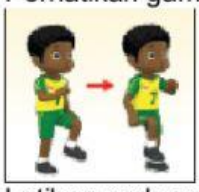
   Latihan pada gambar tersebut adalah gerakan lari ....

6. Berjalan ke belakang dilakukan dengan pandangan ke arah ....

7. Posisi badan … saat sedang berjalan.

LIVEWORKSHEETS

8. Perhatikan gambar berikut.

Nama alat gambar di atas adalah ....

9. Untuk menghapus pola gambar yang salah, kita menggunakan ....

10. Bunyi yang terdengar beraturan disebut dengan istilah ....

LIVEWORKSHEETS