2021 九月份

五年级

科学

试卷(二)

LIVEWORKSHEETS
Interactive worksheets

试卷二 时间：1小时

作答说明: 这份试卷共有 **8** 题，全部题目必须作答。

Untuk Kegunaan Pemeriksa

1. 图 1 显示一把剪刀在三年前和现在的质量。

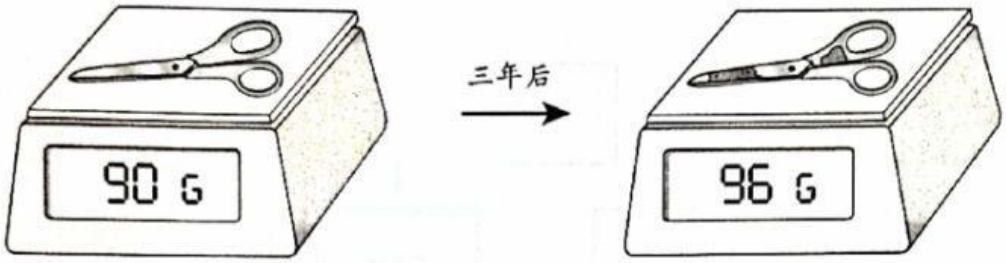

图 1

(*a*) 根据图1，写出一个理由。

_____

_____

[1分]

1(*a*) 1

(*b*) 什么因素造成剪刀现在的情况？

_____

[1分]

1(*b*) 1

(*c*) 如果剪刀的状况持续下去，将会发生什么事？

_____

[1分]

1(*c*) 1

(*d*) 写出一种方法以避免发生图 1 的情况。

_____

[1分]

1(*d*) 1

Jumlah 1 4

Scanned with CamScanner LIVEWORKSHEETS

Untuk Kegunaan Pemeriksa

2. 图 2 显示物质 F。



图 2

2(a) (*a*) 写出物质 F 的物质形态。

_____

[1 分]

2(b) (*b*) 写出物质 F 的一个特征。

_____

[1 分]

2(c) (*c*) 写出另一个物质形态与物质 F 有固定的体积。

_____

[1 分]

2(d) (*d*) 根据 2(*c*) 的答案，写出一种最有可能是该物质形态的物品。

_____

[1 分]

Jumlah 2 4

Scanned with CamScanner LIVEWORKSHEETS

3. (*a*) 图 3 显示植物的自卫方式。
在 (i) 和 (ii) 的空格里，写上正确的答案，完成图 3。

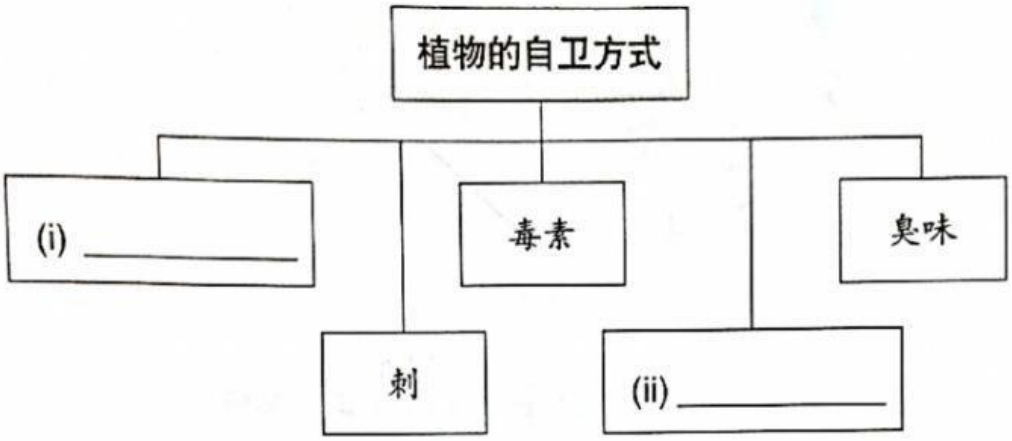

图 3

[2分]

(*b*) 写出一种以臭味来保护自己的植物。

_____

[1分]

(*c*) 写出一种以毒素来自卫的植物。

_____

[1分]

(*d*) 根据你在3(*c*)的答案，如果动物误食了该植物，将会发生什么事？

_____

[1分]

Untuk Kegunaan Pemeriksa

3(*a*) 2

3(*b*) 1

3(*c*) 1

3(*d*) 1

Jumlah 3 5

Scanned with CamScanner
LIVEWORKSHEETS

Untuk Kegunaan Pemeriksa

4. 图 4 显示一种星座。

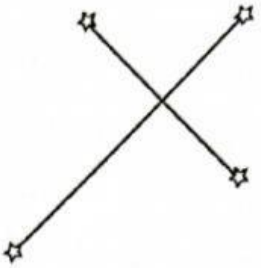

图 4

4(a) 1

(a) 写出图 4 星座的名称。

_____

[1分]

4(b) 1

(b) 写出图 4 星座的一个特征。

_____

[1分]

(c) 写出两个星座的用途。

4(c) 2

(i) _____

(ii) _____

[2分]

4(d) 1

(d) 写出另一个星座的用途与图 4 的星座相同。

_____

[1分]

Jumlah 4

5

Scanned with CamScanner
LIVEWORKSHEETS

5. 图 5.1 显示两种动物，K 和 L。



图 5.1

(*a*) 写出动物 K 和动物 L 的两个共同点。

(i) _____

(ii) _____

[2分]

(*b*) 写出另一个动物适应恶劣气候的方式与上图的动物相同。

_____

[1分]

(*c*) (i) 图 5.2 显示一种动物。



图 5.2

写出图 5.2 动物保护幼儿的方式。

_____

[1分]

(ii) 写出另一种动物保护幼儿的方式与图 5.2 相同。

_____

[1分]

Untuk Kegunaan Pemeriksa

5(*a*) 2

5(*b*) 1

5(*c*)(i) 1

5(*c*)(ii) 1

Jumlah 5

5

Scanned with CamScanner
LIVEWORKSHEETS

Untuk Kegunaan Pemeriksa

6. 图 6 显示两种动物，X 和 Y。

X

Y

图 6

(*a*) 根据图 6，写出下面的动物的一个自卫方法。

6(*a*) 2

(i) X : _____

(ii) Y : _____

[2分]

(*b*) 根据你在 6(*a*) 的答案，写出下面的动物的另一个例子。

6(*b*) 2

(i) X : _____

(ii) Y : _____

[2分]

(*c*) 河豚遇到危险时身上的刺会膨胀，吓跑敌人。

根据上面的说明，写出河豚的自卫方法。

6(*c*) 1

_____

[1分]

Jumlah 6

5

Scanned with CamScanner
LIVEWORKSHEETS

7. 图 7 显示一种电路。

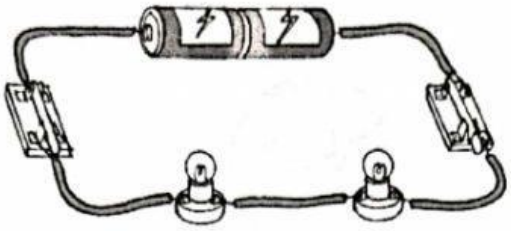

图 7

(a) 光昌在这个电路中加入一个干电池。预测灯泡的情况。

_____

[1分]

(b) 根据 7(a) 的答案，写出一个原因。

_____

[1分]

(c) 写出两项节省用电的方法。

(i) _____

(ii) _____

[2分]

(d) 写出两项正确使用电器的方法。

(i) _____

(ii) _____

[2分]

Untuk Kegunaan Pemeriksa

7(a) 1

7(b) 1

7(c) 2

7(d) 2

Jumlah 7 6

Scanned with CamScanner
LIVEWORKSHEETS

Untuk Kegunaan Pemeriksa

8. 表 2 显示一些物质的形态。

性质 \ 物质	石头	牛奶	水蒸气	玻璃碗
质量	有	有	有	有
占据空间	会	会	会	会
有 / 没有固定的形状	有	没有	没有	有
有 / 没有固定的体积	有	有	没有	有

表 2

(*a*) 根据表 2 所提供的资料，依照物质的性质分类。

8(*a*) 2

物质

有固定的形状	没有固定的形状
(i) _____	(iii) _____
(ii) _____	(iv) _____

[2分]

(*b*) 根据表2所提供的资料，写出一个会占据空间却没有固定形状的物质。

8(*b*) 1

_____

[1分]

(*c*) 写出石头和水蒸气之间的两个不同的性质。

8(*c*) 2

(i) _____

(ii) _____

[2分]

8(*d*) 1

(*d*) 水在 20°C 时，处于形态 X。

根据上面的说明，表 2 的哪个物质也处于形态 X？

_____

[1分]

Jumlah 8 6

Scanned with CamScanner LIVEWORKSHEETS