LEMBAR KERJA PESERTA DIDIK

TEMA 3
SUBTEMA 2
PEMBELAJARAN 3

LIVEWORKSHEETS

PETUNJUK PEMBELAJARAN

Berdoalah sebelum mengerjakan tugas!

Tulislah nama pada kolom yang tersedia

Simaklah video pembelajaran yang ada dalam LKPD

Kerjakan soal dengan penuh tanggung jawab

Tekan FINISH jika sudah selesai mengerjakan soal!

Good Luck!

LIVEWORKSHEETS

Nama Siswa

LIVEWORKSHEETS

Simak Video Pembelajaran dibawah ini !

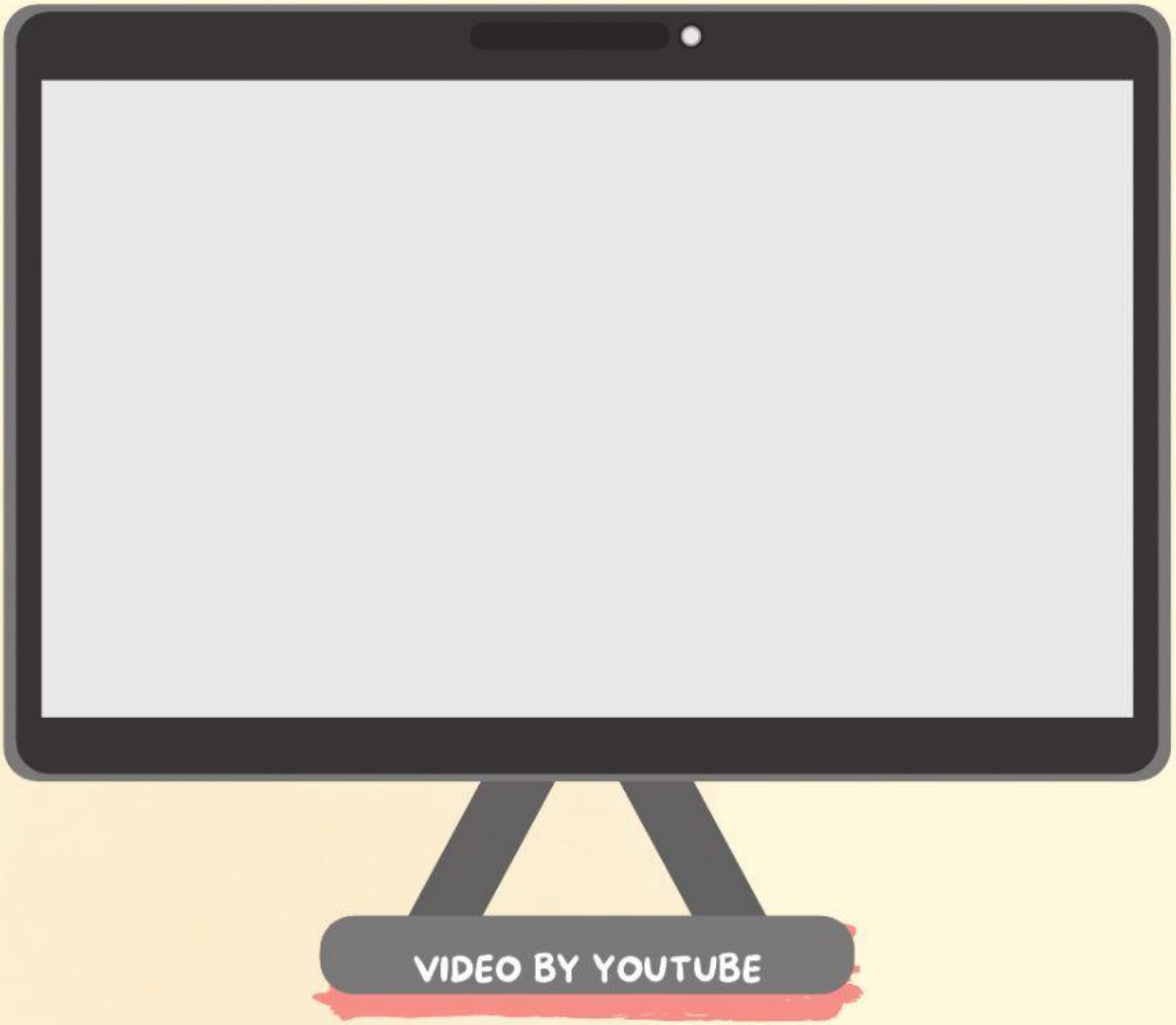

LIVEWORKSHEETS

ILMU PENGETAHUAN ALAM

A. Pindahkan nama bagian pada kotak di bawah ke tempat yang sesuai dengan gambar burung berikut!



MATA	EKOR
SAYAP	CAKAR
PARUH	

LIVEWORKSHEETS

B. Tariklah garis antara bagian hewan dengan fungsinya yang sesuai!

PARUH	Untuk mencengkeram mangsa dan bertengger di dahan pohon
SAYAP	Untuk mengambil makanan
EKOR	Untuk melihat
CAKAR	Untuk mengatur pergerakan saat terbang
MATA	Untuk terbang

LIVEWORKSHEETS

Simak Video Pembelajaran dibawah ini !

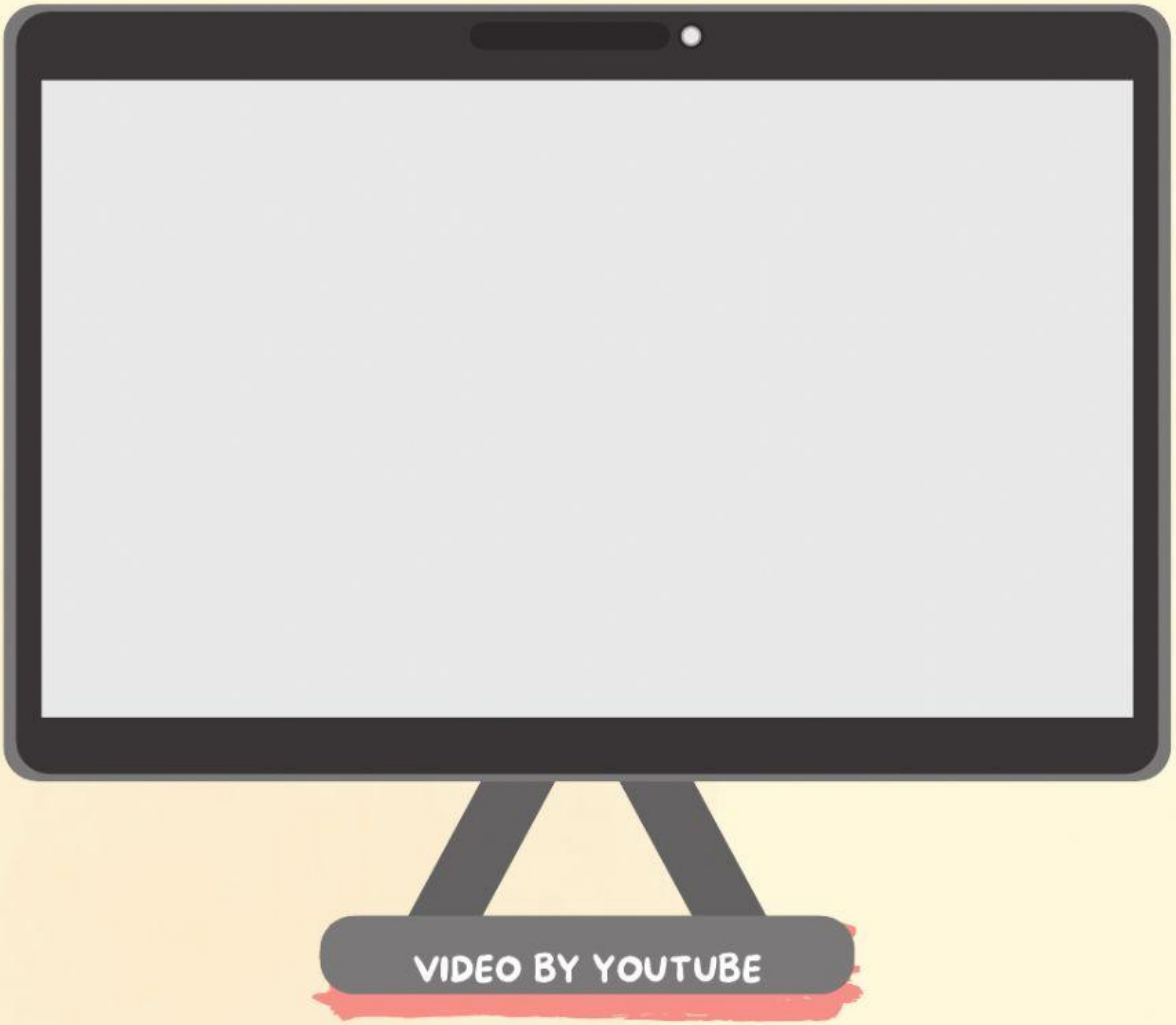

LIVEWORKSHEETS

BAHASA INDONESIA

Pilihlah pertanyaan yang sesuai dengan gambar-gambar berikut!

LIVEWORKSHEETS