# 1 TESTAS

Data: .....

**1** Parašyk gretimus skaičius.

**2** Skaičius 709 yra tarp skaičių ☐ ir ☐.
Skaičius 880 yra tarp skaičių ☐ ir ☐.
Skaičius 200 yra tarp skaičių ☐ ir ☐.

**3** Suskaičiuok.

| | | | | | | |
|---|---|---|---|---|---|---|
| + 226 / 163 | + 347 / 229 | + 456 / 197 | − 579 / 236 | − 470 / 183 | − 800 / 274 | − 1000 / 337 |
| ☐ | ☐ | ☐ | ☐ | ☐ | ☐ | ☐ |

**4** Parduotuvė iš ūkininko nupirko 120 kg obuolių, o kriaušių – 55 kg mažiau.
Kiek kilogramų kriaušių nupirko parduotuvė?



**5** Sudėtį pakeisk daugyba ir apskaičiuok.

26 + 26 + 26 = ☐ · ☐ = ☐
15 + 15 + 15 + 15 + 15 = ☐ · ☐ = ☐
157 + 157 + 157 = ☐ · ☐ = ☐

**6** Suskaičiuok.

× 36 / 7 × 219 / 2 832 ⌊4 55 ⌊6

LIVEWORKSHEETS

**7** Voveraitė rado 47 riešutus, o kiaunė – 6 kartus daugiau. Kiek riešutų rado abu žvėreliai?



**8** Palygink (įrašyk ženklą <, = arba >).

58 cm ☐ 85 m

14 dm ☐ 140 cm

37 kg ☐ 307 g

695 g ☐ 695 kg

**9** Laikrodis skuba 10 min.
Parašyk tikslų laiką.

Tikslus laikas: .....

**10** Išmatuok stačiakampio *ABCD* kraštinių ilgius, apskaičiuok to stačiakampio plotą ir perimetrą.




Teisingai atlikęs visas testo užduotis, galėjai surinkti 30 riešutėlių.

Tavo krepšelyje yra 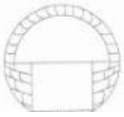 .

Įvertinimas .....

LIVEWORKSHEETS

# PAPILDOMOS UŽDUOTYS

**1** Duoti skaičiai 263, 362, 627, 326, 236. Apskaičiuok didžiausio ir mažiausio skaičiaus skirtumą ir sumą.

**2** Apskaičiuok figūros plotą.



**3** Rudenį darželyje pražydo 17 raudonų jurginų, geltonų – 5 kartus daugiau negu raudonų, o rausvų – 37 mažiau negu geltonų. Kiek jurginų pražydo darželyje?

**4** Nemunas – ilgiausia Lietuvos upė. Keturi šimtai šešiasdešimt du kilometrai jos yra ne Lietuvos teritorijoje, o keturi šimtai septyniasdešimt penki kilometrai – Lietuvoje. Apskaičiuok Nemuno ilgį.

**5** Riešutėliuose įrašyk tokius skaitmenis, kad lygybės būtų teisingos.

5 ◯ ◯ + ◯ 3 ◯ + 1 ◯ ◯ = 1000

◯ 4 ◯ + 2 ◯ ◯ + ◯ ◯ 9 = 1000

Gavau ☐ .

| LENGVA | TEKO PAGALVOTI | SUNKU |
|---|---|---|

LIVEWORKSHEETS