NAMA : _____ **KELAS :** _____

1. Suaikan setiap plot kotak yang berikut dengan bentuk taburannya yang betul. **TP2**

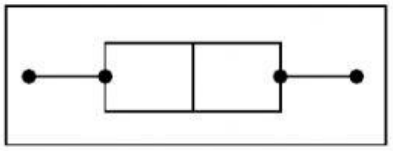

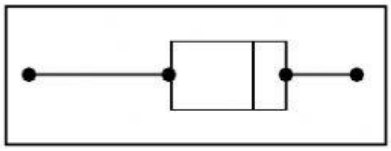

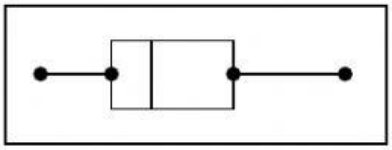

Taburan pencong ke kanan

Taburan simetri

Taburan pencong ke kiri

2. Ogif menunjukkan jisim, dalam kg, tanah baja yang berjaya dimasukkan ke dalam guni kecil oleh sekumpulan 80 pekerja di sebuah kilang.

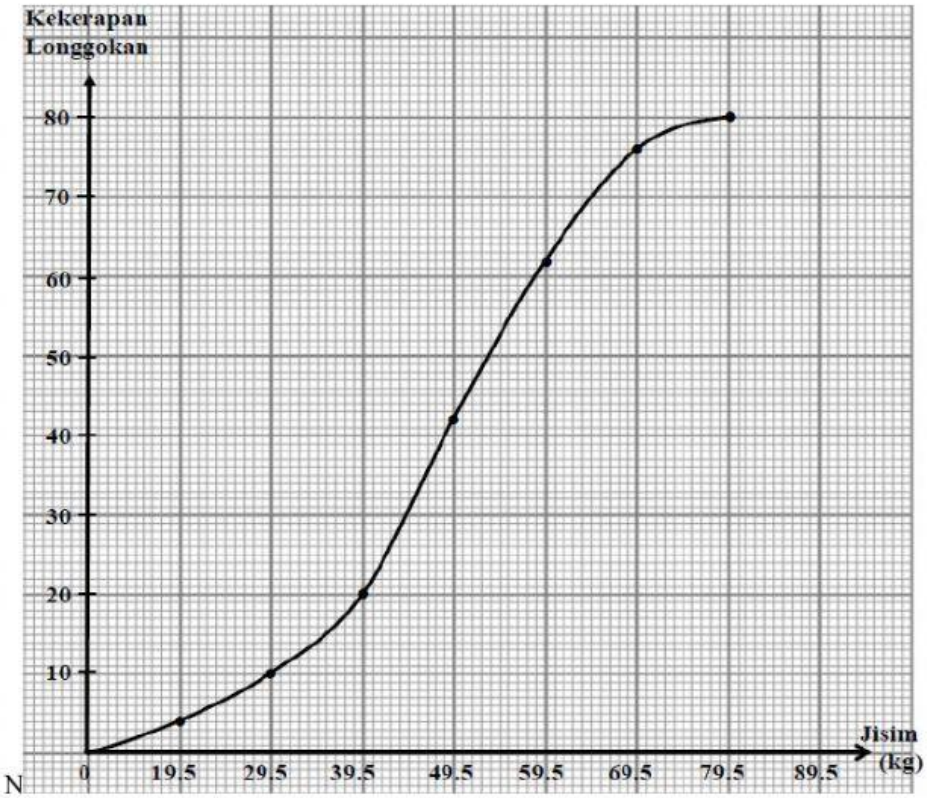

N

MathsIsEasybyCikguNoorAzuwanti

LIVEWORKSHEETS

(a) Berdasarkan ogif di atas, bina 1 plot kotak. **[GUNA KERTAS GRAF. TULIS 'PLOT KOTAK NO.5]** ***{GAMBAR KOTAK YG TELAH DILUKIS, SNAP GAMBAR DAN HANTAR KE GURU}***

[3 Markah]



(b) Seterusnya, nyatakan bentuk taburan bagi plot kotak itu.

[1 Markah]

3. **<u>RUJUK GRAF OGIF NO 11 (b) di Topik 7.1</u>**.

(a) Seterusnya bina satu plot kotak berdasarkan ogif tersebut. Berdasarkan ogif di atas, bina 1 plot kotak. **[GUNA KERTAS GRAF. TULIS 'PLOT KOTAK NO.6]** ***{GAMBAR KOTAK YG TELAH DILUKIS, SNAP GAMBAR DAN HANTAR KE GURU}.***

[3 Markah]



(b) Seterusnya, nyatakan bentuk taburan bagi plot kotak itu.

[1 Markah]

LIVEWORKSHEETS

4) **<u>RUJUK GRAF OGIF NO 12 (b) di Topik 7.1</u>**.

(a) Seterusnya bina satu plot kotak berdasarkan ogif tersebut. Berdasarkan ogif di atas, bina 1 plot kotak.**[GUNA KERTAS GRAF. TULIS 'PLOT KOTAK NO.6]** ***{GAMBAR KOTAK YG TELAH DILUKIS, SNAP GAMBAR DAN HANTAR KE GURU}.***

[3 Markah]

(b) Seterusnya, nyatakan bentuk taburan bagi plot kotak itu.

[1 Markah]

LIVEWORKSHEETS