I numeri relativi e gli insiemi numerici

Scegli la risposta corretta

Se la temperatura cresce da - 15 °C a + 5 °C , qual è l'aumento di temperatura avvenuto?

A - 10°C

B 10 °C

C 20 °C

D 25 ° C

Il valore di (3 – 4) – (5 – 6) è

Vero o Falso ?

La somma di due numeri opposti è 0	Vero	Falso
La somma di due numeri negativi è un numero positivo	Vero	Falso
Il prodotto di due numeri negativi è negativo	Vero	Falso
Il quoziente di due numeri discordi è negativo	Vero	Falso

Collega ad ogni operazione il risultato corretto

(-3) + (+5) =	- 1
(- 5) – (- 4) =	- 8
(- 2) * (+4)=	+ 2
(+16) : (+ 2) =	+ 8

Completa con il valore corretto le seguenti operazioni

(+3) * (....) = +15

(....) * (-3) +4 = + 10

(- 25) : (....) = +5

(+6) * (-4) * (.....) = +48

LIVEWORKSHEETS

Osserva la retta numerica e rispondi alle domande

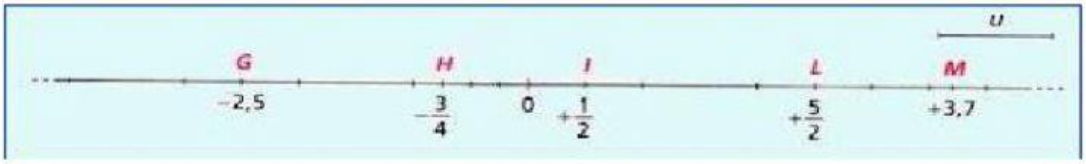

G > -1	VERO	FALSO
H < 0	VERO	FALSO
I > G	VERO	FALSO
L< M	VERO	FALSO

Abbina la definizione all' immagine corrispondente

INSIEME DEI NUMERI RAZIONALI

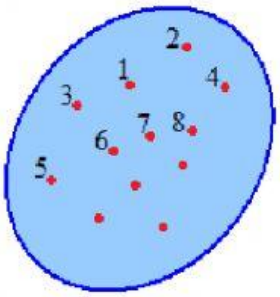

INSIEME DEI NUMERI NATURALI

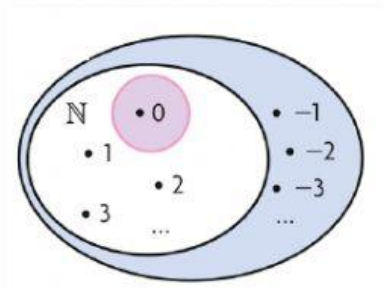

INSIEME DEI NUMERI RELATIVI

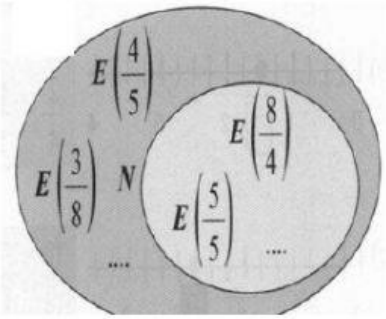

LIVEWORKSHEETS