PHIẾU BÀI TẬP MÔN TOÁN LỚP 1

Mã: 1212

Ngày …… tháng …… năm 2021

Họ và tên: …… Lớp: ……

Nhận xét của giáo viên: ……

Bài 1. Chọn nhóm có số nhiều hơn.

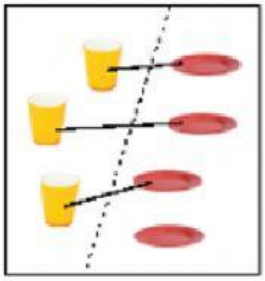

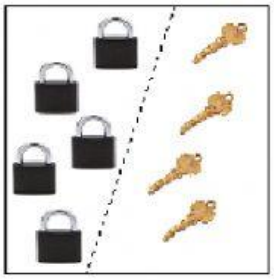

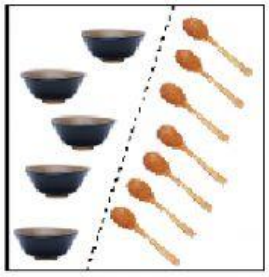

Bài 2. Nối số các nhóm đồ vật bằng nhau.

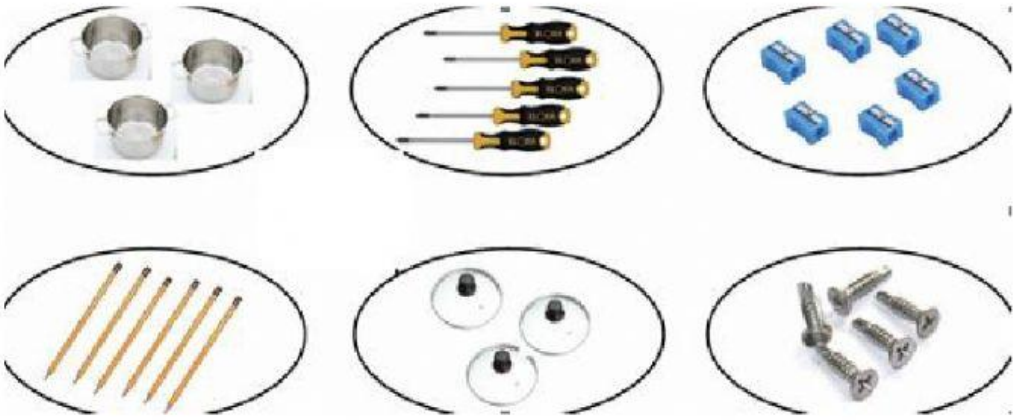

Bài 3. Đúng ghi Đ, sai ghi S vào ô trống.

a) Số **nhiều hơn** số . ☐

b) Số **ít hơn** số . ☐

c) Số **bằng** số . ☐

LIVEWORKSHEETS