ASESMEN KOMPETENSI MINIMUM

NUMERASI

Nama : _____

Kelas : _____

LIVEWORKSHEETS

Soal 14

Dimas, Suta dan Beta bermain susun balok dengan cara menyusun balok sesuai pola. Wasit akan meletakkan balok-balok yang masing-masing berisi satu bilangan pada lapisan paling bawah, kemudian pemain melanjutkan menyusun balok-balok pada lapisan di atasnya. Pemain yang meletakkan balok paling banyak menjadi pemenangnya, sedangkan pemain yang salah dalam meletakkan balok, tidak boleh melanjutkan permainan

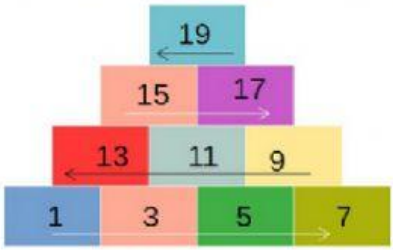

Permainan berlanjut. Permainan sudah sampai ke lapisan kedua!

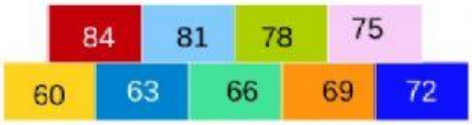

Pernyataan berikut benar atau salah?

Pernyataan	Benar	Salah
Ada balok dengan bilangan 91 pada lapisan ketiga.		
Balok yang ada dipuncak bertuliskan bilangan 102.		
Ada balok bertulis bilangan 96 di lapisan keempat.		

LIVEWORKSHEETS

Soal 15

Dimas, Suta dan Beta bermain susun balok dengan cara menyusun balok sesuai pola. Wasit akan meletakkan balok-balok yang masing-masing berisi satu bilangan pada lapisan paling bawah, kemudian pemain melanjutkan menyusun balok-balok pada lapisan di atasnya. Pemain yang meletakkan balok paling banyak menjadi pemenangnya, sedangkan pemain yang salah dalam meletakkan balok, tidak boleh melanjutkan permainan

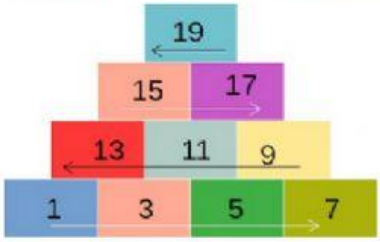

Permainan semakin seru! Lanjut ke putaran selanjutnya.



Setelah menyelesaikan lapisan kedua, wasit merasa ada yang kurang tepat dengan susunan balok pada permainan kali ini.

Apa yang salah? Dapatkah kamu membantu wasit?

LIVEWORKSHEETS

Soal 16

Pesawat Terbang

Pada saat terbang pada ketinggian tertentu suhu di dalam pesawat adalah 21° C, sedangkan suhu di luar pesawat 34° C di bawah nol.

Berdasarkan wacana di atas, tentukan Benar atau Salah pernyataan berikut!

Pernyataan	Benar	Salah
Pada saat akan menggambarkan pada garis bilangan, angka 34 terletak di sebelah kiri angka 0 (nol).		
Selisih suhu di dalam pesawat dengan suhu di luar pesawat adalah 13° C.		

LIVEWORKSHEETS

Soal 17

Pada saat terbang pada ketinggian tertentu suhu di dalam pesawat adalah 21° C, sedangkan suhu di luar pesawat 34° C di bawah nol.

Setiap naik 80 meter, suhu udara di luar pesawat akan turun 0,50° C. Jika ketinggian pesawat naik 2.400 meter, berapakah suhu udara di luar pesawat?

A	-15° C
B	-19° C
C	-30° C
D	-49° C

Soal 18

Perhatikan gambar termometer berikut!

Sekarang di Belanda sedang musim dingin dengan suhu 10° C. Setelah turun salju, suhunya turun 17 derajat.

Suhu sekarang adalah ....

A	-7° C
B	-10° C
C	-17° C
D	-27° C

LIVEWORKSHEETS