Raciocínio Lógico

NOME:

PROFESSORA: ***Cledna***

ADIVINHE O CÓDIGO



O CÓDIGO NUMÉRICO TEM 3 DÍGITOS

DICA

6 8 2
Um número correto e no lugar certo.

6 1 4
Um número correto, mas no lugar errado.

2 0 6
Dois números corretos, mas no lugar errado.

7 3 8
Nada está correto.

7 8 0
Um número correto, mas no lugar errado.

LIVEWORKSHEETS

Essa é ilustrativa, ok?

LIVEWORKSHEETS

Desafio de Matemática - Quem acertar curte e compartilha



Construa a pirâmide arrastando os números para os seus lugares corretos. Cada número da pirâmide, a partir da segunda camada, deve ser igual à soma dos dois números que estão abaixo dele.

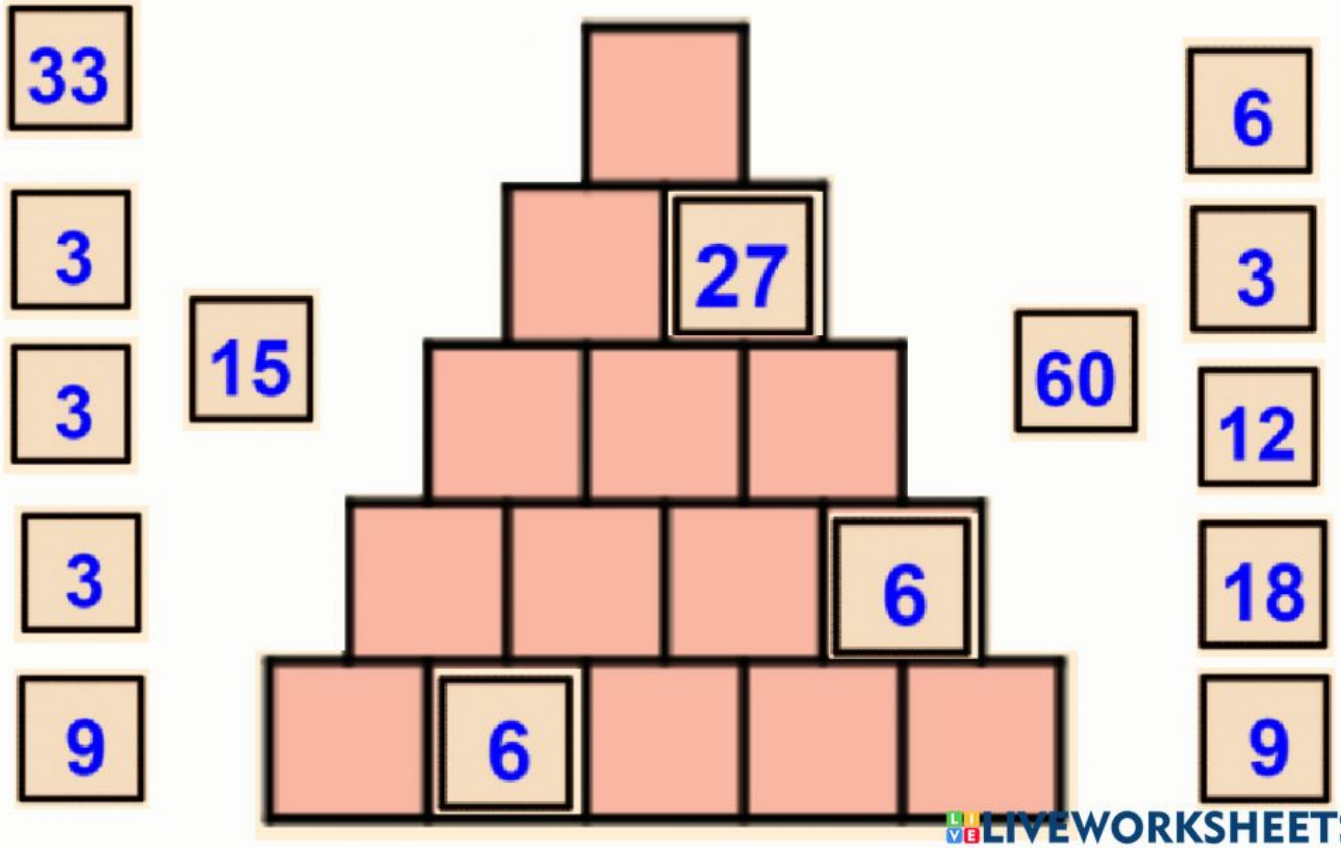

LIVEWORKSHEETS