1 Hitung setiap nilai yang berikut.

(a) 8% daripada 25

(c) 20% daripada 60 kg

(e) 156% daripada 100

(g) 110% daripada 70

(b) 40% daripada 630

(d) 65% daripada 320

(f) 140% daripada 180 m

(h) 30.5% daripada RM400

2 Warnakan setiap rajah berikut mengikut peratus yang diberi.

(a) 37%

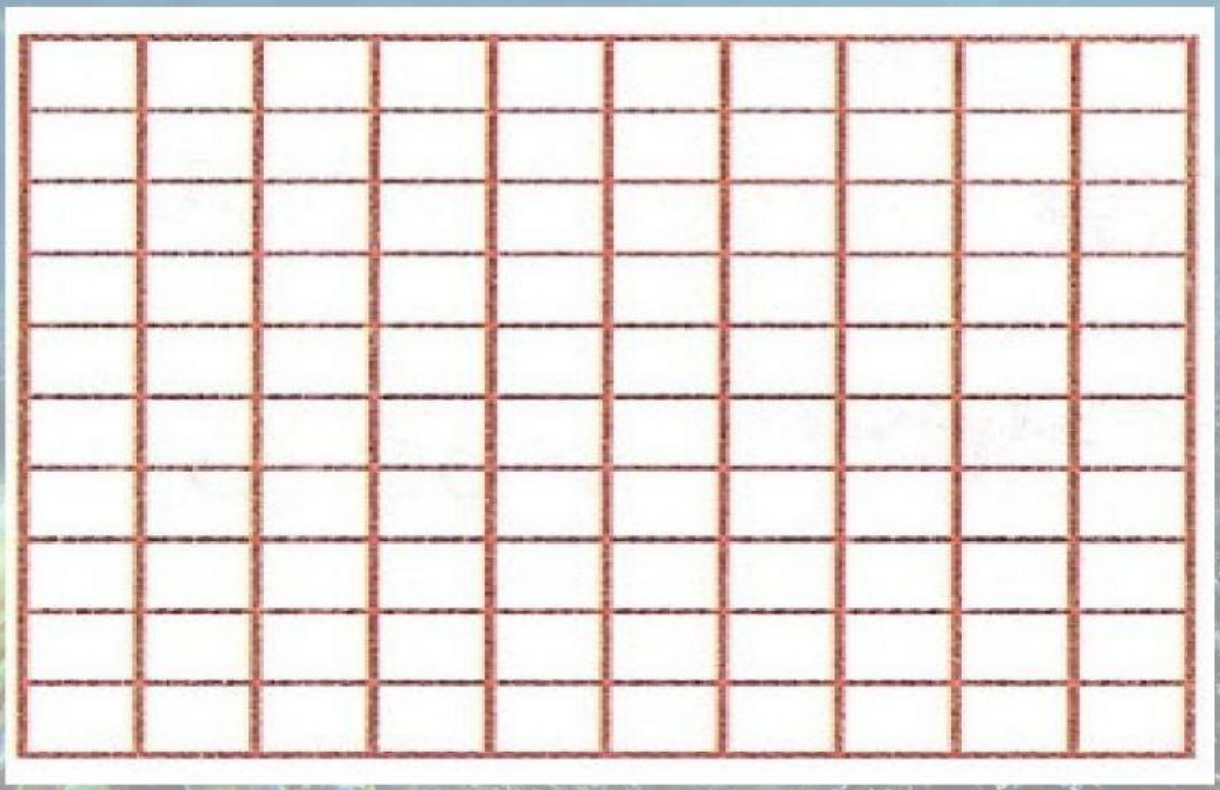

LIVEWORKSHEETS

2 Warnakan setiap rajah berikut mengikut peratus yang diberi.

(b) 60%

(c) 75%

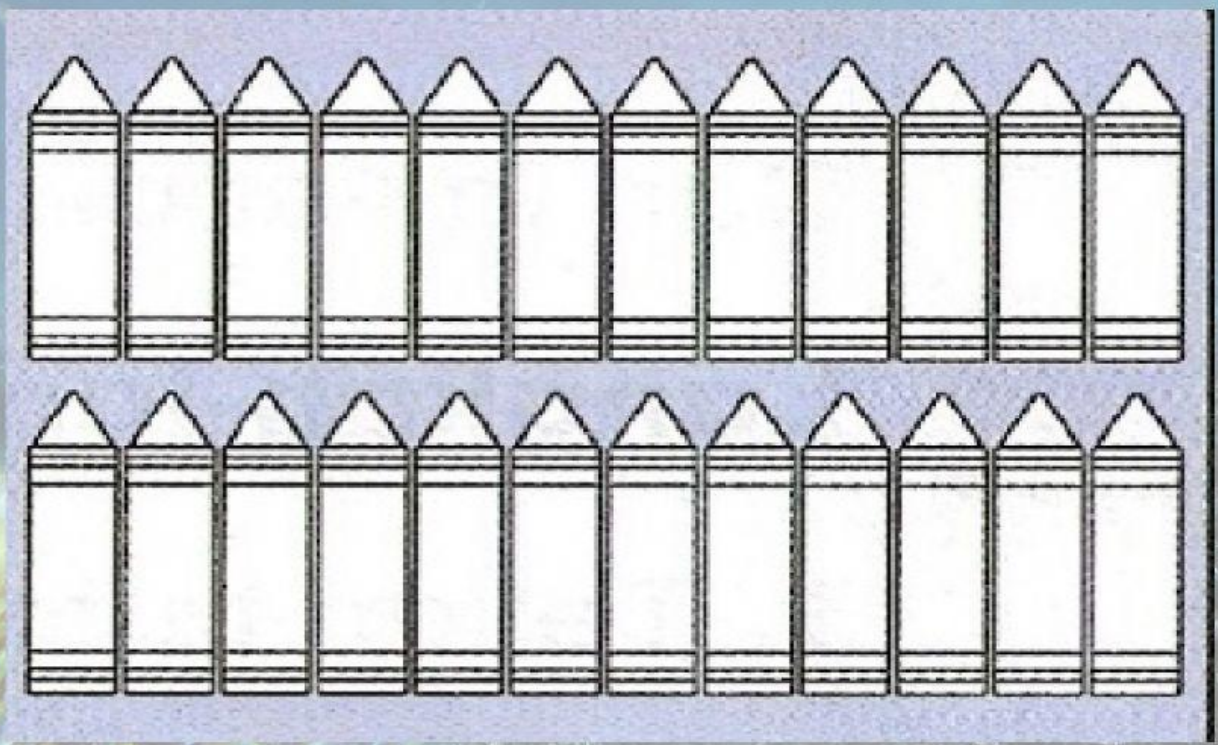

LIVEWORKSHEETS

2 Warnakan setiap rajah berikut mengikut peratus yang diberi.

40%

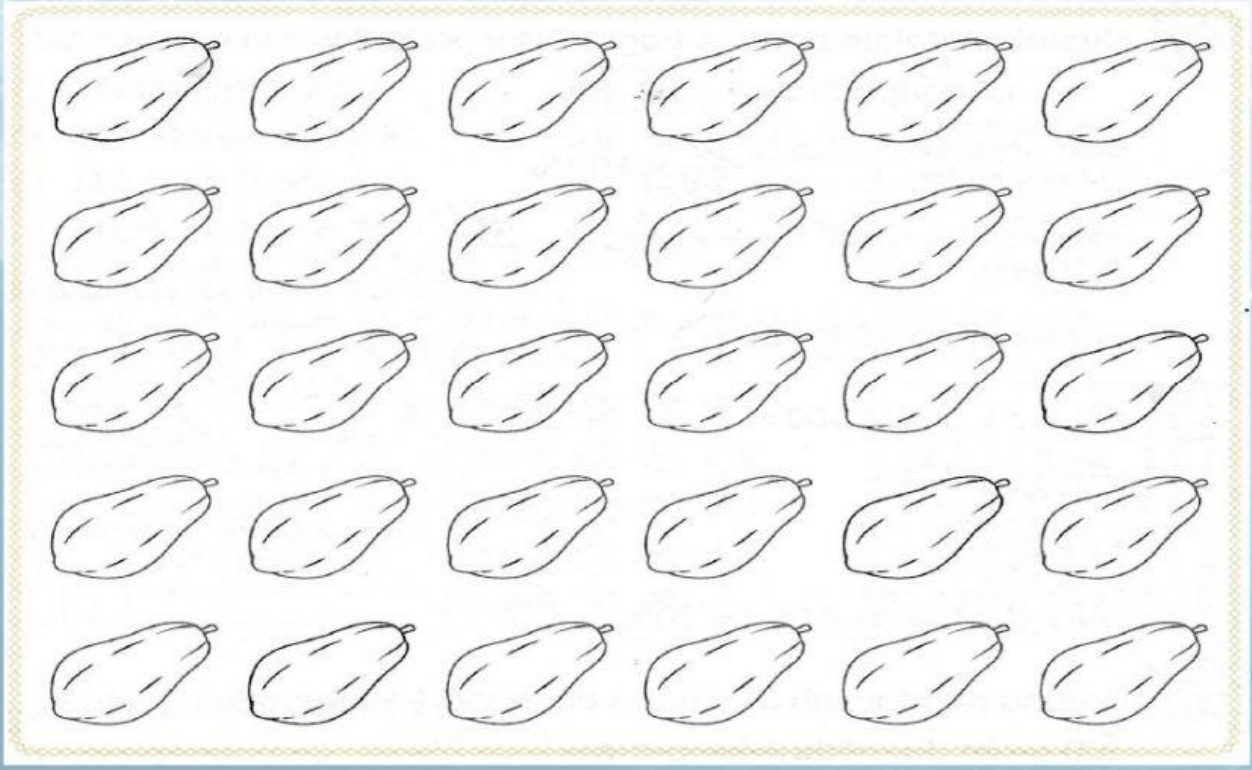

3 Nyatakan dalam bentuk peratus.

(a) 36 daripada 45

(c) 27 daripada 20

(e) 52 cm daripada 40 cm

(b) 8 daripada 25

(d) 90 sen daripada RM3

(f) 12 buku daripada 15 buku

LIVEWORKSHEETS

4 Sekolah Kebangsaan Aman Damai mempunyai 1 300 orang murid. 55% daripada jumlah murid itu layak mendapat Bantuan Khas Awal Persekolahan (BKAP).
Hitung bilangan murid yang layak.

$= \frac{\square}{\square} \times \square$

$= \square \times \square$

$= \square$ orang murid

5 Satu larian amal diadakan untuk mengumpul dana bagi tabung kebajikan sekolah. Seramai 147 orang atau 35% daripada peserta yang terlibat ialah perempuan.
Kira jumlah peserta yang mengambil bahagian dalam larian itu.

$= \square$ orang peserta

LIVEWORKSHEETS