LKPD T3 St1 Pb1 Kelas 3

Nama :

Kelas :

1. Pilihlah (benar/salah) pada gambar dibawah ini yang termasuk benda!

2. Cocokkanlah benda-benda dibawah dikelompokkan berdasarkan sifat fisiknya!

Warna

Ukuran

Bentuk

LIVEWORKSHEETS

3. Lengkapilah tabel dibawah ini!

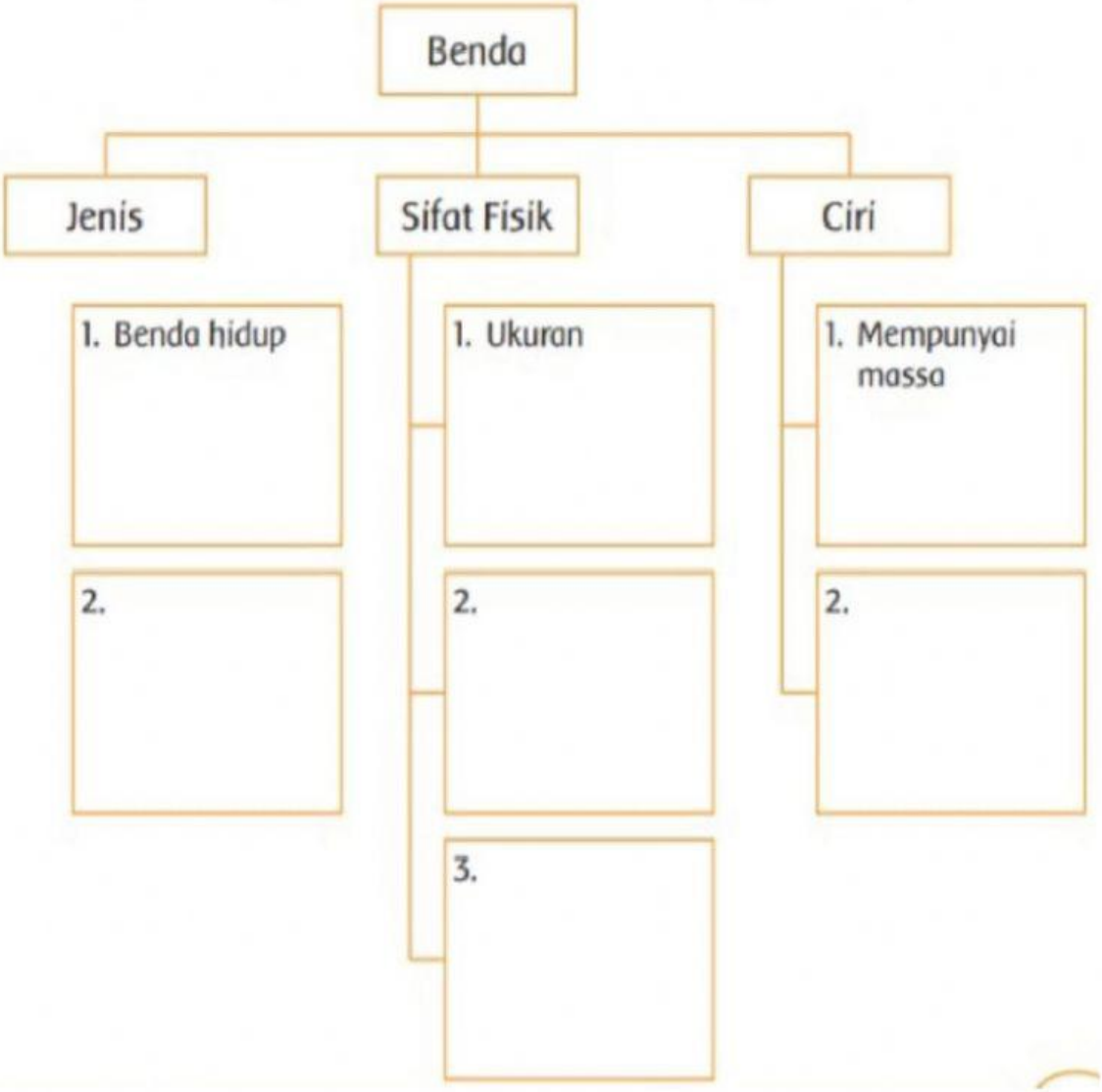

4. Sebutkan nama benda-benda dibawah ini!



LIVEWORKSHEETS

5. **Tentukanlah hasil pengukuran pada gambar benda-benda dibawah ini!**



6. **Alat musik ritmis adalah ....**

7. **Gambar alat musik dibawah adalah alat musik ....**

8. **Berlatih membuat pola irama lagu dengan menggunakan alat musik .... atau ....**

9. **Tulislah arti gambar simbol ketukan diatas !**

10. **Lagu Teka-Teki merupakan ciptaan ....**

LIVEWORKSHEETS