Fitxa de reforç de matemàtiques

1. Relaciona cada suma amb el seu resultat. Pots fer les sumes a la llibreta si ho necessites.

42+12=	89
36+22=	97
29+60=	88
15+72=	54
34+14=	59
73+15=	87
50+47=	48
25+34=	58

2. Ordena els resultats anteriors del més menut al més gran.

☐ < ☐ < ☐ < ☐ < ☐ < ☐ < ☐ < ☐

3. Escriu els números.

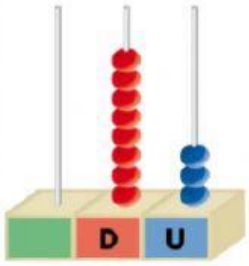

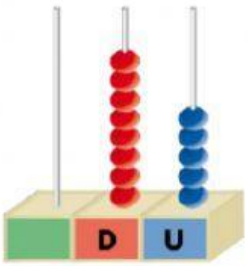

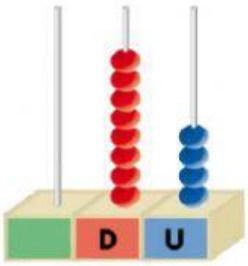

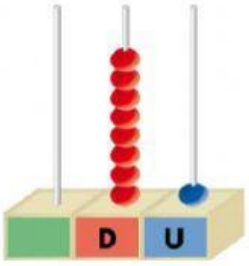

LIVEWORKSHEETS