NAMA SDN SEMANAN 07 PT UJIAN TENGAH SEMESTER TAHUN PELAJARAN 2020/2021	Nama :
Mata Pel : Tema 1 (Subtema 1 &2) Kelas : I (Satu) Waktu : 90 menit Tanggal :	No. Absen :
	Nilai :

Berikan tanda silang (x) pada jawaban yang benar !

1. Sebelum dan sesudah beraktivitas sebaiknya ..

   a. Berdoa c. Berdebat

   b. berbicara d. Berdamai

2. Saat masuk dan keluar kelas hendaknya ...

   a. Mengucap Kata c. Mengucap Selamat

   b. Mengucap salam d. tidak Berbicara

3. Urutan 5 huruf abjad pertama adalah…

   a. A b c e d c. A b c d e

   b. A b d e c d. A b e c d

4. Rangkailah huruf berikut ini agar menjadi sebuah nama : i – b – n – u…

   a. ibnu c. bnui

   b. inub d. iubn

5. Urutan huruf abjad *f a b e c d g* yang benar adalah…

   a. a b c d e f c. a b c d f e

   b. a b d c e f d. a b c e d f

6. Huruf depan dari nama "Siti"adalah…

   a. I c. S

   b. T d. I

7. Angka yang menunjukkan jumlah banyaknya benda di dalam kotak di bawah ini adalah..

   a. 8 c. 6

   b. 7 d. B & C

LIVEWORKSHEETS

8. Urutan bilangan dari urutan terkecil ke yang ter besar dari *1 5 2 4 3* adalah..

a. 1 2 4 3 5 c. 1 2 5 4 3

b. 1 2 3 4 5 d. 1 2 3 5 4

9. Urutan 5 angka yang dimulai dari angka 4 ke angka 9 yang benar adalah..

a. 4 5 7 6 8 9 c. 4 5 6 8 7 9

b. 4 5 6 7 8 9 d. 4 5 8 7 6 9

10. Ada berapa banyak anak perempuan pada gambar di bawah ini….

a. 3 anak c. 1 anak

b. 2 anak d. 4 anak

11. Ketika makan hendaknya menggunakan tangan…

a. Tangan kiri c. Kedua tangan

b. Tangan kanan d. Semuan tangan

12. ketika membaca posisi tubuh harus..

a. Tegap c. bungkuk

b. Lemas d. bengkok

13. Tempat untuk membaca buku sebaiknya…

a. Tempat yang bersih c. Tempat yang terang

b. Temapat yang indah d. Tempat yang redup

14. Susunan huruf yang tepat dari kata *Eshat* adalah..

a. Sehat c. Tehas

b. Hesat d. ehats

15. Jumlah kacamata yang ada pada gambar di bawah ini adalah..

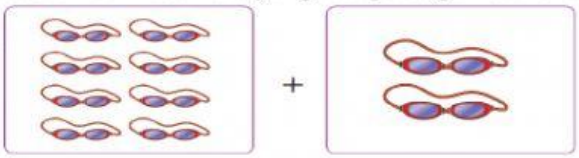

a. 10 c. 12

b. 8 d. 14

LIVEWORKSHEETS

6. Dayu membawa 3 kok untuk bermain bulu tangkis. Lani membawa 4 kok. Berapakah jumlah kok ya dibawa Dayu dan Lani….

a. 5
b. 7
c. 11
d. 9

7. Hitunglah jumlah orang yang ada di bawah ini !

a. 10
b. 12
c. 8
d. 14

18. Lambang bilangan yang sesuai dengan namanya adalah...

1. delapan= 8
   dua = 2
   tiga = 3
2. bdelapan= 3
   dua = 2
   tiga = 8
c. delapan= 8
   dua = 3
   tiga = 2
d. delapan= 2
   dua = 8
   tiga = 3

19. Perhatikan gambar di bawah ini!

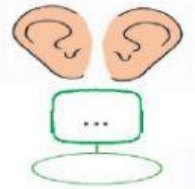

Lambang dan nama bilangan yang tepat untuk gambar di atas adalah..

a. dua = 2
b. tiga= 3
c. empat = 4
d. dua = 2

20. Perhatikan gambar di bawah ini!

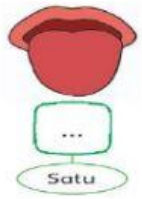

lambang bilangan yang tepat untuk gambar di atas adalah..

a. 1
b. 2
c. 3
d. 4

LIVEWORKSHEETS

Jawablah pertanyaan di bawah ini dengan tepat !

21. Apa yang kamu lakukan ketika sampai di rumah…

22. Sebutkan 3 cara memberi salam yang bena!

23. Agar mendapatkan tubuh yang bersih kita harus…

24. Saat kita makan, hendaknya kita makan dengan sikap..

25. Setelah bermain kita harus mencuci…

26. Susunlah huruf dibawah ini mwnjadi kata yang tepat!
    a. Etsah

    b. Erbish

27. sebutkan anggota tubuh yang terdapat pada lagu di bawah ini!

LIVEWORKSHEETS

28. Tuliskan lambang bilangan yang sesuai dengan namanya.

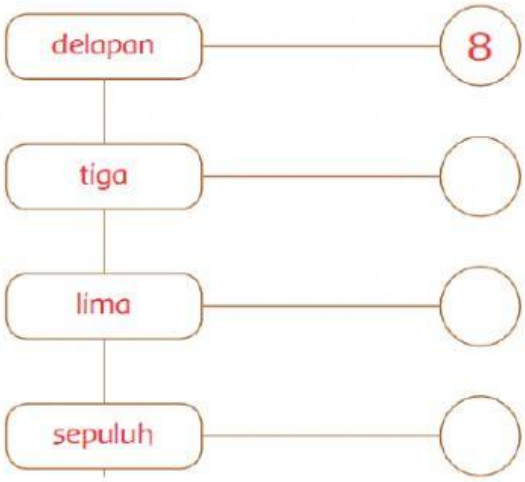

29. Pasangkan lambang bilangan dengan namanya.

30. Temukan pasangan gambar yang sama banyak.

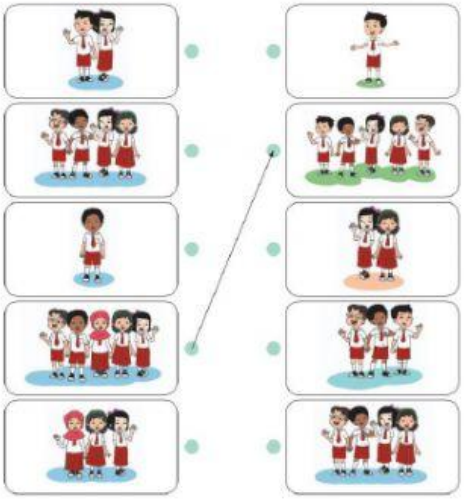

LIVEWORKSHEETS

LIVEWORKSHEETS