تمرين

ظلل النموذج، ثم اكتب كل عدد بصيغة كلامية وفي هيئة عدد عشري.

1. $\frac{7}{10}$



2. $\frac{62}{100}$



3. $\frac{91}{1,000}$

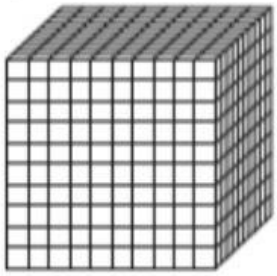

4. $\frac{75}{1,000}$

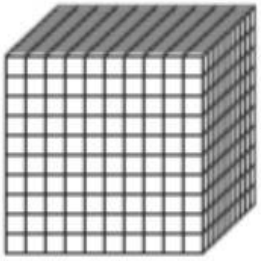

حقوق الطبع والتأليف © محفوظة لصالح مؤسسة محمد بن راشد للتعلم الذكي

Mohammed Bin Rashid Smart Learning Program

اكتب كل كسر على هيئة عدد عشري.

5. $\frac{15}{100}$ = _____

6. $\frac{129}{1,000}$ = _____

7. $\frac{17}{100}$ = _____

8. $\frac{8}{10}$ = _____

9. $\frac{815}{1,000}$ = _____

10. $\frac{2}{10}$ = _____

LIVEWORKSHEETS