lengurutkan pecahan uang logam

ecahan uang logam dapat kalian urutkan.

rutan uang dari yang terkecil, yaitu

yo Berlatih 1 | **Matematika (KD 3.5)** | **Asesmen Pengetahuan** | **Nume**

Ayo, kerjakan soal-soal berikut dengan teliti!

1. Bandingkan nilai pecahan mata uang berikut!
   Tuliskan **lebih kecil dari** atau **lebih besar dari**!

   a. 

   b. 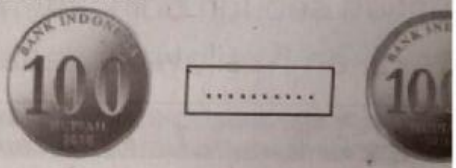

2. Tuliskan urutan nilai uang berikut mulai dari yang terkecil!



ikator | *Membandingkan berbagai nilai pecahan uang logam.*

LIVEWORKSHEETS