แบบฝึกหัดเรื่อง ปริมาตรรูปทรงสี่เหลี่ยมมุมฉาก ชั้นประถมศึกษาปีที่ 5

ชื่อ.....เลขที่.....

จงหาปริมาตรของรูปภาพในแต่ละข้อต่อไปนี้

กำหนดให้ มีปริมาตร 1 ลูกบาศก์หน่วย

ตัวอย่าง  .....19.....

1) 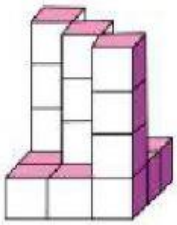

(ฐานเป็นทรงสี่เหลี่ยมมุมฉาก)

.....

2) 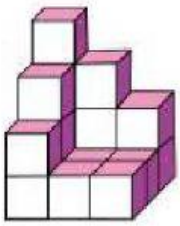

(ฐานเป็นทรงสี่เหลี่ยมมุมฉาก)

.....

3) 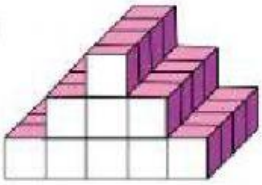

(ฐานเป็นทรงสี่เหลี่ยมมุมฉาก)

.....

4) 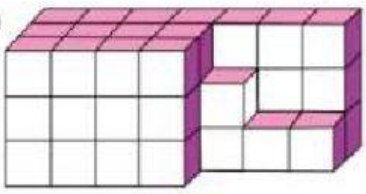

.....

LIVEWORKSHEETS