Escola _____

Professora: _____

Estudante : _____ data:____/_____/____

Marcando as horas e minutos

1. Assista o vídeo

2. Responda sobre os relógios analógicos:

	O ponteiro menor indica a _____. O ponteiro maior indica os _____. Para contar os minutos de um número para o outro a tabuada de multiplicação do número ____.

3. A aula na Escola Crescer inicia às 13:00. A professora Tereza pediu para seus alunos marcarem no relógio da sala os seus horários preferidos. Robert marcou o horário da entrada e Magda o horário do lanche. Observe a imagem abaixo e responda em algarismo:

LIVEWORKSHEETS

Que horas Robert marcou? _____ E Magda? _____

4. O horário da educação física da escola é de 10:00, observe o relógio abaixo e escreva com quantos minutos de atraso chegou Roni.

Que horas são?

Marque as horas e minutos digital que correspondem ao relógio analógico.



10:00
9:00
8:00



1:30
3:30
4:30

5:00
12:00
3:00

4:00
3:00
9:00



1:30
12:30
6:30



2:30
3:30
3:00

8:30
9:30
10:30



3:00
2:00
1:00

LIVEWORKSHEETS