Họ tên:

Lớp:

1 Số?

a)

Số hạng	6	6	6	6	6	6
Số hạng	4	5	6	7	8	9
Tổng	10		12			

b)

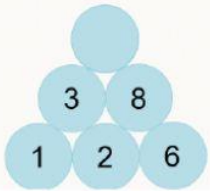

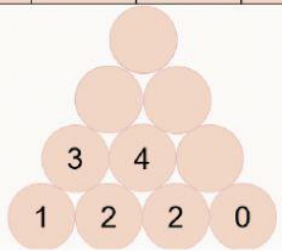

2 Số?

a)

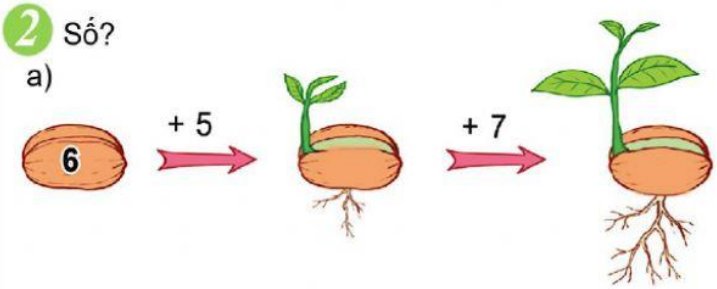

b)



LIVEWORKSHEETS

3 Nối hai phép tính có cùng kết quả:

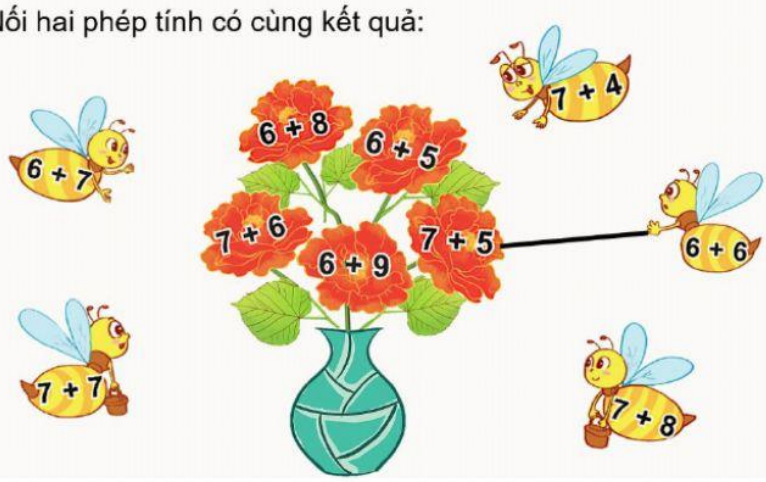

4 Đoàn tàu chở hàng có 4 toa đã ra khỏi đường hầm, còn 7 toa ở trong đường hầm. Hỏi đoàn tàu đó có tất cả bao nhiêu toa?

☐ + ☐ = ☐

LIVEWORKSHEETS