1. Omple les caselles amb la suma dels 2 nombres que hi ha a sobre.

Si ho necessites, enregistra les operacions. Si les fas mentalment, enregistra la que més t'hagi costat calcular.

LIVEWORKSHEETS

2. Completa les Capsetes Additives.

100	100	100	100
56	88	27	65
100	100	100	100
25	95	50	70
75	92	26	73
5	80	0	29

LIVEWORKSHEETS

1. Indica quin nombre està representat i fes-ne el doble.



El doble de ____ és ____.

El doble de ____ és ____.



El doble de ____ és ____.

El doble de ____ és ____.

LIVEWORKSHEETS

2. Indica quin nombre està representat i guixa'n la meitat.



La meitat de _____ és _____.



La meitat de _____ és _____.

La meitat de _____ és _____.



La meitat de _____ és _____.

LIVEWORKSHEETS