Membuat Hipotesis

Perhatikan rajah dan lengkapkan ayat.

1.

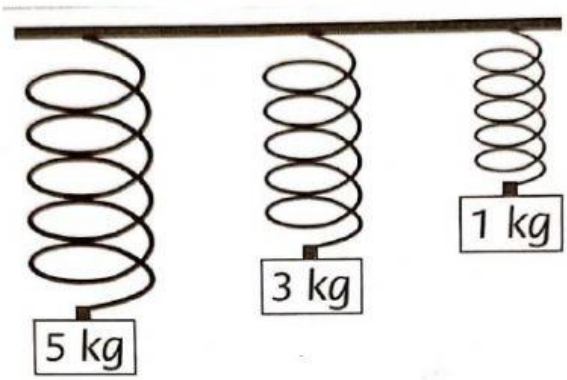

Pemberat berlainan jisim digantung pada spring yang sama jenis.

a. Pemboleh ubah :

i. Dimanipulasi : _____

ii. Bergerak balas : _____

b. Hipotesis:

Semakin bertambah _____

semakin bertambah _____

LIVEWORKSHEETS

2.



Lilin bernyala di dalam tiga bekas yang berlainan saiz . Lilin- lilin mula padam selepas beberapa ketika.

c. Pemboleh ubah :

i. Dimanipulasi : _____

ii. Bergerak balas : _____

d. Hipotesis :

Semakin _____

semakin _____

LIVEWORKSHEETS

3.



Aini dan Siew Chin meletakkan seketul ais berisi padu 100 cm^3 di dalam sebuah piring di dalam sebuah bilik bersuhu 25°C.

e. Pemboleh ubah :

i. Dimanipulasi : _____

ii. Bergerak balas : _____

f. Hipotesis:

Jika _____

maka _____ akan berlaku.

LIVEWORKSHEETS