1) Observa y completa:

a)



¿Cuántos globos hay en total?, 5 x 3 = ... , hay ..... globos.



¿Cuántos globos recibe cada niño?, 15: 5 = ... ,

Cada niño recibe ..... globos.



¿Cuántos globos recibe cada niño?, 15: 3 = ... ,

Cada niño recibe ..... globos.