# แบบฝึกหัดวิชาวิทยาศาสตร์ 5

## เรื่อง การสะท้อนของแสง

ชื่อ _____ ชั้น ม.3/ ____ เลขที่ ____

1. จงเติมข้อความในช่องว่างให้สมบูรณ์

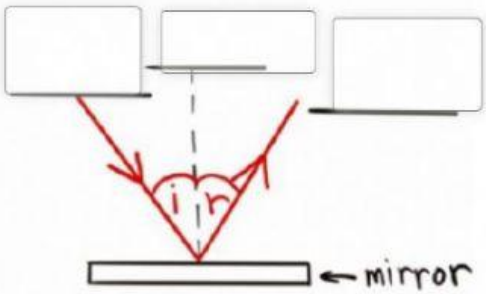


i คือ .....

r คือ .....

2. จากภาพการสะท้อนของแสง จงหาค่าของมุม x ต่อไปนี้

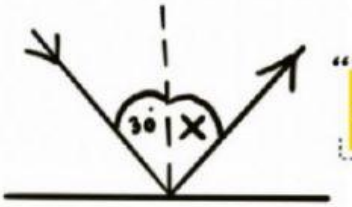


x = ____

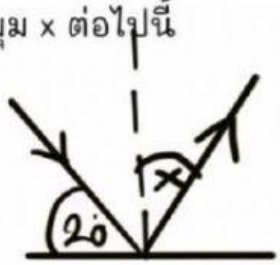


x = ____

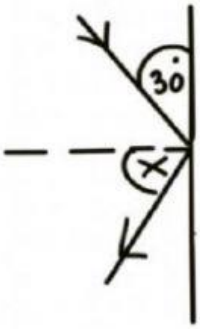


x = ____

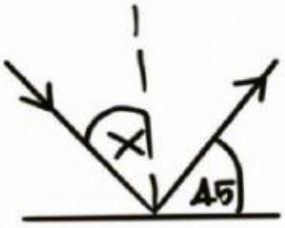


x = ____

4. จากรูปการสะท้อนของกระจก จงตอบคำถามต่อไปนี้

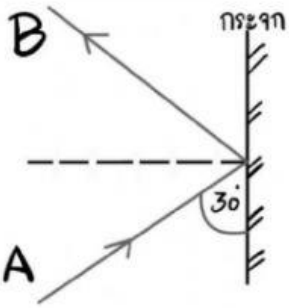


- รังสีใดคือรังสีตกกระทบ ____
- รังสีใดคือรังสีสะท้อน ____
- มุมตกกระทบมีขนาดกี่องศา ____
- มุมสะท้อนมีขนาดกี่องศา ____
- รังสีสะท้อนทำมุมกับแนวกระจกกี่องศา ____

LIVEWORKSHEETS